Determina il Valore della Posizione con i Blocchi

Nome:

Risolvi ogni problema.

1)

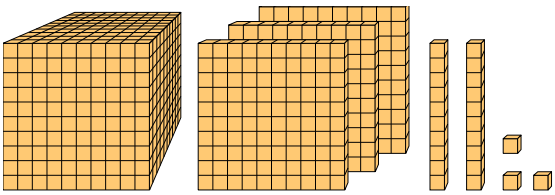

Quale cifra è nella posizione decine nel numero qui sopra?

2)

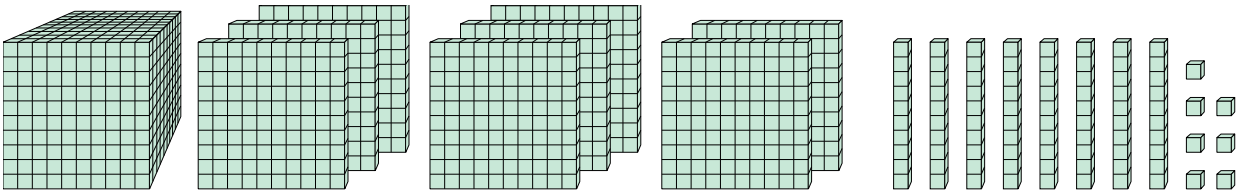

Quale cifra è nella posizione billions nel numero qui sopra?

3)

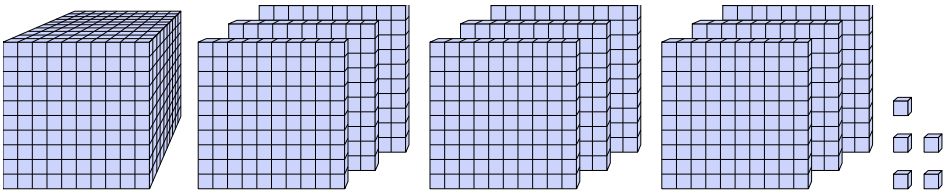

Quale cifra è nella posizione decine nel numero qui sopra?

4)

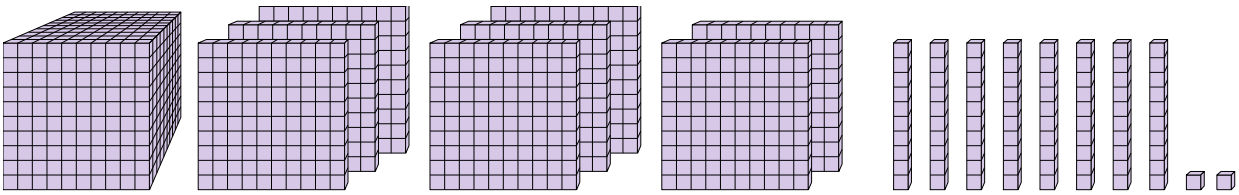

Quale cifra è nella posizione centinaia nel numero qui sopra?

5)

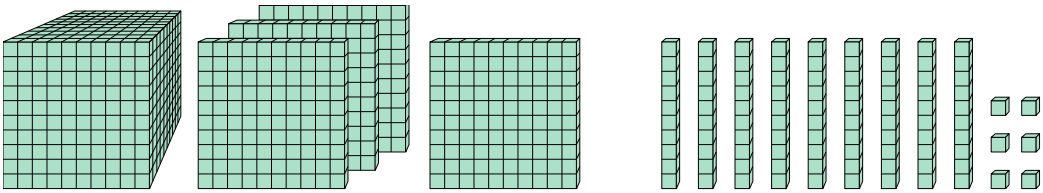

Quale cifra è nella posizione unità nel numero qui sopra?

6)

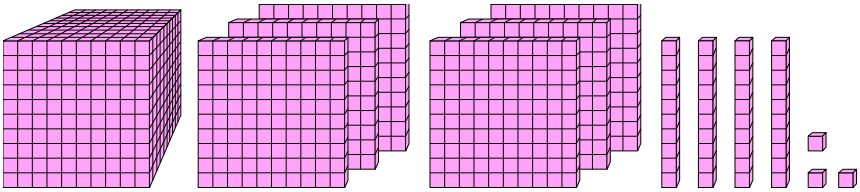

Quale cifra è nella posizione unità nel numero qui sopra?

Risposte

1. _____
2. _____
3. _____
4. _____
5. _____
6. _____

Determina il Valore della Posizione con i Blocchi Nome: **Soluzioni**

Risolvi ogni problema.

1)

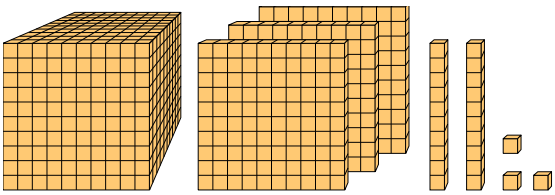

Quale cifra è nella posizione decine nel numero qui sopra?

2)

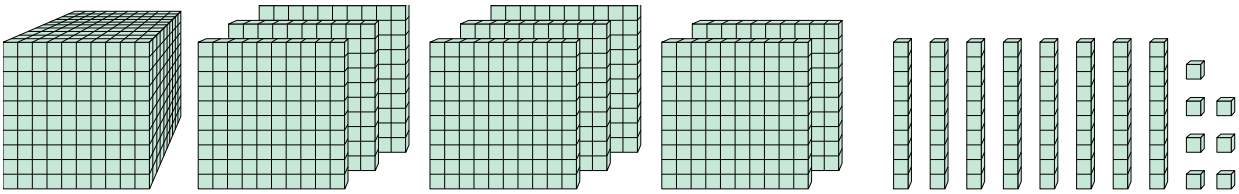

Quale cifra è nella posizione billions nel numero qui sopra?

3)

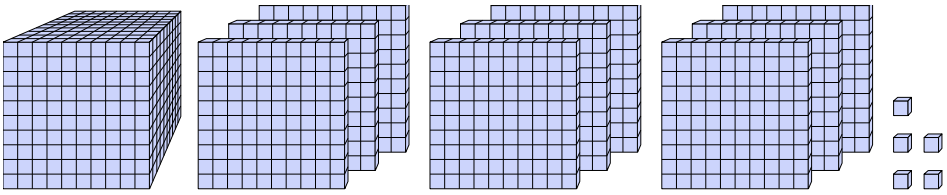

Quale cifra è nella posizione decine nel numero qui sopra?

4)

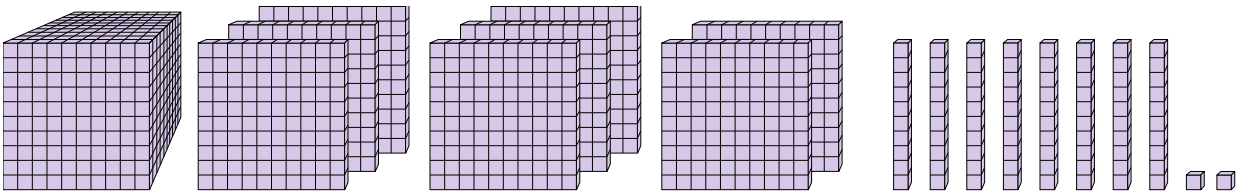

Quale cifra è nella posizione centinaia nel numero qui sopra?

5)

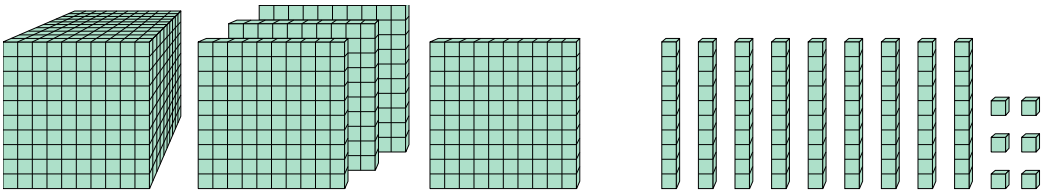

Quale cifra è nella posizione unità nel numero qui sopra?

6)

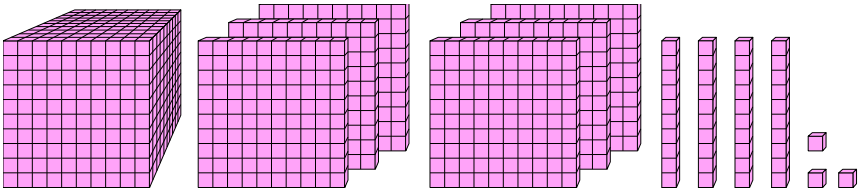

Quale cifra è nella posizione unità nel numero qui sopra?

Risposte

1. 2
2. 8
3. 0
4. 1
5. 6
6. 3