Trovare l'ora di inizio con una linea numerica Nome:

Risolvi ogni problema.

1) Inizio: _____
Elapsed: 2 ore e 30 minuti
Fine: 1:20

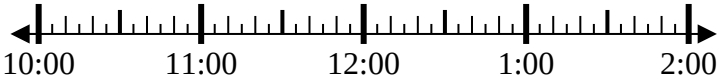

2) Inizio: _____
Elapsed: 1 ora e 25 minuti
Fine: 6:35

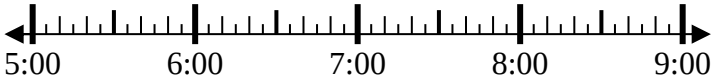

3) Inizio: _____
Elapsed: 1 ora e 35 minuti
Fine: 1:15

4) Inizio: _____
Elapsed: 2 ore e 15 minuti
Fine: 6:35

5) Inizio: _____
Elapsed: 2 ore e 25 minuti
Fine: 7:40

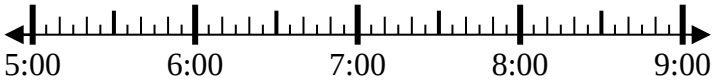

6) Inizio: _____
Elapsed: 2 ore e 35 minuti
Fine: 12:55

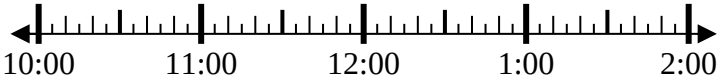

7) Inizio: _____
Elapsed: 2 ore e 50 minuti
Fine: 3:35

8) Inizio: _____
Elapsed: 1 ora e 30 minuti
Fine: 12:10

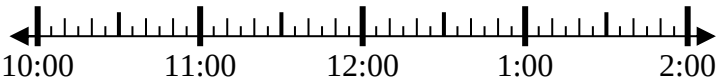

Risposte

1. _____
2. _____
3. _____
4. _____
5. _____
6. _____
7. _____
8. _____

1-8	88	75	63	50	38	25	13	0

Trovare l'ora di inizio con una linea numerica

Nome: **Soluzioni**

Risolvi ogni problema.

1) Inizio: 10:50
Elapsed: 2 ore e 30 minuti
Fine: 1:20

2) Inizio: 5:10
Elapsed: 1 ora e 25 minuti
Fine: 6:35

3) Inizio: 11:40
Elapsed: 1 ora e 35 minuti
Fine: 1:15

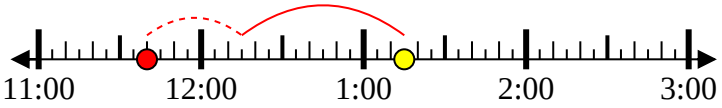

4) Inizio: 4:20
Elapsed: 2 ore e 15 minuti
Fine: 6:35

5) Inizio: 5:15
Elapsed: 2 ore e 25 minuti
Fine: 7:40

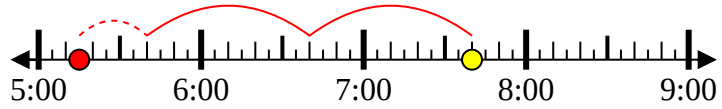

6) Inizio: 10:20
Elapsed: 2 ore e 35 minuti
Fine: 12:55

7) Inizio: 12:45
Elapsed: 2 ore e 50 minuti
Fine: 3:35

8) Inizio: 10:40
Elapsed: 1 ora e 30 minuti
Fine: 12:10

Risposte

1. 10:50
2. 5:10
3. 11:40
4. 4:20
5. 5:15
6. 10:20
7. 12:45
8. 10:40

1-8	88	75	63	50	38	25	13	0