Trovare l'ora di fine con una linea dei numeri Nome:

Risolvi ogni problema.

1) Inizio: 12:15

Elapsed: 1 ora e 35 minuti

Fine: _____

2) Inizio: 11:30

Elapsed: 1 ora e 25 minuti

Fine: _____

3) Inizio: 5:10

Elapsed: 1 ora e 35 minuti

Fine: _____

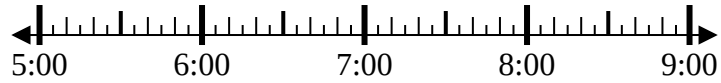

4) Inizio: 11:00

Elapsed: 1 ora e 10 minuti

Fine: _____

5) Inizio: 12:30

Elapsed: 1 ora e 10 minuti

Fine: _____

6) Inizio: 12:40

Elapsed: 1 ora e 25 minuti

Fine: _____

7) Inizio: 9:40

Elapsed: 1 ora e 50 minuti

Fine: _____

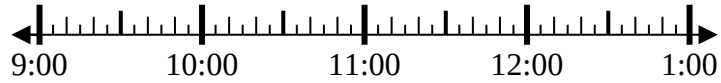

8) Inizio: 1:35

Elapsed: 2 ore e 45 minuti

Fine: _____

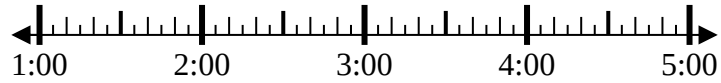

Risposte

1. _____
2. _____
3. _____
4. _____
5. _____
6. _____
7. _____
8. _____

1-8	88	75	63	50	38	25	13	0

Trovare l'ora di fine con una linea dei numeri Nome: **Soluzioni**

Risolvi ogni problema.

1) Inizio: 12:15
Elapsed: 1 ora e 35 minuti
Fine: 1:50

2) Inizio: 11:30
Elapsed: 1 ora e 25 minuti
Fine: 12:55

3) Inizio: 5:10
Elapsed: 1 ora e 35 minuti
Fine: 6:45

4) Inizio: 11:00
Elapsed: 1 ora e 10 minuti
Fine: 12:10

5) Inizio: 12:30
Elapsed: 1 ora e 10 minuti
Fine: 1:40

6) Inizio: 12:40
Elapsed: 1 ora e 25 minuti
Fine: 2:05

7) Inizio: 9:40
Elapsed: 1 ora e 50 minuti
Fine: 11:30

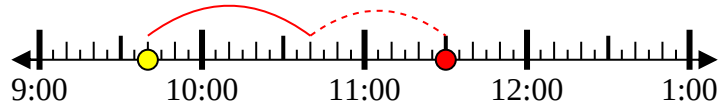

8) Inizio: 1:35
Elapsed: 2 ore e 45 minuti
Fine: 4:20

Risposte

1. 1:50
2. 12:55
3. 6:45
4. 12:10
5. 1:40
6. 2:05
7. 11:30
8. 4:20

1-8	88	75	63	50	38	25	13	0