Trovare l'ora di fine con una linea dei numeri

Nome:

Risolvi ogni problema.

1) Inizio: 9:35

Elapsed: 2 ore e 30 minuti

Fine: _____

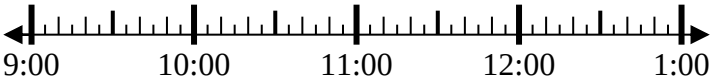

2) Inizio: 12:50

Elapsed: 1 ora e 45 minuti

Fine: _____

3) Inizio: 10:15

Elapsed: 1 ora e 25 minuti

Fine: _____

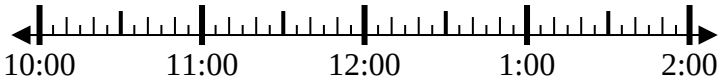

4) Inizio: 6:25

Elapsed: 1 ora e 45 minuti

Fine: _____

5) Inizio: 9:10

Elapsed: 1 ora e 15 minuti

Fine: _____

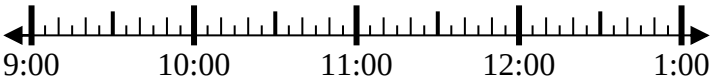

6) Inizio: 11:45

Elapsed: 2 ore e 15 minuti

Fine: _____

7) Inizio: 12:20

Elapsed: 1 ora e 40 minuti

Fine: _____

8) Inizio: 3:35

Elapsed: 1 ora e 40 minuti

Fine: _____

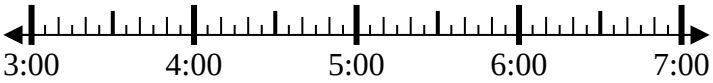

Risposte

1. _____
2. _____
3. _____
4. _____
5. _____
6. _____
7. _____
8. _____

1-8	88	75	63	50	38	25	13	0

Trovare l'ora di fine con una linea dei numeri Nome: **Soluzioni**

Risolvi ogni problema.

1) Inizio: 9:35
Elapsed: 2 ore e 30 minuti
Fine: 12:05

2) Inizio: 12:50
Elapsed: 1 ora e 45 minuti
Fine: 2:35

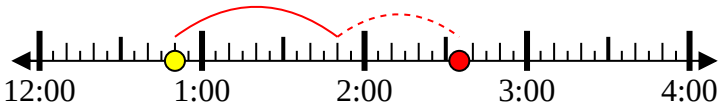

3) Inizio: 10:15
Elapsed: 1 ora e 25 minuti
Fine: 11:40

4) Inizio: 6:25
Elapsed: 1 ora e 45 minuti
Fine: 8:10

5) Inizio: 9:10
Elapsed: 1 ora e 15 minuti
Fine: 10:25

6) Inizio: 11:45
Elapsed: 2 ore e 15 minuti
Fine: 2:00

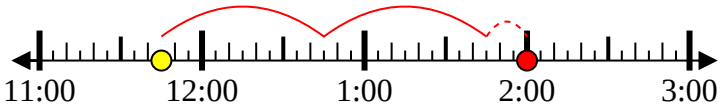

7) Inizio: 12:20
Elapsed: 1 ora e 40 minuti
Fine: 2:00

8) Inizio: 3:35
Elapsed: 1 ora e 40 minuti
Fine: 5:15

Risposte

1. 12:05
2. 2:35
3. 11:40
4. 8:10
5. 10:25
6. 2:00
7. 2:00
8. 5:15

1-8	88	75	63	50	38	25	13	0