Trovare l'ora di fine con una linea dei numeri

Nome:

Risolvi ogni problema.

1) Inizio: 6:45

Elapsed: 1 ora e 10 minuti

Fine: _____

2) Inizio: 6:25

Elapsed: 2 ore e 40 minuti

Fine: _____

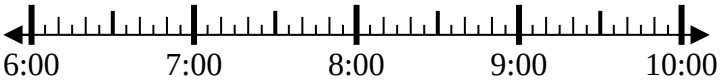

3) Inizio: 1:10

Elapsed: 1 ora e 50 minuti

Fine: _____

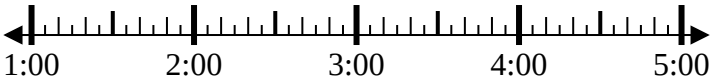

4) Inizio: 11:15

Elapsed: 1 ora e 45 minuti

Fine: _____

5) Inizio: 3:25

Elapsed: 2 ore e 10 minuti

Fine: _____

6) Inizio: 3:20

Elapsed: 2 ore e 35 minuti

Fine: _____

7) Inizio: 10:35

Elapsed: 1 ora e 50 minuti

Fine: _____

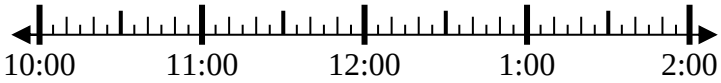

8) Inizio: 10:00

Elapsed: 1 ora e 30 minuti

Fine: _____

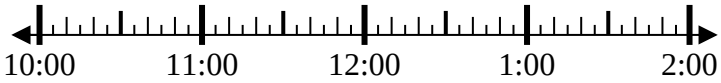

Risposte

1. _____
2. _____
3. _____
4. _____
5. _____
6. _____
7. _____
8. _____

1-8	88	75	63	50	38	25	13	0

Trovare l'ora di fine con una linea dei numeri Nome: **Soluzioni**

Risolvi ogni problema.

1) Inizio: 6:45
Elapsed: 1 ora e 10 minuti
Fine: 7:55

2) Inizio: 6:25
Elapsed: 2 ore e 40 minuti
Fine: 9:05

3) Inizio: 1:10
Elapsed: 1 ora e 50 minuti
Fine: 3:00

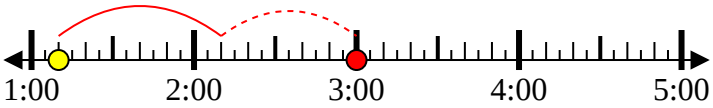

4) Inizio: 11:15
Elapsed: 1 ora e 45 minuti
Fine: 1:00

5) Inizio: 3:25
Elapsed: 2 ore e 10 minuti
Fine: 5:35

6) Inizio: 3:20
Elapsed: 2 ore e 35 minuti
Fine: 5:55

7) Inizio: 10:35
Elapsed: 1 ora e 50 minuti
Fine: 12:25

8) Inizio: 10:00
Elapsed: 1 ora e 30 minuti
Fine: 11:30

Risposte

1. 7:55
2. 9:05
3. 3:00
4. 1:00
5. 5:35
6. 5:55
7. 12:25
8. 11:30

1-8	88	75	63	50	38	25	13	0