Trovare l'ora di fine con una linea dei numeri

Nome:

Risolvi ogni problema.

1) Inizio: 9:20

Elapsed: 1 ora e 25 minuti

Fine: _____

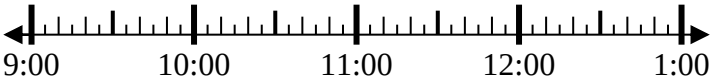

2) Inizio: 2:00

Elapsed: 2 ore e 55 minuti

Fine: _____

3) Inizio: 7:40

Elapsed: 2 ore e 15 minuti

Fine: _____

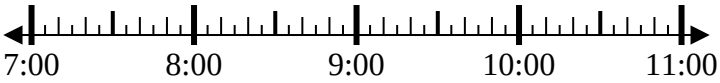

4) Inizio: 7:15

Elapsed: 1 ora e 10 minuti

Fine: _____

5) Inizio: 11:15

Elapsed: 2 ore e 25 minuti

Fine: _____

6) Inizio: 5:30

Elapsed: 1 ora e 25 minuti

Fine: _____

7) Inizio: 12:00

Elapsed: 2 ore e 40 minuti

Fine: _____

8) Inizio: 12:15

Elapsed: 1 ora e 20 minuti

Fine: _____

Risposte

1. _____
2. _____
3. _____
4. _____
5. _____
6. _____
7. _____
8. _____

1-8	88	75	63	50	38	25	13	0

Trovare l'ora di fine con una linea dei numeri Nome: **Soluzioni**

Risolvi ogni problema.

1) Inizio: 9:20
Elapsed: 1 ora e 25 minuti
Fine: 10:45

2) Inizio: 2:00
Elapsed: 2 ore e 55 minuti
Fine: 4:55

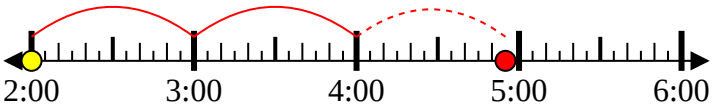

3) Inizio: 7:40
Elapsed: 2 ore e 15 minuti
Fine: 9:55

4) Inizio: 7:15
Elapsed: 1 ora e 10 minuti
Fine: 8:25

5) Inizio: 11:15
Elapsed: 2 ore e 25 minuti
Fine: 1:40

6) Inizio: 5:30
Elapsed: 1 ora e 25 minuti
Fine: 6:55

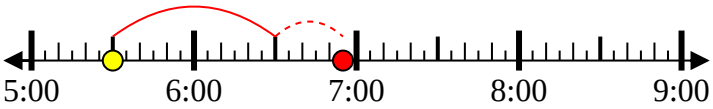

7) Inizio: 12:00
Elapsed: 2 ore e 40 minuti
Fine: 2:40

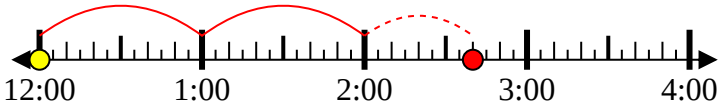

8) Inizio: 12:15
Elapsed: 1 ora e 20 minuti
Fine: 1:35

Risposte

1. **10:45**
2. **4:55**
3. **9:55**
4. **8:25**
5. **1:40**
6. **6:55**
7. **2:40**
8. **1:35**

1-8	88	75	63	50	38	25	13	0