Trovare il tempo trascorso con una linea dei numeri Nome:

Risolvi ogni problema.

1) Inizio: 12:15

Elapsed: _____

Fine: 1:50

2) Inizio: 11:30

Elapsed: _____

Fine: 12:55

3) Inizio: 5:10

Elapsed: _____

Fine: 6:45

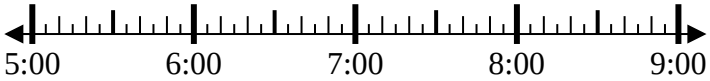

4) Inizio: 11:00

Elapsed: _____

Fine: 12:10

5) Inizio: 12:30

Elapsed: _____

Fine: 1:40

6) Inizio: 12:40

Elapsed: _____

Fine: 2:05

7) Inizio: 9:40

Elapsed: _____

Fine: 11:30

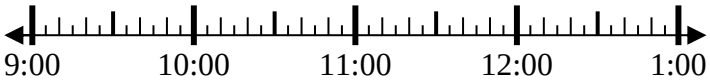

8) Inizio: 1:35

Elapsed: _____

Fine: 4:20

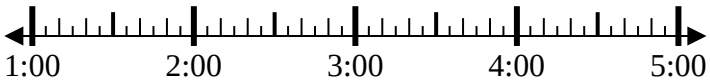

Risposte

1. _____
2. _____
3. _____
4. _____
5. _____
6. _____
7. _____
8. _____

1-8	88	75	63	50	38	25	13	0

Trovare il tempo trascorso con una linea dei numeri Nome: **Soluzioni**

Risolvi ogni problema.

1) Inizio: 12:15

Elapsed: 1 ora e 35 minuti

Fine: 1:50

2) Inizio: 11:30

Elapsed: 1 ora e 25 minuti

Fine: 12:55

3) Inizio: 5:10

Elapsed: 1 ora e 35 minuti

Fine: 6:45

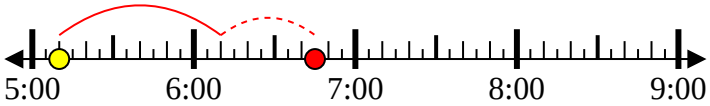

4) Inizio: 11:00

Elapsed: 1 ora e 10 minuti

Fine: 12:10

5) Inizio: 12:30

Elapsed: 1 ora e 10 minuti

Fine: 1:40

6) Inizio: 12:40

Elapsed: 1 ora e 25 minuti

Fine: 2:05

7) Inizio: 9:40

Elapsed: 1 ora e 50 minuti

Fine: 11:30

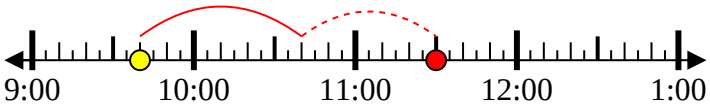

8) Inizio: 1:35

Elapsed: 2 ore e 45 minuti

Fine: 4:20

Risposte

1. **1 ora e 35 minuti**
2. **1 ora e 25 minuti**
3. **1 ora e 35 minuti**
4. **1 ora e 10 minuti**
5. **1 ora e 10 minuti**
6. **1 ora e 25 minuti**
7. **1 ora e 50 minuti**
8. **2 ore e 45 minuti**

1-8	88	75	63	50	38	25	13	0