Disegna ogni rettangolo alla scala mostrata e determina le nuove dimensioni.

1) Il rettangolo sottostante ha le dimensioni: 2.3 × 2.6

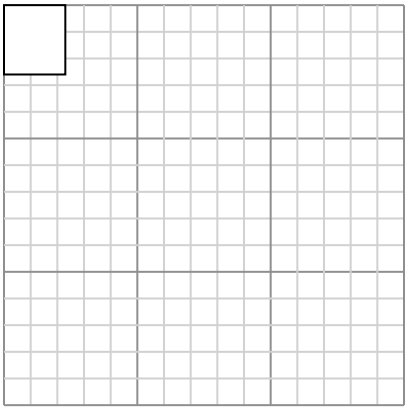

Crea un altro rettangolo con la dimensione scalata 16 rispetto al rettangolo corrente.

2) Il rettangolo sottostante ha le dimensioni: 3 × 4

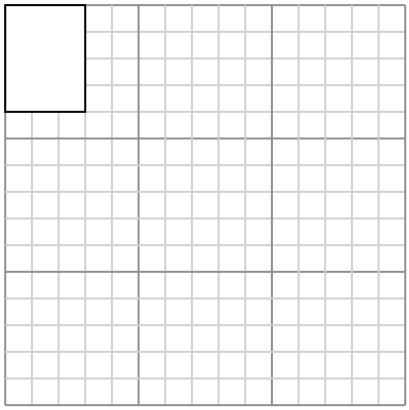

Crea un altro rettangolo con la dimensione scalata 9 rispetto al rettangolo corrente.

3) Il rettangolo sottostante ha le dimensioni: 4.6 × 3

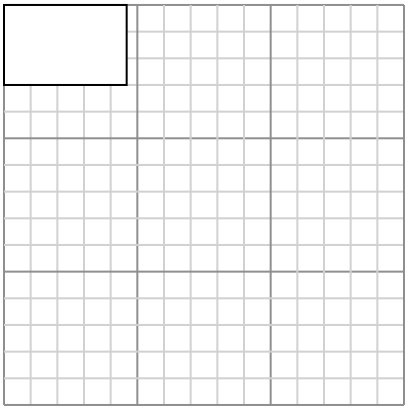

Crea un altro rettangolo con la dimensione scalata 9 rispetto al rettangolo corrente.

4) Il rettangolo sottostante ha le dimensioni: 2.9 × 4.8

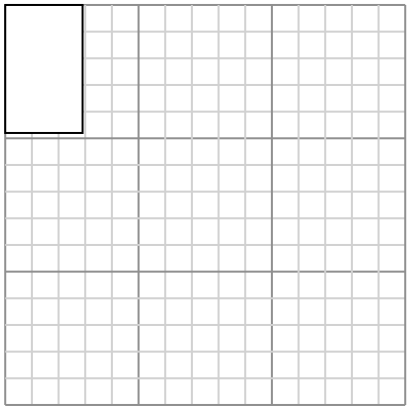

Crea un altro rettangolo con la dimensione scalata 9 rispetto al rettangolo corrente.

5) Il rettangolo sottostante ha le dimensioni: 2.7 × 3

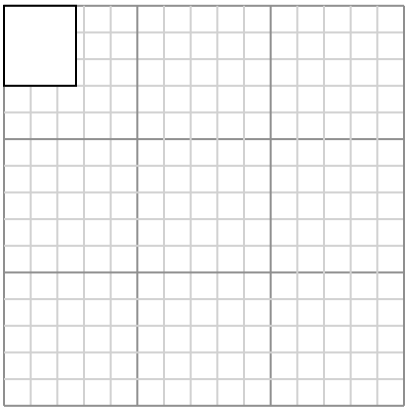

Crea un altro rettangolo con la dimensione scalata 16 rispetto al rettangolo corrente.

6) Il rettangolo sottostante ha le dimensioni: 3 × 2.7

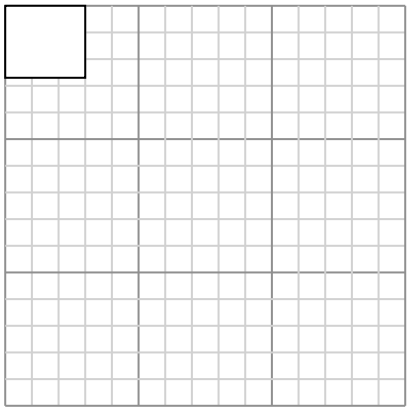

Crea un altro rettangolo con la dimensione scalata 16 rispetto al rettangolo corrente.

Risposte

1. _____
2. _____
3. _____
4. _____
5. _____
6. _____

1-6	83	67	50	33	17	0

Disegna ogni rettangolo alla scala mostrata e determina le nuove dimensioni.

1) Il rettangolo sottostante ha le dimensioni: 2.3 × 2.6

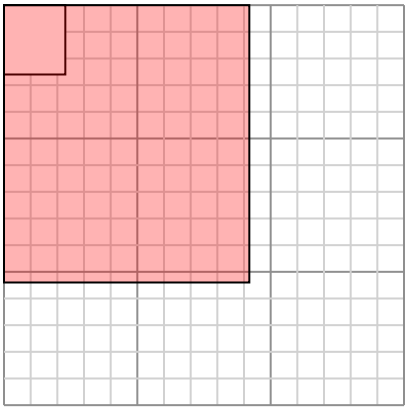

Crea un altro rettangolo con la dimensione scalata 16 rispetto al rettangolo corrente.

2) Il rettangolo sottostante ha le dimensioni: 3 × 4

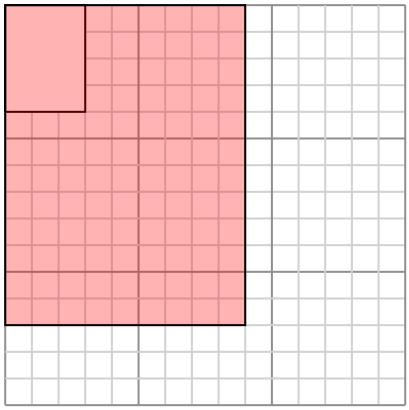

Crea un altro rettangolo con la dimensione scalata 9 rispetto al rettangolo corrente.

3) Il rettangolo sottostante ha le dimensioni: 4.6 × 3

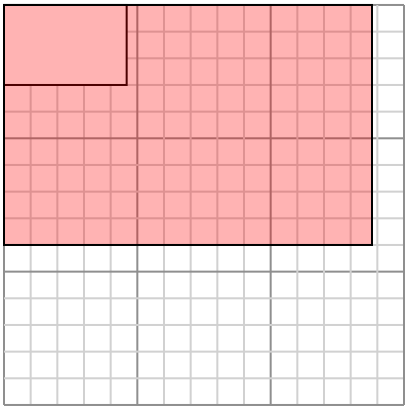

Crea un altro rettangolo con la dimensione scalata 9 rispetto al rettangolo corrente.

4) Il rettangolo sottostante ha le dimensioni: 2.9 × 4.8

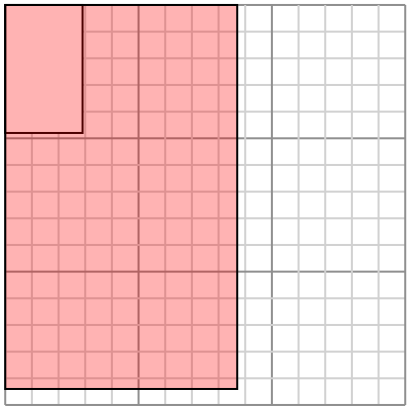

Crea un altro rettangolo con la dimensione scalata 9 rispetto al rettangolo corrente.

5) Il rettangolo sottostante ha le dimensioni: 2.7 × 3

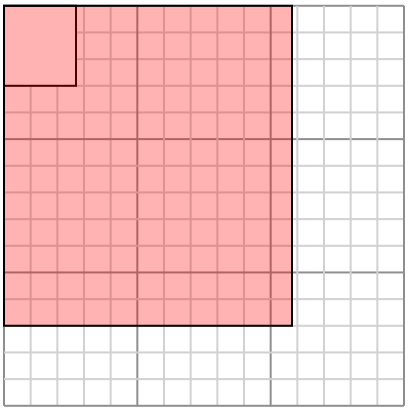

Crea un altro rettangolo con la dimensione scalata 16 rispetto al rettangolo corrente.

6) Il rettangolo sottostante ha le dimensioni: 3 × 2.7

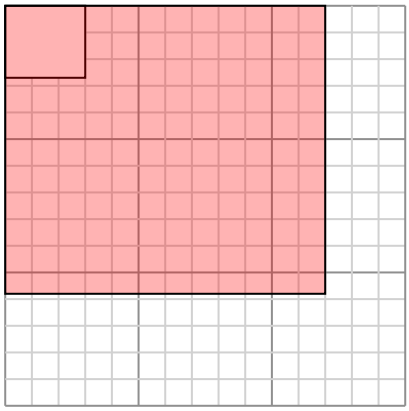

Crea un altro rettangolo con la dimensione scalata 16 rispetto al rettangolo corrente.

Risposte

1. **9,2×10,4**
2. **9×12**
3. **13,8×9**
4. **8,7×14,4**
5. **10,8×12**
6. **12×10,8**

1-6	83	67	50	33	17	0