Usa le doppie linee per esprimere i rapporti Nome:

Usa le doppie linee per risolvere i problemi.

Risposte

1) Un cinema metteva 2 tazze di olio per ogni 3 lotti di popcorn che produceva. Dopo aver prodotto 18 lotti di popcorn, quanto olio avrebbero usato?

Popcorn ↔

olio ↔

2) Un costruttore potrebbe ottenere 8 fogli di cartongesso per $4. Se avesse comprato fogli 40, quanti soldi avrebbe speso?

tongesso ↔

prezzo ↔

3) Un negozio aveva una vendita in cui si potevano ottenere 8 sacchi di anacardi per $ 4. Se volessi acquistare borse 64, quanto costerebbe?

anacardi ↔

prezzo ↔

4) Il rapporto tra ragazzi e ragazze al parco era 4 su 8. Se c'erano 36 maschi, quante femmine c'erano?

ragazzi ↔

ragazze ↔

5) Una ricetta richiede 10 cucchiaini di condimento per ogni 6 lotti di pollo. Se hai 12 partite di pollo, quanti cucchiaini di condimento ti serviranno?

pollo ↔

gionatura ↔

6) Un ristorante sciatto ha dato 10 tovaglioli per ogni 6 articoli ordinati. Se qualcuno ha acquistato articoli 24, quanti tovaglioli dovrebbe ricevere?

articolo ↔

ovaglioli ↔

7) A una raccolta fondi scolastica per ogni 6 scatole di cioccolato vendute guadagni 8 punti. Se dovessi vendere scatole 12, quanti punti avresti guadagnato?

scatole ↔

punti ↔

8) Una scatola di caramelle conteneva 4 pezzi di ciliegia per ogni 10 pezzi di limone. Se la scatola avesse 20 pezzi di limone, quanti pezzi di ciliegia ci sarebbero?

Limone ↔

ciliegia ↔

1. _____
2. _____
3. _____
4. _____
5. _____
6. _____
7. _____
8. _____

1-8	88	75	63	50	38	25	13	0

Usa le doppie linee per esprimere i rapporti Nome: **Soluzioni**

Usa le doppie linee per risolvere i problemi.

1) Un cinema metteva 2 tazze di olio per ogni 3 lotti di popcorn che produceva. Dopo aver prodotto 18 lotti di popcorn, quanto olio avrebbero usato?

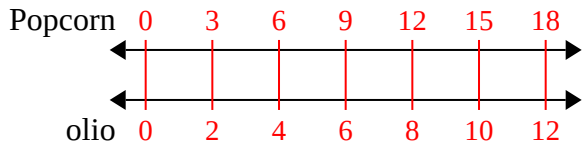

2) Un costruttore potrebbe ottenere 8 fogli di cartongesso per $4. Se avesse comprato fogli 40, quanti soldi avrebbe speso?

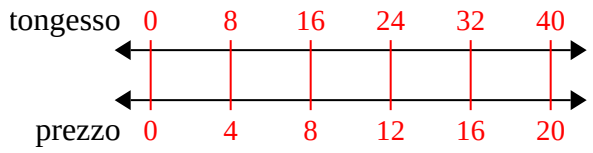

3) Un negozio aveva una vendita in cui si potevano ottenere 8 sacchi di anacardi per $ 4. Se volessi acquistare borse 64, quanto costerebbe?

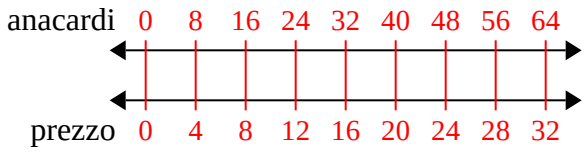

4) Il rapporto tra ragazzi e ragazze al parco era 4 su 8. Se c'erano 36 maschi, quante femmine c'erano?

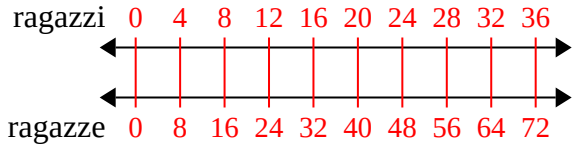

5) Una ricetta richiede 10 cucchiaini di condimento per ogni 6 lotti di pollo. Se hai 12 partite di pollo, quanti cucchiaini di condimento ti serviranno?

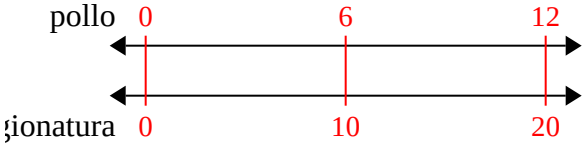

6) Un ristorante sciatto ha dato 10 tovaglioli per ogni 6 articoli ordinati. Se qualcuno ha acquistato articoli 24, quanti tovaglioli dovrebbe ricevere?

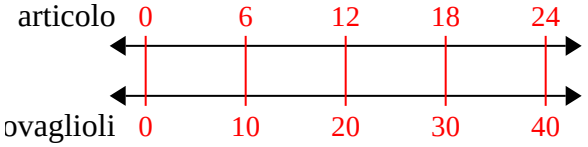

7) A una raccolta fondi scolastica per ogni 6 scatole di cioccolato vendute guadagni 8 punti. Se dovessi vendere scatole 12, quanti punti avresti guadagnato?

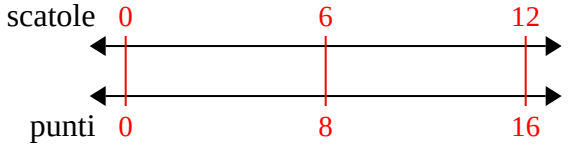

8) Una scatola di caramelle conteneva 4 pezzi di ciliegia per ogni 10 pezzi di limone. Se la scatola avesse 20 pezzi di limone, quanti pezzi di ciliegia ci sarebbero?

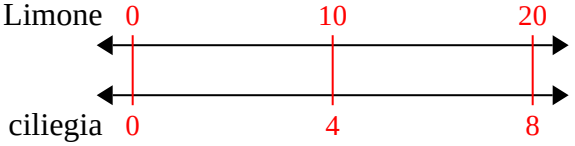

Risposte

1. 12
2. 20
3. 32
4. 72
5. 20
6. 40
7. 16
8. 8

1-8	88	75	63	50	38	25	13	0