Trova i rapporti (graficamente)

Nome:

Risolvi ogni problema.

Es) Qual è il rapporto tra pentagoni e triangoli?

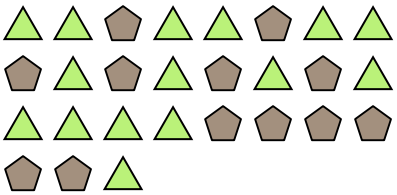

1) Qual è il rapporto tra cerchi e moons?



2) Qual è il rapporto tra stelle e quadrati?

3) Qual è il rapporto tra moons e pentagoni?

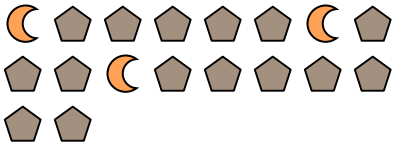

4) Qual è il rapporto tra hearts e moons?

5) Qual è il rapporto tra stelle e triangoli?

6) Qual è il rapporto tra moons e stelle?

7) Qual è il rapporto tra pentagoni e hearts?



8) Qual è il rapporto tra pentagoni e stelle?

9) Qual è il rapporto tra cerchi e moons?



10) Qual è il rapporto tra stelle e moons?

11) Qual è il rapporto tra triangoli e pentagoni?

Risposte

Es. 12:15

1. _____
2. _____
3. _____
4. _____
5. _____
6. _____
7. _____
8. _____
9. _____
10. _____
11. _____

1-10	91	82	73	64	55	45	36	27	18	9
11	0									

Trova i rapporti (graficamente) Nome: **Soluzioni**

Risolvi ogni problema.

Es) Qual è il rapporto tra pentagoni e triangoli?

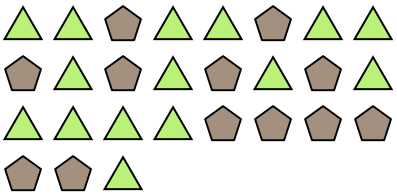

1) Qual è il rapporto tra cerchi e moons?



2) Qual è il rapporto tra stelle e quadrati?

3) Qual è il rapporto tra moons e pentagoni?

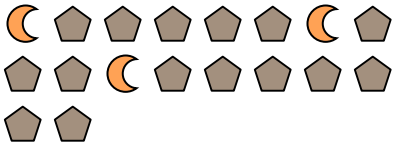

4) Qual è il rapporto tra hearts e moons?

5) Qual è il rapporto tra stelle e triangoli?

6) Qual è il rapporto tra moons e stelle?

7) Qual è il rapporto tra pentagoni e hearts?



8) Qual è il rapporto tra pentagoni e stelle?

9) Qual è il rapporto tra cerchi e moons?



10) Qual è il rapporto tra stelle e moons?

11) Qual è il rapporto tra triangoli e pentagoni?

Risposte

Es.	12:15
1.	11:11
2.	7:9
3.	3:15
4.	9:2
5.	4:11
6.	12:8
7.	8:10
8.	11:2
9.	15:11
10.	4:5
11.	11:3

1-10	91	82	73	64	55	45	36	27	18	9
11	0									