Determinazione della probabilità del filatore

Nome:

Risolvi ogni problema.

1) Su quali due lettere c'è la stessa probabilità che l'indicatore si fermi?

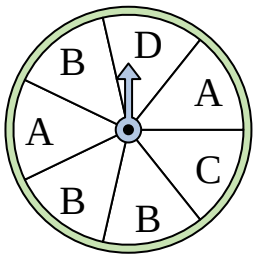

2) Su quale numero è più probabile che si fermerà l'indicatore?

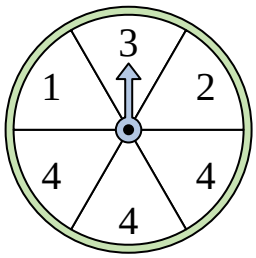

3) Su quale numero è meno probabile che si fermerà l'indicatore?



4) Su quale numero è meno probabile che si fermerà l'indicatore?



5) Su quale lettera è meno probabile che si fermerà l'indicatore?

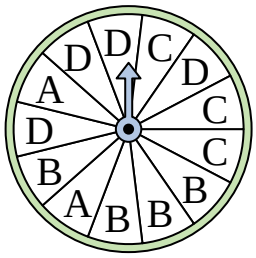

6) Su quale lettera è più probabile che si fermerà l'indicatore?

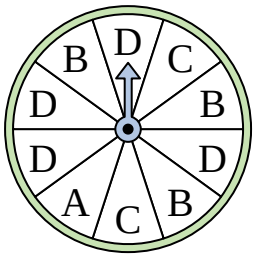

7) Su quale numero è più probabile che si fermerà l'indicatore?

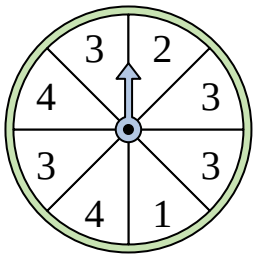

8) Su quali due lettere c'è la stessa probabilità che l'indicatore si fermi?

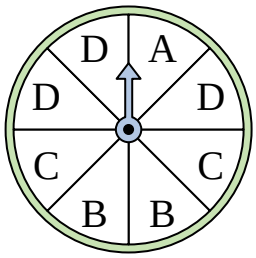

9) Su quale numero è più probabile che si fermerà l'indicatore?



10) Su quale numero è meno probabile che si fermerà l'indicatore?



11) Su quale numero è più probabile che si fermerà l'indicatore?



12) Su quale numero è meno probabile che si fermerà l'indicatore?



Risposte

1. _____
2. _____
3. _____
4. _____
5. _____
6. _____
7. _____
8. _____
9. _____
10. _____
11. _____
12. _____

1-10	92	83	75	67	58	50	42	33	25	17
11-12	8	0								

Determinazione della probabilità del filatore Nome: **Soluzioni**

Risolvi ogni problema.

1) Su quali due lettere c'è la stessa probabilità che l'indicatore si fermi?

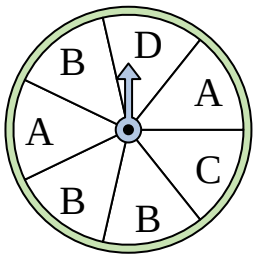

2) Su quale numero è più probabile che si fermerà l'indicatore?

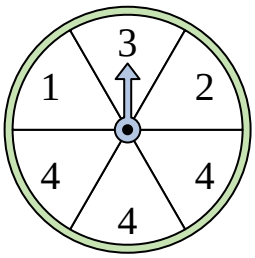

3) Su quale numero è meno probabile che si fermerà l'indicatore?



4) Su quale numero è meno probabile che si fermerà l'indicatore?



5) Su quale lettera è meno probabile che si fermerà l'indicatore?

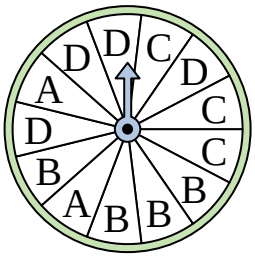

6) Su quale lettera è più probabile che si fermerà l'indicatore?

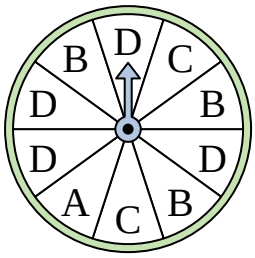

7) Su quale numero è più probabile che si fermerà l'indicatore?

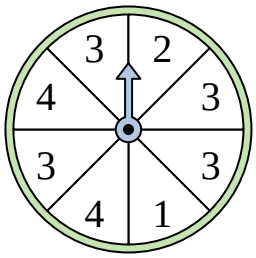

8) Su quali due lettere c'è la stessa probabilità che l'indicatore si fermi?

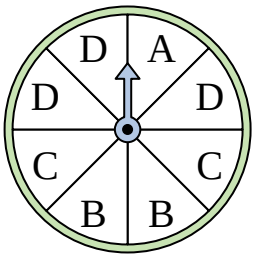

9) Su quale numero è più probabile che si fermerà l'indicatore?



10) Su quale numero è meno probabile che si fermerà l'indicatore?



11) Su quale numero è più probabile che si fermerà l'indicatore?

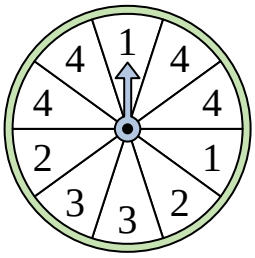

12) Su quale numero è meno probabile che si fermerà l'indicatore?



Risposte

1. C & D
2. 4
3. 4
4. 2
5. A
6. D
7. 3
8. B & C
9. 4
10. 4
11. 4
12. 2

1-10	92	83	75	67	58	50	42	33	25	17
11-12	8	0								