Probabilità di base

Nome:

Usa ogni diagramma per risolvere i problemi.

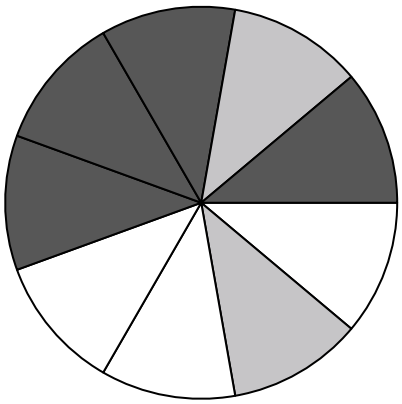

1) Se fai girare la trottola 1 volta, qual è la probabilità che finisca su un pezzo nero?

2) Se fai girare la trottola 1 volta, qual è la probabilità di atterrare su un pezzo black o su un pezzo white?

3) Se fai girare la trottola 1 volta, qual è la probabilità che finisca su un pezzo grigio?

4) Se fai girare la trottola 1 volta, qual è la probabilità che finisca su un pezzo bianco?

5) Quanti pezzi ci sono in totale nella trottola?

6) Se dovessi tirare i dadi una volta, qual è la probabilità che {NON} finisca su un 1?



7) Se dovessi lanciare i dadi una volta, qual è la probabilità che esca su 4?

8) Se dovessi tirare i dadi una volta, qual è la probabilità che esca su un numero Dispari?



9) Quale forma ha una probabilità del 40,00% (8 su 20) di essere selezionata?

10) Se dovessi selezionare 1 forma a caso dall'array, quale forma avresti la maggiore probabilità di selezionare?

11) Se dovessi selezionare 1 forma a caso dall'array, qual è la probabilità che sia un diamond?

12) Quante forme ci sono in totale nell'array?

Risposte

1. _____
2. _____
3. _____
4. _____
5. _____
6. _____
7. _____
8. _____
9. _____
10. _____
11. _____
12. _____

1-10	92	83	75	67	58	50	42	33	25	17
11-12	8	0								

Probabilità di base

Nome: **Soluzioni**

Usa ogni diagramma per risolvere i problemi.

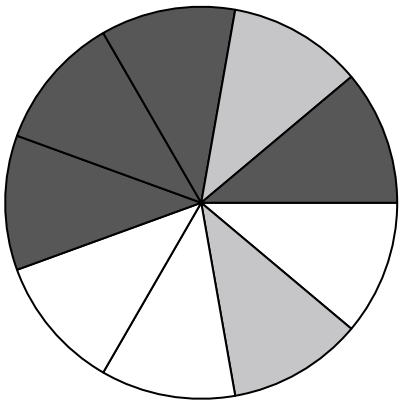

1) Se fai girare la trottola 1 volta, qual è la probabilità che finisca su un pezzo nero?

2) Se fai girare la trottola 1 volta, qual è la probabilità di atterrare su un pezzo black o su un pezzo white?

3) Se fai girare la trottola 1 volta, qual è la probabilità che finisca su un pezzo grigio?

4) Se fai girare la trottola 1 volta, qual è la probabilità che finisca su un pezzo bianco?

5) Quanti pezzi ci sono in totale nella trottola?

6) Se dovessi tirare i dadi una volta, qual è la probabilità che {NON} finisca su un 1?



7) Se dovessi lanciare i dadi una volta, qual è la probabilità che esca su 4?

8) Se dovessi tirare i dadi una volta, qual è la probabilità che esca su un numero Dispari?



9) Quale forma ha una probabilità del 40,00% (8 su 20) di essere selezionata?

10) Se dovessi selezionare 1 forma a caso dall'array, quale forma avresti la maggiore probabilità di selezionare?

11) Se dovessi selezionare 1 forma a caso dall'array, qual è la probabilità che sia un diamond?

12) Quante forme ci sono in totale nell'array?

Risposte

1. **4 su 9**
2. **7 su 9**
3. **2 su 9**
4. **3 su 9**
5. **9**
6. **5 su 6**
7. **1 su 6**
8. **3 su 6**
9. **star**
10. **circle**
11. **11 su 20**
12. **20**

1-10	92	83	75	67	58	50	42	33	25	17
11-12	8	0								

Usa ogni diagramma per risolvere i problemi.

1) Se dovessi lanciare i dadi una volta, qual è la probabilità che esca su 3?

2) Se dovessi tirare i dadi una volta, qual è la probabilità che {NON} finisca su un 1?

3) Se dovessi tirare i dadi una volta, qual è la probabilità che esca su un numero Dispari?

4) Quale forma ha una probabilità del 40,00% (8 su 20) di essere selezionata?



5) Quante forme ci sono in totale nell'array?

6) Se dovessi selezionare 1 forma a caso dall'array, quale forma avresti la maggiore probabilità di selezionare?

7) Se dovessi selezionare 1 forma a caso dall'array, qual è la probabilità che sia un diamond?

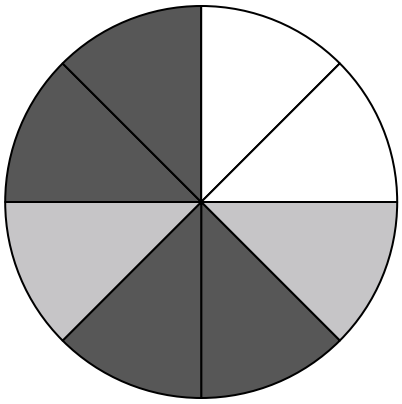

8) Se fai girare la trottola 1 volta, qual è la probabilità che finisca su un pezzo bianco?

9) Se fai girare la trottola 1 volta, qual è la probabilità che finisca su un pezzo nero?

10) Se fai girare la trottola 1 volta, qual è la probabilità che finisca su un pezzo grigio?

11) Quanti pezzi ci sono in totale nella trottola?

12) Se fai girare la trottola 1 volta, qual è la probabilità di atterrare su un pezzo white o su un pezzo gray?

Risposte

1. _____
2. _____
3. _____
4. _____
5. _____
6. _____
7. _____
8. _____
9. _____
10. _____
11. _____
12. _____

1-10	92	83	75	67	58	50	42	33	25	17
11-12	8	0								

Usa ogni diagramma per risolvere i problemi.

1) Se dovessi lanciare i dadi una volta, qual è la probabilità che esca su 3?

2) Se dovessi tirare i dadi una volta, qual è la probabilità che {NON} finisca su un 1?

3) Se dovessi tirare i dadi una volta, qual è la probabilità che esca su un numero Dispari?



4) Quale forma ha una probabilità del 40,00% (8 su 20) di essere selezionata?

5) Quante forme ci sono in totale nell'array?

6) Se dovessi selezionare 1 forma a caso dall'array, quale forma avresti la maggiore probabilità di selezionare?

7) Se dovessi selezionare 1 forma a caso dall'array, qual è la probabilità che sia un diamond?

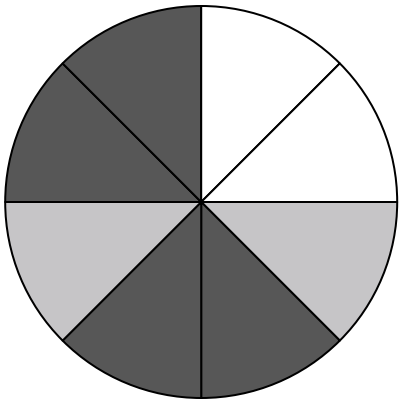

8) Se fai girare la trottola 1 volta, qual è la probabilità che finisca su un pezzo bianco?

9) Se fai girare la trottola 1 volta, qual è la probabilità che finisca su un pezzo nero?

10) Se fai girare la trottola 1 volta, qual è la probabilità che finisca su un pezzo grigio?

11) Quanti pezzi ci sono in totale nella trottola?

12) Se fai girare la trottola 1 volta, qual è la probabilità di atterrare su un pezzo white o su un pezzo gray?

Risposte

1. **1 su 6**
2. **5 su 6**
3. **3 su 6**
4. **circle**
5. **20**
6. **diamond**
7. **6 su 20**
8. **2 su 8**
9. **4 su 8**
10. **2 su 8**
11. **8**
12. **4 su 8**

1-10	92	83	75	67	58	50	42	33	25	17
11-12	8	0								

Probabilità di base

Nome:

Usa ogni diagramma per risolvere i problemi.



1) Se dovessi selezionare 1 forma a caso dall'array, qual è la probabilità che sia un star?

2) Quale forma ha una probabilità del 43,75% (7 su 16) di essere selezionata?

3) Se dovessi selezionare 1 forma a caso dall'array, quale forma avresti la maggiore probabilità di selezionare?

4) Quante forme ci sono in totale nell'array?

5) Se dovessi lanciare i dadi una volta, qual è la probabilità che esca su 2?



6) Se dovessi tirare i dadi una volta, qual è la probabilità che {NON} finisca su un 1?

7) Se dovessi tirare i dadi una volta, qual è la probabilità che esca su un numero Dispari?

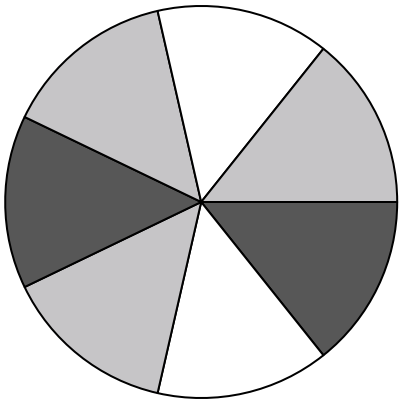

8) Se fai girare la trottola 1 volta, qual è la probabilità che finisca su un pezzo bianco?

9) Quanti pezzi ci sono in totale nella trottola?

10) Se fai girare la trottola 1 volta, qual è la probabilità di atterrare su un pezzo white o su un pezzo black?

11) Se fai girare la trottola 1 volta, qual è la probabilità che finisca su un pezzo nero?

12) Se fai girare la trottola 1 volta, qual è la probabilità che finisca su un pezzo grigio?

Risposte

1. _____
2. _____
3. _____
4. _____
5. _____
6. _____
7. _____
8. _____
9. _____
10. _____
11. _____
12. _____

1-10	92	83	75	67	58	50	42	33	25	17
11-12	8	0								

Probabilità di base

Nome: **Soluzioni**

Usa ogni diagramma per risolvere i problemi.



1) Se dovessi selezionare 1 forma a caso dall'array, qual è la probabilità che sia un star?

2) Quale forma ha una probabilità del 43,75% (7 su 16) di essere selezionata?

3) Se dovessi selezionare 1 forma a caso dall'array, quale forma avresti la maggiore probabilità di selezionare?

4) Quante forme ci sono in totale nell'array?

5) Se dovessi lanciare i dadi una volta, qual è la probabilità che esca su 2?



6) Se dovessi tirare i dadi una volta, qual è la probabilità che {NON} finisca su un 1?

7) Se dovessi tirare i dadi una volta, qual è la probabilità che esca su un numero Dispari?

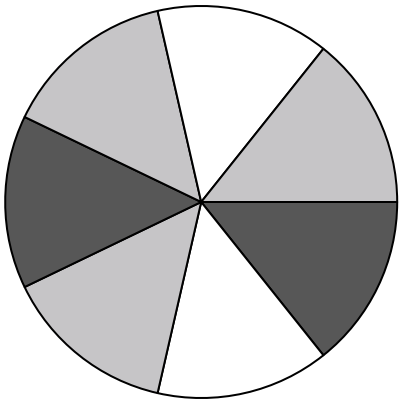

8) Se fai girare la trottola 1 volta, qual è la probabilità che finisca su un pezzo bianco?

9) Quanti pezzi ci sono in totale nella trottola?

10) Se fai girare la trottola 1 volta, qual è la probabilità di atterrare su un pezzo white o su un pezzo black?

11) Se fai girare la trottola 1 volta, qual è la probabilità che finisca su un pezzo nero?

12) Se fai girare la trottola 1 volta, qual è la probabilità che finisca su un pezzo grigio?

Risposte

1. **5 su 16**
2. **heart**
3. **circle**
4. **16**
5. **1 su 6**
6. **5 su 6**
7. **3 su 6**
8. **2 su 7**
9. **7**
10. **4 su 7**
11. **2 su 7**
12. **3 su 7**

1-10	92	83	75	67	58	50	42	33	25	17
11-12	8	0								

Probabilità di base

Nome:

Usa ogni diagramma per risolvere i problemi.



1) Quale forma ha una probabilità del 40,00% (8 su 20) di essere selezionata?

2) Se dovessi selezionare 1 forma a caso dall'array, quale forma avresti la maggiore probabilità di selezionare?

3) Quante forme ci sono in totale nell'array?

4) Se dovessi selezionare 1 forma a caso dall'array, qual è la probabilità che sia un circle?

5) Se dovessi lanciare i dadi una volta, qual è la probabilità che esca su 5?



6) Se dovessi tirare i dadi una volta, qual è la probabilità che esca su un numero Dispari?

7) Se dovessi tirare i dadi una volta, qual è la probabilità che {NON} finisca su un 1?

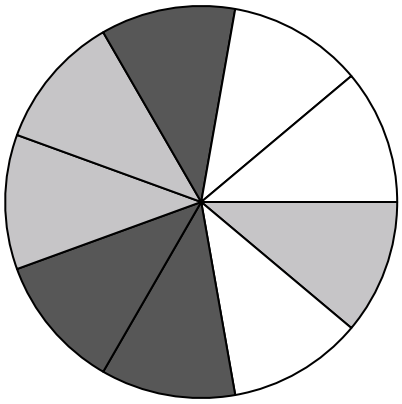

8) Se fai girare la trottola 1 volta, qual è la probabilità di atterrare su un pezzo gray o su un pezzo white?

9) Se fai girare la trottola 1 volta, qual è la probabilità che finisca su un pezzo bianco?

10) Se fai girare la trottola 1 volta, qual è la probabilità che finisca su un pezzo grigio?

11) Se fai girare la trottola 1 volta, qual è la probabilità che finisca su un pezzo nero?

12) Quanti pezzi ci sono in totale nella trottola?

Risposte

1. _____
2. _____
3. _____
4. _____
5. _____
6. _____
7. _____
8. _____
9. _____
10. _____
11. _____
12. _____

1-10	92	83	75	67	58	50	42	33	25	17
11-12	8	0								

Probabilità di base

Nome: **Soluzioni**

Usa ogni diagramma per risolvere i problemi.



1) Quale forma ha una probabilità del 40,00% (8 su 20) di essere selezionata?

2) Se dovessi selezionare 1 forma a caso dall'array, quale forma avresti la maggiore probabilità di selezionare?

3) Quante forme ci sono in totale nell'array?

4) Se dovessi selezionare 1 forma a caso dall'array, qual è la probabilità che sia un circle?

5) Se dovessi lanciare i dadi una volta, qual è la probabilità che esca su 5?



6) Se dovessi tirare i dadi una volta, qual è la probabilità che esca su un numero Dispari?

7) Se dovessi tirare i dadi una volta, qual è la probabilità che {NON} finisca su un 1?

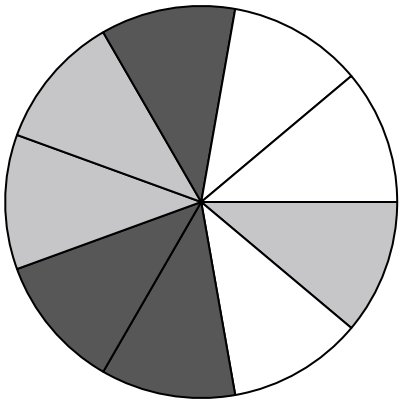

8) Se fai girare la trottola 1 volta, qual è la probabilità di atterrare su un pezzo gray o su un pezzo white?

9) Se fai girare la trottola 1 volta, qual è la probabilità che finisca su un pezzo bianco?

10) Se fai girare la trottola 1 volta, qual è la probabilità che finisca su un pezzo grigio?

11) Se fai girare la trottola 1 volta, qual è la probabilità che finisca su un pezzo nero?

12) Quanti pezzi ci sono in totale nella trottola?

Risposte

1. star
2. circle
3. 20
4. 5 su 20
5. 1 su 6
6. 3 su 6
7. 5 su 6
8. 6 su 9
9. 3 su 9
10. 3 su 9
11. 3 su 9
12. 9

1-10	92	83	75	67	58	50	42	33	25	17
11-12	8	0								

Usa ogni diagramma per risolvere i problemi.

1) Se dovessi tirare i dadi una volta, qual è la probabilità che {NON} finisca su un 1?

2) Se dovessi tirare i dadi una volta, qual è la probabilità che esca su un numero Pari?

3) Se dovessi lanciare i dadi una volta, qual è la probabilità che esca su 4?

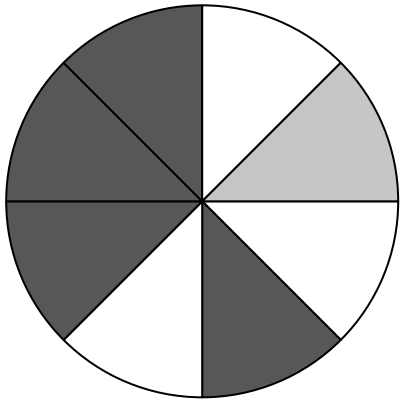

4) Se fai girare la trottola 1 volta, qual è la probabilità che finisca su un pezzo grigio?

5) Se fai girare la trottola 1 volta, qual è la probabilità che finisca su un pezzo bianco?

6) Quanti pezzi ci sono in totale nella trottola?

7) Se fai girare la trottola 1 volta, qual è la probabilità di atterrare su un pezzo gray o su un pezzo white?

8) Se fai girare la trottola 1 volta, qual è la probabilità che finisca su un pezzo nero?

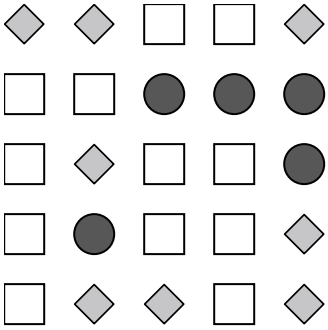

9) Quale forma ha una probabilità del 32,00% (8 su 25) di essere selezionata?

10) Se dovessi selezionare 1 forma a caso dall'array, qual è la probabilità che sia un circle?

11) Quante forme ci sono in totale nell'array?

12) Se dovessi selezionare 1 forma a caso dall'array, quale forma avresti la maggiore probabilità di selezionare?

Risposte

1. _____
2. _____
3. _____
4. _____
5. _____
6. _____
7. _____
8. _____
9. _____
10. _____
11. _____
12. _____

1-10	92	83	75	67	58	50	42	33	25	17
11-12	8	0								

Probabilità di base

Nome: **Soluzioni**

Usa ogni diagramma per risolvere i problemi.

1) Se dovessi tirare i dadi una volta, qual è la probabilità che {NON} finisca su un 1?

2) Se dovessi tirare i dadi una volta, qual è la probabilità che esca su un numero Pari?

3) Se dovessi lanciare i dadi una volta, qual è la probabilità che esca su 4?

4) Se fai girare la trottola 1 volta, qual è la probabilità che finisca su un pezzo grigio?

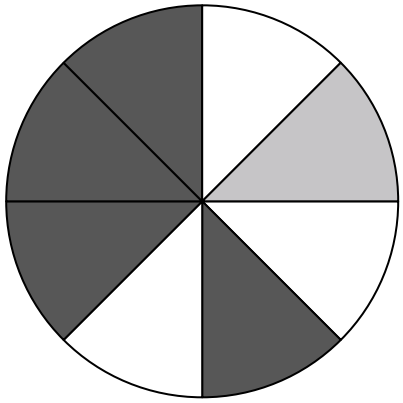

5) Se fai girare la trottola 1 volta, qual è la probabilità che finisca su un pezzo bianco?

6) Quanti pezzi ci sono in totale nella trottola?

7) Se fai girare la trottola 1 volta, qual è la probabilità di atterrare su un pezzo gray o su un pezzo white?

8) Se fai girare la trottola 1 volta, qual è la probabilità che finisca su un pezzo nero?

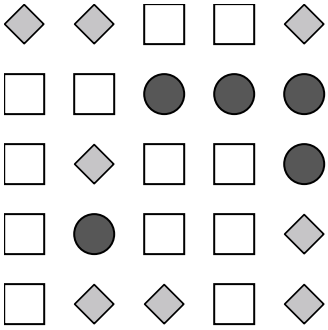

9) Quale forma ha una probabilità del 32,00% (8 su 25) di essere selezionata?

10) Se dovessi selezionare 1 forma a caso dall'array, qual è la probabilità che sia un circle?

11) Quante forme ci sono in totale nell'array?

12) Se dovessi selezionare 1 forma a caso dall'array, quale forma avresti la maggiore probabilità di selezionare?

Risposte

1. **5 su 6**
2. **3 su 6**
3. **1 su 6**
4. **1 su 8**
5. **3 su 8**
6. **8**
7. **4 su 8**
8. **4 su 8**
9. **diamond**
10. **5 su 25**
11. **25**
12. **circle**

1-10	92	83	75	67	58	50	42	33	25	17
11-12	8	0								

Probabilità di base

Nome:

Usa ogni diagramma per risolvere i problemi.



1) Se dovessi selezionare 1 forma a caso dall'array, qual è la probabilità che sia un heart?

2) Se dovessi selezionare 1 forma a caso dall'array, quale forma avresti la maggiore probabilità di selezionare?

3) Quante forme ci sono in totale nell'array?

4) Quale forma ha una probabilità del 36,00% (9 su 25) di essere selezionata?

5) Quanti pezzi ci sono in totale nella trottola?

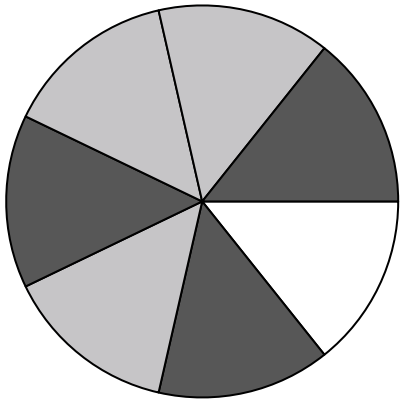

6) Se fai girare la trottola 1 volta, qual è la probabilità che finisca su un pezzo bianco?

7) Se fai girare la trottola 1 volta, qual è la probabilità che finisca su un pezzo grigio?

8) Se fai girare la trottola 1 volta, qual è la probabilità di atterrare su un pezzo black o su un pezzo white?

9) Se fai girare la trottola 1 volta, qual è la probabilità che finisca su un pezzo nero?

10) Se dovessi tirare i dadi una volta, qual è la probabilità che {NON} finisca su un 1?

11) Se dovessi lanciare i dadi una volta, qual è la probabilità che esca su 3?

12) Se dovessi tirare i dadi una volta, qual è la probabilità che esca su un numero Dispari?

Risposte

1. _____
2. _____
3. _____
4. _____
5. _____
6. _____
7. _____
8. _____
9. _____
10. _____
11. _____
12. _____

1-10	92	83	75	67	58	50	42	33	25	17
11-12	8	0								

Probabilità di base

Nome: **Soluzioni**

Usa ogni diagramma per risolvere i problemi.



1) Se dovessi selezionare 1 forma a caso dall'array, qual è la probabilità che sia un heart?

2) Se dovessi selezionare 1 forma a caso dall'array, quale forma avresti la maggiore probabilità di selezionare?

3) Quante forme ci sono in totale nell'array?

4) Quale forma ha una probabilità del 36,00% (9 su 25) di essere selezionata?

5) Quanti pezzi ci sono in totale nella trottola?

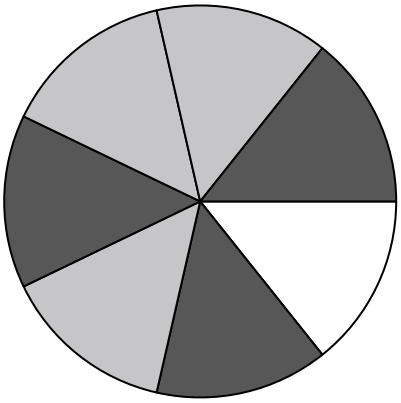

6) Se fai girare la trottola 1 volta, qual è la probabilità che finisca su un pezzo bianco?

7) Se fai girare la trottola 1 volta, qual è la probabilità che finisca su un pezzo grigio?

8) Se fai girare la trottola 1 volta, qual è la probabilità di atterrare su un pezzo black o su un pezzo white?

9) Se fai girare la trottola 1 volta, qual è la probabilità che finisca su un pezzo nero?

10) Se dovessi tirare i dadi una volta, qual è la probabilità che {NON} finisca su un 1?

11) Se dovessi lanciare i dadi una volta, qual è la probabilità che esca su 3?

12) Se dovessi tirare i dadi una volta, qual è la probabilità che esca su un numero Dispari?

Risposte

1. **8 su 25**
2. **circle**
3. **25**
4. **diamond**
5. **7**
6. **1 su 7**
7. **3 su 7**
8. **4 su 7**
9. **3 su 7**
10. **5 su 6**
11. **1 su 6**
12. **3 su 6**

1-10	92	83	75	67	58	50	42	33	25	17
11-12	8	0								

Probabilità di base

Nome:

Usa ogni diagramma per risolvere i problemi.

1) Se dovessi lanciare i dadi una volta, qual è la probabilità che esca su 6?

2) Se dovessi tirare i dadi una volta, qual è la probabilità che {NON} finisca su un 1?

3) Se dovessi tirare i dadi una volta, qual è la probabilità che esca su un numero Dispari?

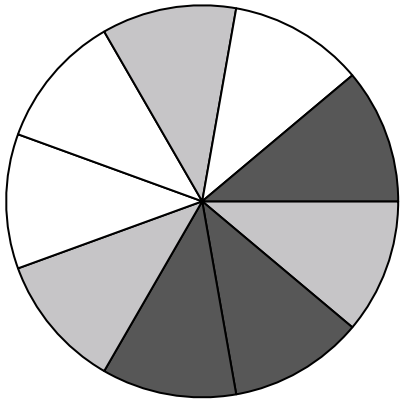

4) Se fai girare la trottola 1 volta, qual è la probabilità di atterrare su un pezzo black o su un pezzo white?

5) Se fai girare la trottola 1 volta, qual è la probabilità che finisca su un pezzo nero?

6) Se fai girare la trottola 1 volta, qual è la probabilità che finisca su un pezzo grigio?

7) Quanti pezzi ci sono in totale nella trottola?

8) Se fai girare la trottola 1 volta, qual è la probabilità che finisca su un pezzo bianco?



9) Quante forme ci sono in totale nell'array?

10) Se dovessi selezionare 1 forma a caso dall'array, qual è la probabilità che sia un diamond?

11) Se dovessi selezionare 1 forma a caso dall'array, quale forma avresti la maggiore probabilità di selezionare?

12) Quale forma ha una probabilità del 45,00% (9 su 20) di essere selezionata?

Risposte

1. _____
2. _____
3. _____
4. _____
5. _____
6. _____
7. _____
8. _____
9. _____
10. _____
11. _____
12. _____

1-10	92	83	75	67	58	50	42	33	25	17
11-12	8	0								

Probabilità di base

Nome: **Soluzioni**

Usa ogni diagramma per risolvere i problemi.

1) Se dovessi lanciare i dadi una volta, qual è la probabilità che esca su 6?

2) Se dovessi tirare i dadi una volta, qual è la probabilità che {NON} finisca su un 1?

3) Se dovessi tirare i dadi una volta, qual è la probabilità che esca su un numero Dispari?

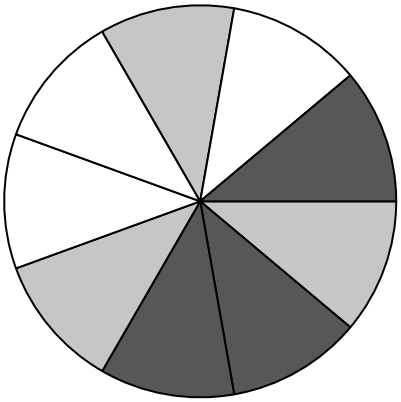

4) Se fai girare la trottola 1 volta, qual è la probabilità di atterrare su un pezzo black o su un pezzo white?

5) Se fai girare la trottola 1 volta, qual è la probabilità che finisca su un pezzo nero?

6) Se fai girare la trottola 1 volta, qual è la probabilità che finisca su un pezzo grigio?

7) Quanti pezzi ci sono in totale nella trottola?

8) Se fai girare la trottola 1 volta, qual è la probabilità che finisca su un pezzo bianco?



9) Quante forme ci sono in totale nell'array?

10) Se dovessi selezionare 1 forma a caso dall'array, qual è la probabilità che sia un diamond?

11) Se dovessi selezionare 1 forma a caso dall'array, quale forma avresti la maggiore probabilità di selezionare?

12) Quale forma ha una probabilità del 45,00% (9 su 20) di essere selezionata?

Risposte

1. 1 su 6
2. 5 su 6
3. 3 su 6
4. 6 su 9
5. 3 su 9
6. 3 su 9
7. 9
8. 3 su 9
9. 20
10. 4 su 20
11. diamond
12. star

1-10	92	83	75	67	58	50	42	33	25	17
11-12	8	0								

Probabilità di base

Nome:

Usa ogni diagramma per risolvere i problemi.



1) Se dovessi selezionare 1 forma a caso dall'array, qual è la probabilità che sia un diamond?

2) Se dovessi selezionare 1 forma a caso dall'array, quale forma avresti la maggiore probabilità di selezionare?

3) Quante forme ci sono in totale nell'array?

4) Quale forma ha una probabilità del 30,00% (6 su 20) di essere selezionata?

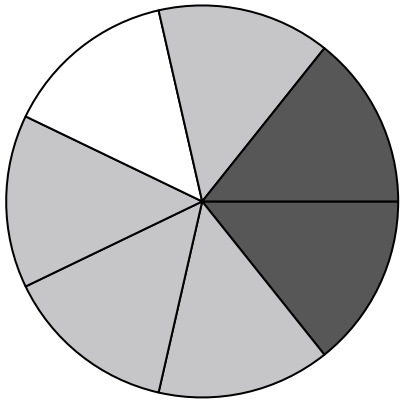

5) Se fai girare la trottola 1 volta, qual è la probabilità che finisca su un pezzo nero?

6) Se fai girare la trottola 1 volta, qual è la probabilità che finisca su un pezzo grigio?

7) Se fai girare la trottola 1 volta, qual è la probabilità di atterrare su un pezzo white o su un pezzo gray?

8) Quanti pezzi ci sono in totale nella trottola?

9) Se fai girare la trottola 1 volta, qual è la probabilità che finisca su un pezzo bianco?

10) Se dovessi tirare i dadi una volta, qual è la probabilità che esca su un numero Pari?

11) Se dovessi tirare i dadi una volta, qual è la probabilità che {NON} finisca su un 1?

12) Se dovessi lanciare i dadi una volta, qual è la probabilità che esca su 5?

Risposte

1. _____
2. _____
3. _____
4. _____
5. _____
6. _____
7. _____
8. _____
9. _____
10. _____
11. _____
12. _____

1-10	92	83	75	67	58	50	42	33	25	17
11-12	8	0								

Probabilità di base

Nome: **Soluzioni**

Usa ogni diagramma per risolvere i problemi.



1) Se dovessi selezionare 1 forma a caso dall'array, qual è la probabilità che sia un diamond?

2) Se dovessi selezionare 1 forma a caso dall'array, quale forma avresti la maggiore probabilità di selezionare?

3) Quante forme ci sono in totale nell'array?

4) Quale forma ha una probabilità del 30,00% (6 su 20) di essere selezionata?

5) Se fai girare la trottola 1 volta, qual è la probabilità che finisca su un pezzo nero?

6) Se fai girare la trottola 1 volta, qual è la probabilità che finisca su un pezzo grigio?

7) Se fai girare la trottola 1 volta, qual è la probabilità di atterrare su un pezzo white o su un pezzo gray?

8) Quanti pezzi ci sono in totale nella trottola?

9) Se fai girare la trottola 1 volta, qual è la probabilità che finisca su un pezzo bianco?

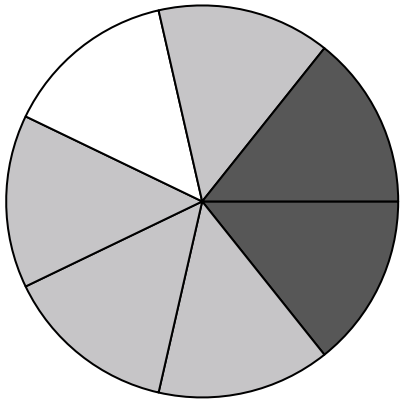

10) Se dovessi tirare i dadi una volta, qual è la probabilità che esca su un numero Pari?

11) Se dovessi tirare i dadi una volta, qual è la probabilità che {NON} finisca su un 1?

12) Se dovessi lanciare i dadi una volta, qual è la probabilità che esca su 5?

Risposte

1. 5 su 20
2. diamond
3. 20
4. square
5. 2 su 7
6. 4 su 7
7. 5 su 7
8. 7
9. 1 su 7
10. 3 su 6
11. 5 su 6
12. 1 su 6

1-10	92	83	75	67	58	50	42	33	25	17
11-12	8	0								

Probabilità di base

Nome:

Usa ogni diagramma per risolvere i problemi.

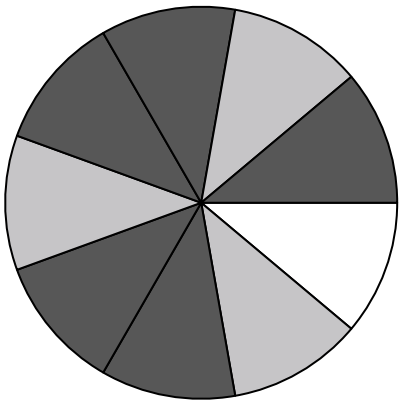

1) Quanti pezzi ci sono in totale nella trottola?

2) Se fai girare la trottola 1 volta, qual è la probabilità che finisca su un pezzo bianco?

3) Se fai girare la trottola 1 volta, qual è la probabilità che finisca su un pezzo grigio?

4) Se fai girare la trottola 1 volta, qual è la probabilità che finisca su un pezzo nero?

5) Se fai girare la trottola 1 volta, qual è la probabilità di atterrare su un pezzo black o su un pezzo gray?

6) Quale forma ha una probabilità del 37,50% (6 su 16) di essere selezionata?

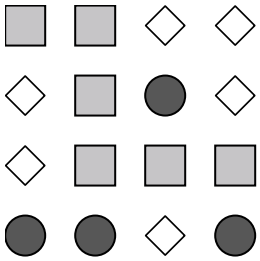

7) Se dovessi selezionare 1 forma a caso dall'array, qual è la probabilità che sia un diamond?

8) Se dovessi selezionare 1 forma a caso dall'array, quale forma avresti la maggiore probabilità di selezionare?

9) Quante forme ci sono in totale nell'array?

10) Se dovessi tirare i dadi una volta, qual è la probabilità che {NON} finisca su un 1?

11) Se dovessi tirare i dadi una volta, qual è la probabilità che esca su un numero Dispari?

12) Se dovessi lanciare i dadi una volta, qual è la probabilità che esca su 4?

Risposte

1. _____
2. _____
3. _____
4. _____
5. _____
6. _____
7. _____
8. _____
9. _____
10. _____
11. _____
12. _____

1-10	92	83	75	67	58	50	42	33	25	17
11-12	8	0								

Probabilità di base

Nome: **Soluzioni**

Usa ogni diagramma per risolvere i problemi.

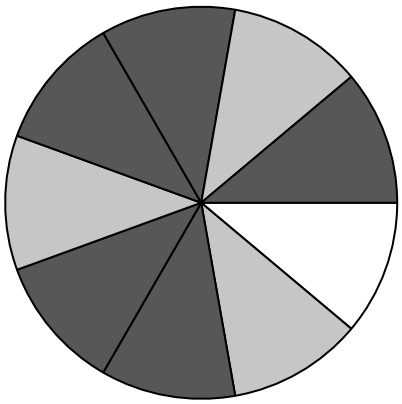

1) Quanti pezzi ci sono in totale nella trottola?

2) Se fai girare la trottola 1 volta, qual è la probabilità che finisca su un pezzo bianco?

3) Se fai girare la trottola 1 volta, qual è la probabilità che finisca su un pezzo grigio?

4) Se fai girare la trottola 1 volta, qual è la probabilità che finisca su un pezzo nero?

5) Se fai girare la trottola 1 volta, qual è la probabilità di atterrare su un pezzo black o su un pezzo gray?

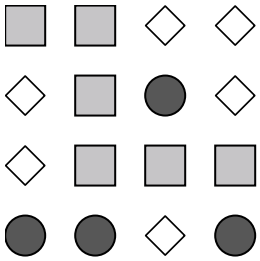

6) Quale forma ha una probabilità del 37,50% (6 su 16) di essere selezionata?

7) Se dovessi selezionare 1 forma a caso dall'array, qual è la probabilità che sia un diamond?

8) Se dovessi selezionare 1 forma a caso dall'array, quale forma avresti la maggiore probabilità di selezionare?

9) Quante forme ci sono in totale nell'array?

10) Se dovessi tirare i dadi una volta, qual è la probabilità che {NON} finisca su un 1?

11) Se dovessi tirare i dadi una volta, qual è la probabilità che esca su un numero Dispari?

12) Se dovessi lanciare i dadi una volta, qual è la probabilità che esca su 4?

Risposte

1. 9
2. 1 su 9
3. 3 su 9
4. 5 su 9
5. 8 su 9
6. square
7. 6 su 16
8. circle
9. 16
10. 5 su 6
11. 3 su 6
12. 1 su 6

1-10	92	83	75	67	58	50	42	33	25	17
11-12	8	0								

Probabilità di base

Nome:

Usa ogni diagramma per risolvere i problemi.



1) Quante forme ci sono in totale nell'array?

2) Se dovessi selezionare 1 forma a caso dall'array, qual è la probabilità che sia un diamond?

3) Quale forma ha una probabilità del 45,00% (9 su 20) di essere selezionata?

4) Se dovessi selezionare 1 forma a caso dall'array, quale forma avresti la maggiore probabilità di selezionare?

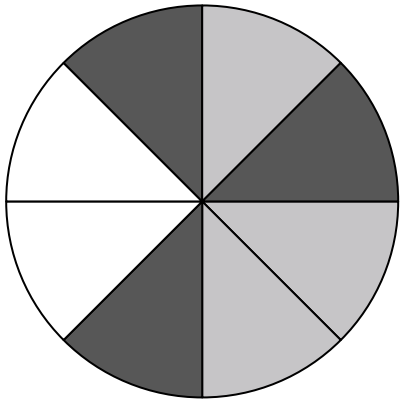

5) Se fai girare la trottola 1 volta, qual è la probabilità che finisca su un pezzo nero?

6) Quanti pezzi ci sono in totale nella trottola?

7) Se fai girare la trottola 1 volta, qual è la probabilità che finisca su un pezzo grigio?

8) Se fai girare la trottola 1 volta, qual è la probabilità che finisca su un pezzo bianco?

9) Se fai girare la trottola 1 volta, qual è la probabilità di atterrare su un pezzo gray o su un pezzo white?

10) Se dovessi lanciare i dadi una volta, qual è la probabilità che esca su 5?

11) Se dovessi tirare i dadi una volta, qual è la probabilità che {NON} finisca su un 1?

12) Se dovessi tirare i dadi una volta, qual è la probabilità che esca su un numero Dispari?

Risposte

1. _____
2. _____
3. _____
4. _____
5. _____
6. _____
7. _____
8. _____
9. _____
10. _____
11. _____
12. _____

1-10	92	83	75	67	58	50	42	33	25	17
11-12	8	0								

Probabilità di base

Nome: **Soluzioni**

Usa ogni diagramma per risolvere i problemi.



1) Quante forme ci sono in totale nell'array?

2) Se dovessi selezionare 1 forma a caso dall'array, qual è la probabilità che sia un diamond?

3) Quale forma ha una probabilità del 45,00% (9 su 20) di essere selezionata?

4) Se dovessi selezionare 1 forma a caso dall'array, quale forma avresti la maggiore probabilità di selezionare?

5) Se fai girare la trottola 1 volta, qual è la probabilità che finisca su un pezzo nero?

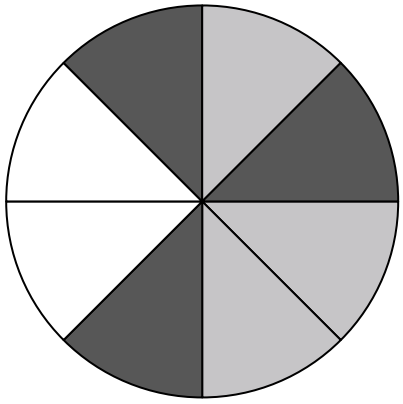

6) Quanti pezzi ci sono in totale nella trottola?

7) Se fai girare la trottola 1 volta, qual è la probabilità che finisca su un pezzo grigio?

8) Se fai girare la trottola 1 volta, qual è la probabilità che finisca su un pezzo bianco?

9) Se fai girare la trottola 1 volta, qual è la probabilità di atterrare su un pezzo gray o su un pezzo white?

10) Se dovessi lanciare i dadi una volta, qual è la probabilità che esca su 5?

11) Se dovessi tirare i dadi una volta, qual è la probabilità che {NON} finisca su un 1?

12) Se dovessi tirare i dadi una volta, qual è la probabilità che esca su un numero Dispari?

Risposte

1. 20
2. 4 su 20
3. circle
4. diamond
5. 3 su 8
6. 8
7. 3 su 8
8. 2 su 8
9. 5 su 8
10. 1 su 6
11. 5 su 6
12. 3 su 6

1-10	92	83	75	67	58	50	42	33	25	17
11-12	8	0								