Usa ogni diagramma per risolvere i problemi.

1) Se dovessi lanciare i dadi una volta, qual è la probabilità che esca su 3?

2) Se dovessi tirare i dadi una volta, qual è la probabilità che {NON} finisca su un 1?

3) Se dovessi tirare i dadi una volta, qual è la probabilità che esca su un numero Dispari?

4) Quale forma ha una probabilità del 40,00% (8 su 20) di essere selezionata?



5) Quante forme ci sono in totale nell'array?

6) Se dovessi selezionare 1 forma a caso dall'array, quale forma avresti la maggiore probabilità di selezionare?

7) Se dovessi selezionare 1 forma a caso dall'array, qual è la probabilità che sia un diamond?

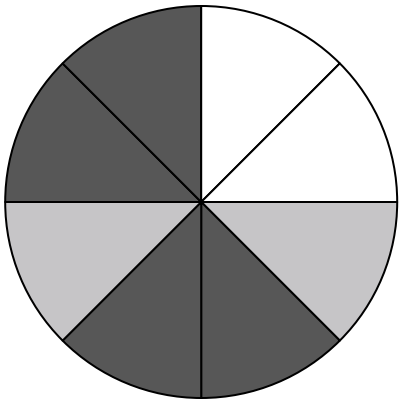

8) Se fai girare la trottola 1 volta, qual è la probabilità che finisca su un pezzo bianco?

9) Se fai girare la trottola 1 volta, qual è la probabilità che finisca su un pezzo nero?

10) Se fai girare la trottola 1 volta, qual è la probabilità che finisca su un pezzo grigio?

11) Quanti pezzi ci sono in totale nella trottola?

12) Se fai girare la trottola 1 volta, qual è la probabilità di atterrare su un pezzo white o su un pezzo gray?

Risposte

1. _____
2. _____
3. _____
4. _____
5. _____
6. _____
7. _____
8. _____
9. _____
10. _____
11. _____
12. _____

1-10	92	83	75	67	58	50	42	33	25	17
11-12	8	0								

Usa ogni diagramma per risolvere i problemi.

1) Se dovessi lanciare i dadi una volta, qual è la probabilità che esca su 3?

2) Se dovessi tirare i dadi una volta, qual è la probabilità che {NON} finisca su un 1?

3) Se dovessi tirare i dadi una volta, qual è la probabilità che esca su un numero Dispari?



4) Quale forma ha una probabilità del 40,00% (8 su 20) di essere selezionata?

5) Quante forme ci sono in totale nell'array?

6) Se dovessi selezionare 1 forma a caso dall'array, quale forma avresti la maggiore probabilità di selezionare?

7) Se dovessi selezionare 1 forma a caso dall'array, qual è la probabilità che sia un diamond?

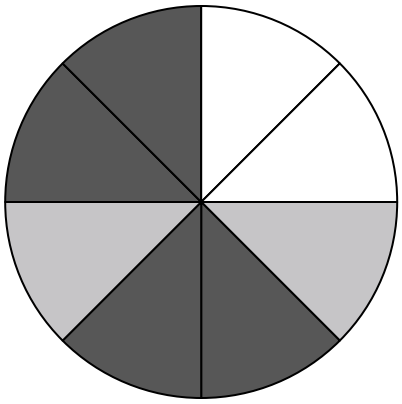

8) Se fai girare la trottola 1 volta, qual è la probabilità che finisca su un pezzo bianco?

9) Se fai girare la trottola 1 volta, qual è la probabilità che finisca su un pezzo nero?

10) Se fai girare la trottola 1 volta, qual è la probabilità che finisca su un pezzo grigio?

11) Quanti pezzi ci sono in totale nella trottola?

12) Se fai girare la trottola 1 volta, qual è la probabilità di atterrare su un pezzo white o su un pezzo gray?

Risposte

1. **1 su 6**
2. **5 su 6**
3. **3 su 6**
4. **circle**
5. **20**
6. **diamond**
7. **6 su 20**
8. **2 su 8**
9. **4 su 8**
10. **2 su 8**
11. **8**
12. **4 su 8**

1-10	92	83	75	67	58	50	42	33	25	17
11-12	8	0								