Determinazione della percentuale di probabilità del filatore Nome:

Risolvi ogni problema. Arrotonda la tua risposta al decimo più vicino.

1)

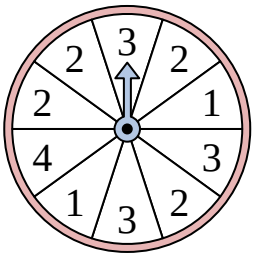

L'indicatore ha una probabilità del _____% di fermarsi su 2.

2)

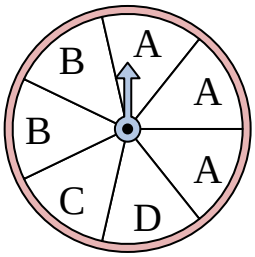

L'indicatore ha una probabilità del _____% di fermarsi su D.

3)

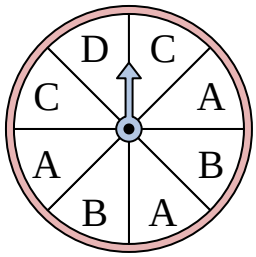

L'indicatore ha una probabilità del _____% di fermarsi su A.

4)

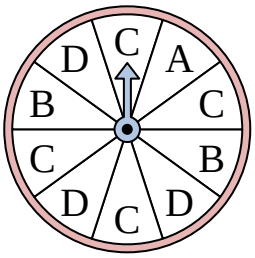

L'indicatore ha una probabilità del _____% di fermarsi su D.

5)

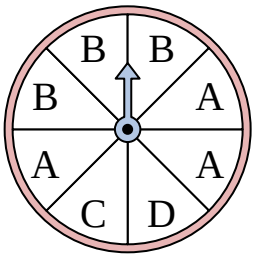

L'indicatore ha una probabilità del _____% di fermarsi su D.

6)

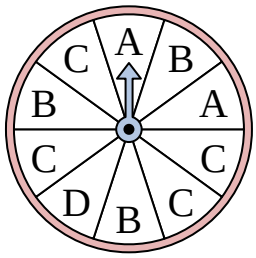

L'indicatore ha una probabilità del _____% di fermarsi su B.

7)

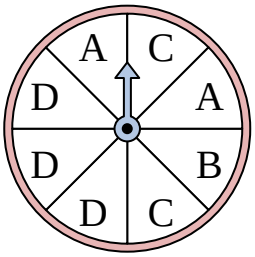

L'indicatore ha una probabilità del _____% di fermarsi su D.

8)

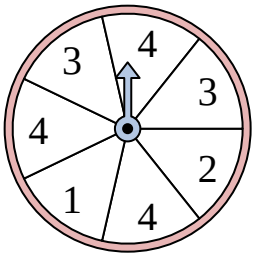

L'indicatore ha una probabilità del _____% di fermarsi su 2.

9)

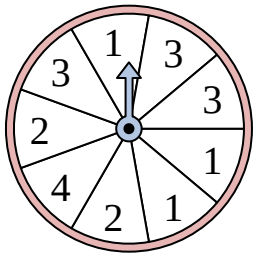

L'indicatore ha una probabilità del _____% di fermarsi su 1.

10)

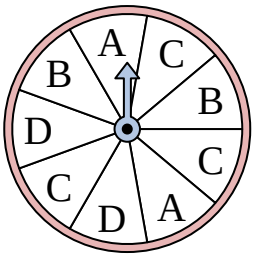

L'indicatore ha una probabilità del _____% di fermarsi su C.

11)

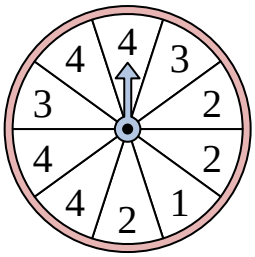

L'indicatore ha una probabilità del _____% di fermarsi su 4.

12)

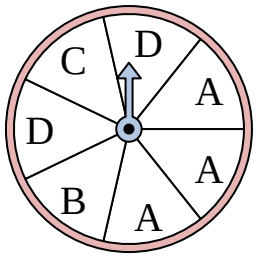

L'indicatore ha una probabilità del _____% di fermarsi su D.

Risposte

1. _____
2. _____
3. _____
4. _____
5. _____
6. _____
7. _____
8. _____
9. _____
10. _____
11. _____
12. _____

1-10	92	83	75	67	58	50	42	33	25	17
11-12	8	0								

Determinazione della percentuale di probabilità del filatore Nome: **Soluzioni**

Risolvi ogni problema. Arrotonda la tua risposta al decimo più vicino.

1)

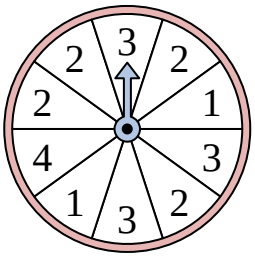

L'indicatore ha una probabilità del _____% di fermarsi su 2.

2)

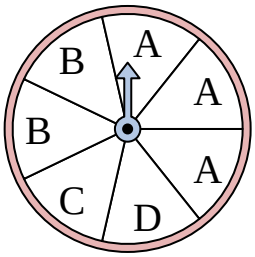

L'indicatore ha una probabilità del _____% di fermarsi su D.

3)

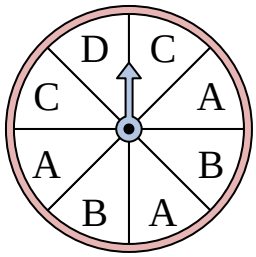

L'indicatore ha una probabilità del _____% di fermarsi su A.

4)

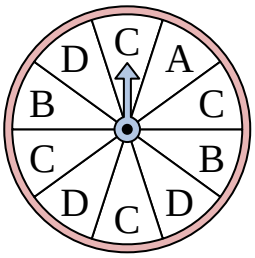

L'indicatore ha una probabilità del _____% di fermarsi su D.

5)

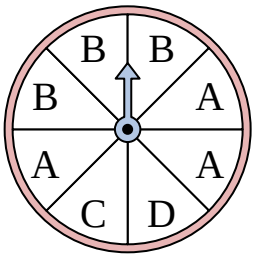

L'indicatore ha una probabilità del _____% di fermarsi su D.

6)

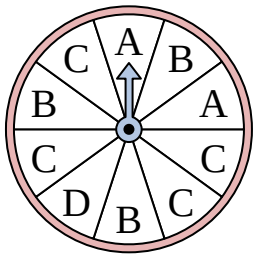

L'indicatore ha una probabilità del _____% di fermarsi su B.

7)

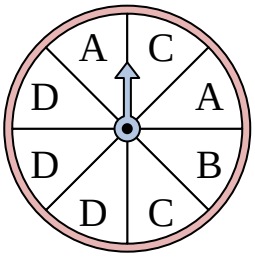

L'indicatore ha una probabilità del _____% di fermarsi su D.

8)

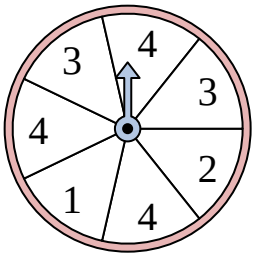

L'indicatore ha una probabilità del _____% di fermarsi su 2.

9)

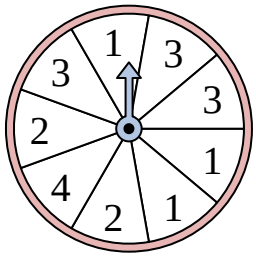

L'indicatore ha una probabilità del _____% di fermarsi su 1.

10)

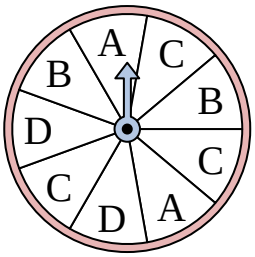

L'indicatore ha una probabilità del _____% di fermarsi su C.

11)

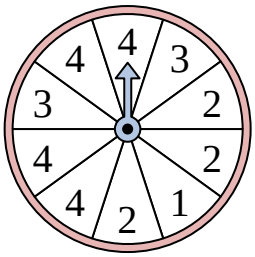

L'indicatore ha una probabilità del _____% di fermarsi su 4.

12)

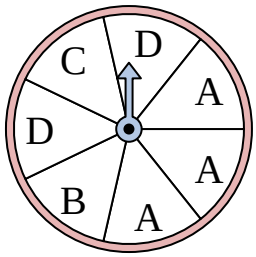

L'indicatore ha una probabilità del _____% di fermarsi su D.

Risposte

1. 40
2. 14,3
3. 37,5
4. 30
5. 12,5
6. 30
7. 37,5
8. 14,3
9. 33,3
10. 33,3
11. 40
12. 28,6

1-10	92	83	75	67	58	50	42	33	25	17
11-12	8	0								