Trovare la differenza con i grafici a linee frazionarie

Nome:

Usa i grafici a linee per rispondere a ogni domanda.

1) Il grafico a linee sottostante mostra la quantità di acqua (in galloni) che gli studenti hanno bevuto in una settimana.

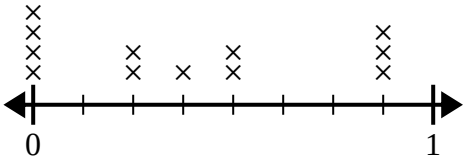

Qual è la differenza tra la quantità minima di acqua e la quantità maggiore di acqua bevuta dagli studenti?

2) Il grafico a linee di seguito mostra l'altezza (in pollici) di diverse marche di telefoni.

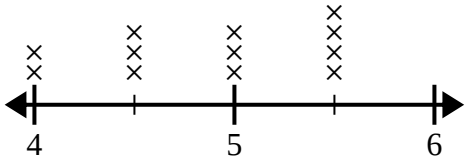

Qual è la differenza di altezza tra il telefono più corto e il telefono più lungo?

3) Il grafico a linee sottostante mostra le dimensioni (in pollici) di diverse specie di rane.

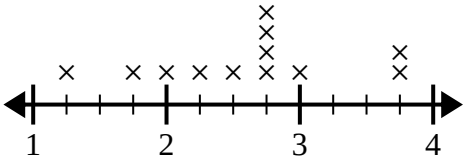

Qual è la differenza di dimensioni tra la specie più corta e la specie più lunga di rana?

4) Il grafico a linee sottostante mostra la distanza vissuta dagli studenti dalla scuola (in miglia).

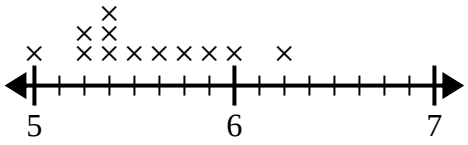

Qual è la differenza in miglia tra gli studenti che vivono più vicini e quelli più lontani?

5) Il grafico a linee sottostante mostra la distanza (in miglia) Caterina percorsa ogni giorno.

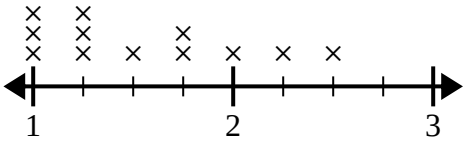

Qual è la differenza di distanza tra il minor numero di miglia che ha percorso in un giorno e la maggior parte delle miglia che ha percorso in un giorno?

6) Il grafico a linee sotto mostra la lunghezza (in piedi) dei capelli delle ragazze nella classe di Mr.Wood.

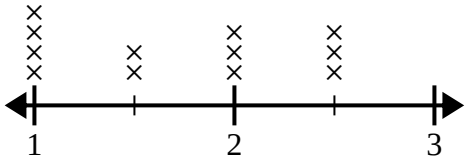

Qual è la differenza di lunghezza tra le ragazze con i capelli più corti e quelli più lunghi?

Risposte

1. _____
2. _____
3. _____
4. _____
5. _____
6. _____

1-6	83	67	50	33	17	0

Trovare la differenza con i grafici a linee frazionarie Nome: **Soluzioni**

Usa i grafici a linee per rispondere a ogni domanda.

1) Il grafico a linee sottostante mostra la quantità di acqua (in galloni) che gli studenti hanno bevuto in una settimana.

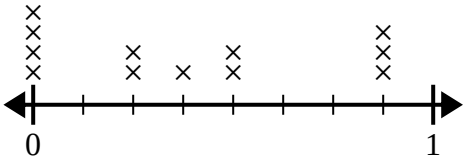

Qual è la differenza tra la quantità minima di acqua e la quantità maggiore di acqua bevuta dagli studenti?

2) Il grafico a linee di seguito mostra l'altezza (in pollici) di diverse marche di telefoni.

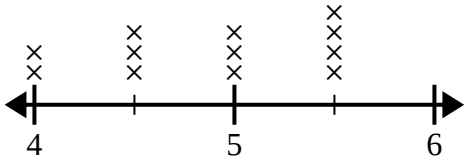

Qual è la differenza di altezza tra il telefono più corto e il telefono più lungo?

3) Il grafico a linee sottostante mostra le dimensioni (in pollici) di diverse specie di rane.

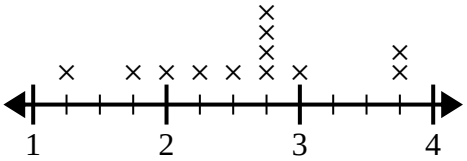

Qual è la differenza di dimensioni tra la specie più corta e la specie più lunga di rana?

4) Il grafico a linee sottostante mostra la distanza vissuta dagli studenti dalla scuola (in miglia).

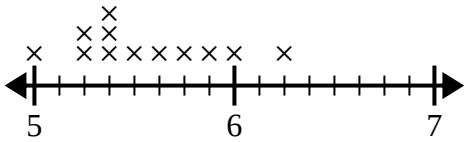

Qual è la differenza in miglia tra gli studenti che vivono più vicini e quelli più lontani?

5) Il grafico a linee sottostante mostra la distanza (in miglia) Caterina percorsa ogni giorno.

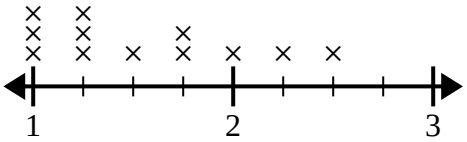

Qual è la differenza di distanza tra il minor numero di miglia che ha percorso in un giorno e la maggior parte delle miglia che ha percorso in un giorno?

6) Il grafico a linee sotto mostra la lunghezza (in piedi) dei capelli delle ragazze nella classe di Mr.Wood.

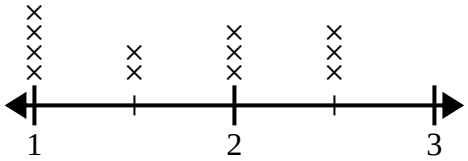

Qual è la differenza di lunghezza tra le ragazze con i capelli più corti e quelli più lunghi?

Risposte

1. $\frac{7}{8}$
2. $1\frac{1}{2}$
3. $2\frac{2}{4}$
4. $1\frac{2}{8}$
5. $1\frac{2}{4}$
6. $1\frac{1}{2}$

1-6	83	67	50	33	17	0