Usa la griglia per risolvere ogni problema.

= Stazione di servizio

= Centro commerciale

= 1 Square miglio

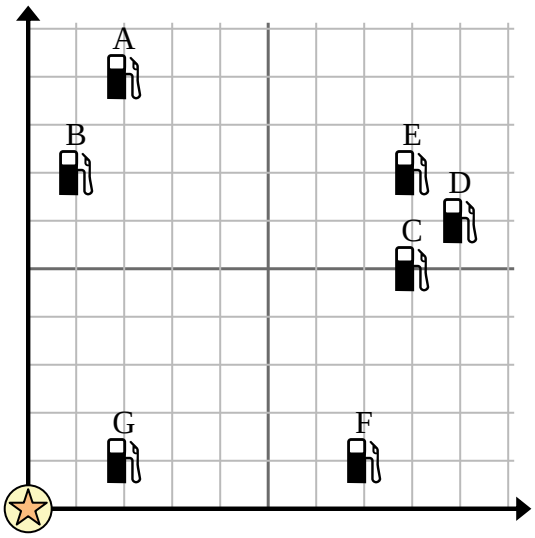

1) Gli investitori volevano costruire una nuova stazione di servizio, ma volevano assicurarsi che fosse ad almeno 2 miglia da una stazione preesistente. Dovrebbero costruire una stazione di servizio 8 miglia a est e 4 miglia a nord del centro commerciale?

2) Quale distributore di benzina è più vicino al centro commerciale?

3) Quale distributore di benzina è più lontano dal centro commerciale?

4) Quale distributore di benzina è più lontano east? Stazione C o Stazione B?

5) Se dovessi andare a 8 miglia a est e 5 miglia a nord dal centro commerciale, in quale stazione di servizio finiresti?

6) Una nuova nave voleva pescare, ma il capitano voleva assicurarsi che fossero ad almeno 2 miglia da un'altra nave. Se avesse navigato per 5 miglia a est e 8 miglia a nord, quel posto gli andrebbe bene?

7) Quale nave è più vicina alla boa?

8) Quale nave è più lontana dalla boa?

9) Quale nave è più avanti south? Spedire G o spedire F?

10) Quale nave si trova a 2 miglia a est e 4 miglia a nord dalla boa?

= Nave

= Boa

= 1 Square miglio

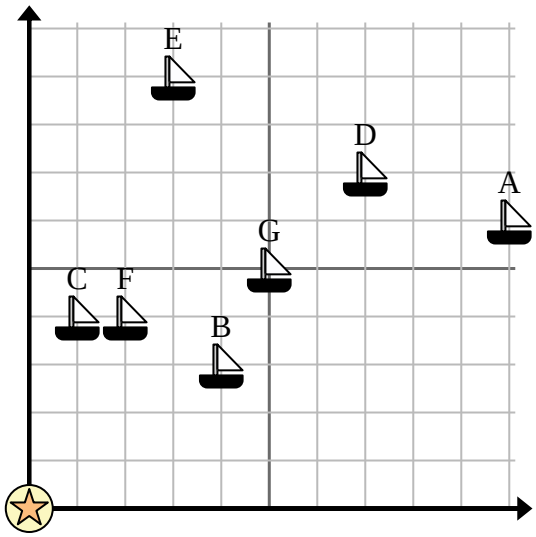

Risposte

1. _____
2. _____
3. _____
4. _____
5. _____
6. _____
7. _____
8. _____
9. _____
10. _____

1-10	90	80	70	60	50	40	30	20	10	0

Utilizzo delle griglie nel contesto del mondo reale Nome: **Soluzioni**

Usa la griglia per risolvere ogni problema.

= Stazione di servizio

= Centro commerciale

= 1 Square miglio

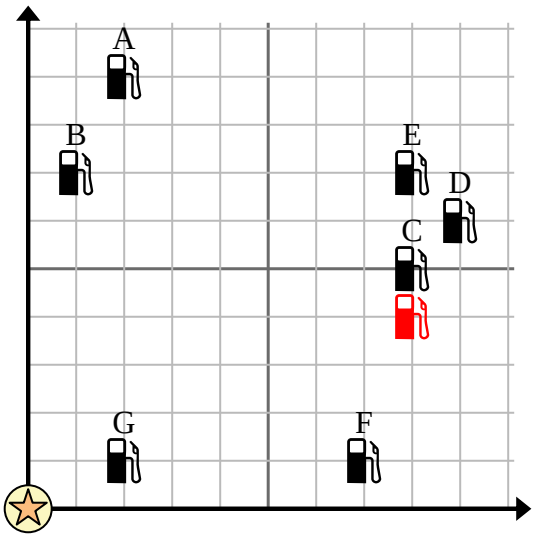

1) Gli investitori volevano costruire una nuova stazione di servizio, ma volevano assicurarsi che fosse ad almeno 2 miglia da una stazione preesistente. Dovrebbero costruire una stazione di servizio 8 miglia a est e 4 miglia a nord del centro commerciale?

2) Quale distributore di benzina è più vicino al centro commerciale?

3) Quale distributore di benzina è più lontano dal centro commerciale?

4) Quale distributore di benzina è più lontano east? Stazione C o Stazione B?

5) Se dovessi andare a 8 miglia a est e 5 miglia a nord dal centro commerciale, in quale stazione di servizio finiresti?

6) Una nuova nave voleva pescare, ma il capitano voleva assicurarsi che fossero ad almeno 2 miglia da un'altra nave. Se avesse navigato per 5 miglia a est e 8 miglia a nord, quel posto gli andrebbe bene?

7) Quale nave è più vicina alla boa?

8) Quale nave è più lontana dalla boa?

9) Quale nave è più avanti south? Spedire G o spedire F?

10) Quale nave si trova a 2 miglia a est e 4 miglia a nord dalla boa?

= Nave

= Boa

= 1 Square miglio

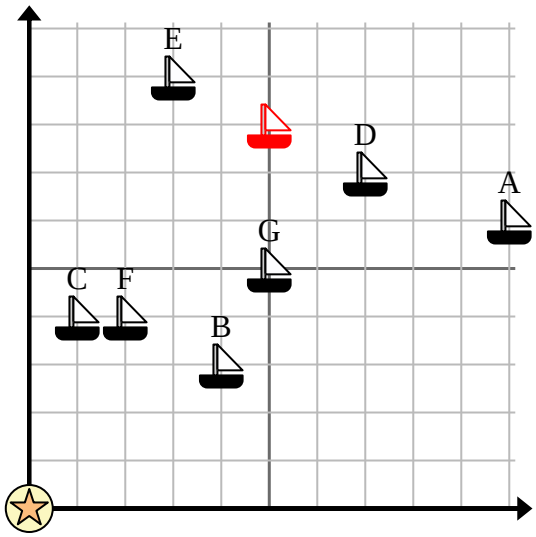

Risposte

1. no
2. G
3. D
4. C
5. C
6. si
7. C
8. A
9. F
10. F

1-10	90	80	70	60	50	40	30	20	10	0