Determina quali affermazioni sul grafico sono vere.

Risposte

1. _____
2. _____
3. _____

1)

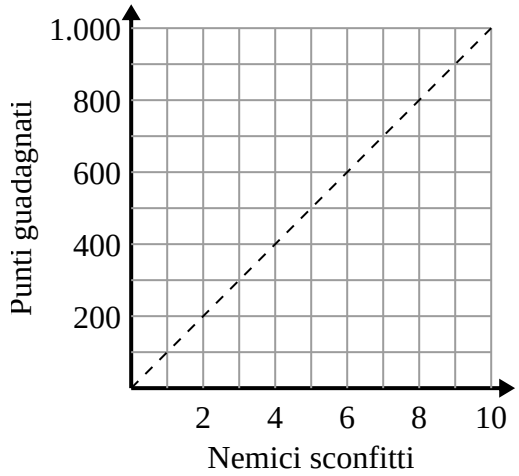

A. Il punto (700 , 7) mostra che sconfiggere 7 nemici ti farà guadagnare 700 punti.

B. Il punto (200 , 2) mostra che sconfiggere 2 nemici ti farà guadagnare 200 punti.

C. Il punto (2 , 200) mostra che sconfiggere 2 nemici ti farà guadagnare 200 punti.

D. Il punto (5 , 500) mostra che guadagneresti 500 punti per aver sconfitto 5 nemici.

2)

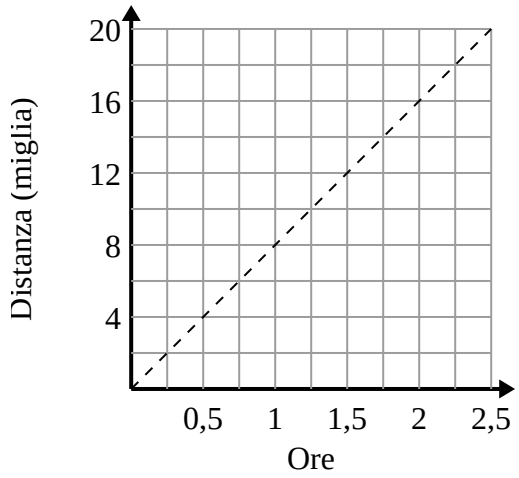

A. Il punto (1.75 , 14) mostra che per viaggiare per 14 miglia ci vorranno 1.75 ore.

B. Il punto (8 , 1) mostra che ci vogliono 1 ore per percorrere 8 miglia.

C. Il punto (0.5 , 4) mostra che ci vogliono 0.5 ore per percorrere 4 miglia.

D. Il punto (14 , 1.75) mostra che per viaggiare per 14 miglia ci vorranno 1.75 ore.

3)

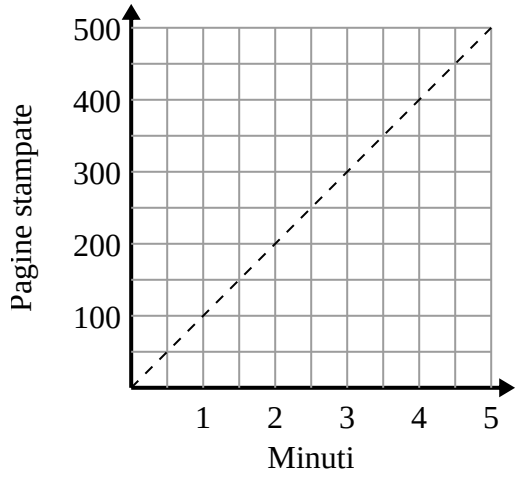

A. Il punto (1.5 , 150) mostra che occorrono 1.5 minuti per stampare 150 pagine.

B. Il punto (200 , 2) mostra che la stampa di 200 pagine richiederà 2 minuti.

C. Il punto (2.5 , 250) mostra che occorrono 2.5 minuti per stampare 250 pagine.

D. Il punto (3.5 , 350) mostra che occorrono 3.5 minuti per stampare 350 pagine.

1-3	67	33	0

Determina quali affermazioni sul grafico sono vere.

1)

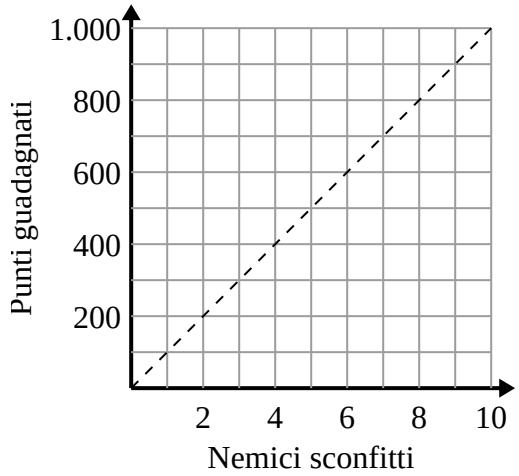

A. Il punto (700 , 7) mostra che sconfiggere 7 nemici ti farà guadagnare 700 punti.

B. Il punto (200 , 2) mostra che sconfiggere 2 nemici ti farà guadagnare 200 punti.

C. Il punto (2 , 200) mostra che sconfiggere 2 nemici ti farà guadagnare 200 punti.

D. Il punto (5 , 500) mostra che guadagneresti 500 punti per aver sconfitto 5 nemici.

2)

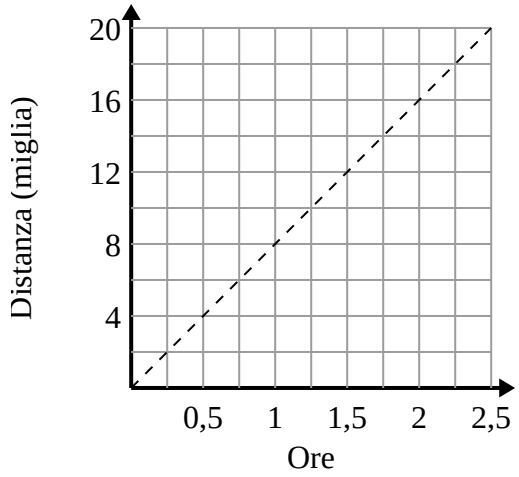

A. Il punto (1.75 , 14) mostra che per viaggiare per 14 miglia ci vorranno 1.75 ore.

B. Il punto (8 , 1) mostra che ci vogliono 1 ore per percorrere 8 miglia.

C. Il punto (0.5 , 4) mostra che ci vogliono 0.5 ore per percorrere 4 miglia.

D. Il punto (14 , 1.75) mostra che per viaggiare per 14 miglia ci vorranno 1.75 ore.

3)

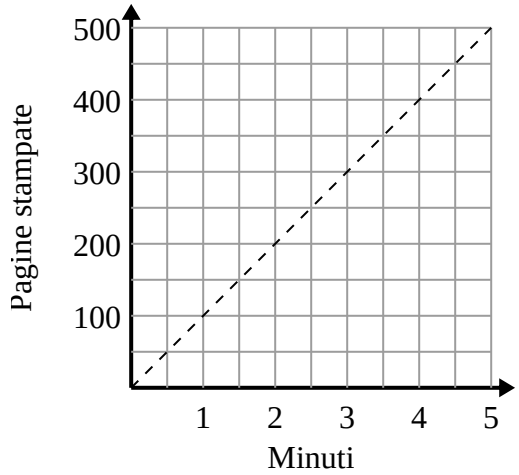

A. Il punto (1.5 , 150) mostra che occorrono 1.5 minuti per stampare 150 pagine.

B. Il punto (200 , 2) mostra che la stampa di 200 pagine richiederà 2 minuti.

C. Il punto (2.5 , 250) mostra che occorrono 2.5 minuti per stampare 250 pagine.

D. Il punto (3.5 , 350) mostra che occorrono 3.5 minuti per stampare 350 pagine.

Risposte

1. C,D
2. A,C
3. A,C,D

1-3	67	33	0