Esame dei grafici Nome:

Determina quali affermazioni sul grafico sono vere.

Risposte

1. _____

2. _____

3. _____

1)

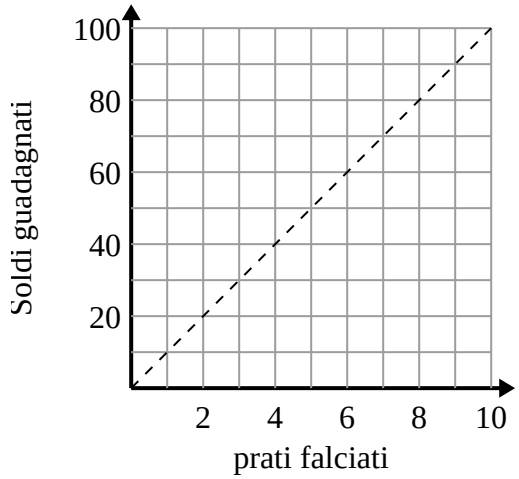

A. Il punto (3 , 30) mostra che guadagneresti $30 tagliando 3 prati.

B. Il punto (90 , 9) mostra che guadagneresti $90 tagliando 9 prati.

C. Il punto (1 , 10) mostra che la falciatura di Prato 1 ti farà guadagnare $10.

D. Il punto (10 , 1) mostra che la falciatura di Prato 1 ti farà guadagnare $10.

2)

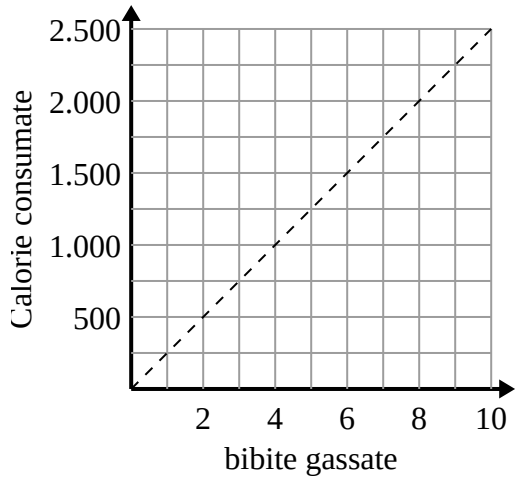

A. Il punto (2 , 500) mostra che bere 2 bibite significa che hai consumato 500 calorie.

B. Il punto (1 , 250) mostra che bere 1 bibite significa che hai consumato 250 calorie.

C. Il punto (1000 , 4) mostra che bere 4 bibite significa che hai consumato 1000 calorie.

D. Il punto (4 , 1000) mostra che per consumare 1000 calorie dovresti bere 4 bibite.

3)

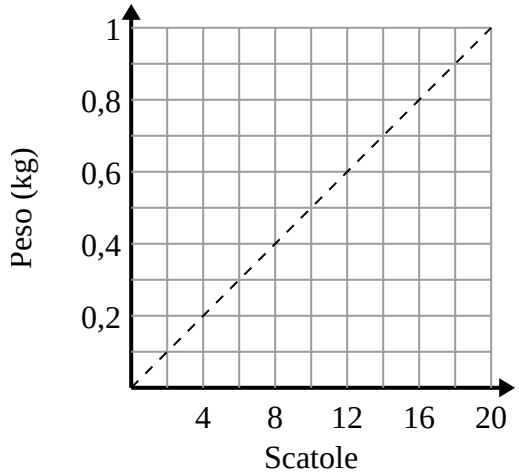

A. Il punto (4 , 0.2) mostra che 0.2 chilogrammi è il peso delle scatole 4.

B. Il punto (12 , 0.6) mostra che le scatole 12 pesano 0.6 chilogrammi.

C. Il punto (0.5 , 10) mostra che 0.5 chilogrammi è il peso delle scatole 10.

D. Il punto (16 , 0.8) mostra che le scatole 16 pesano 0.8 chilogrammi.

Esame dei grafici Nome: **Soluzioni**

Determina quali affermazioni sul grafico sono vere.

1)

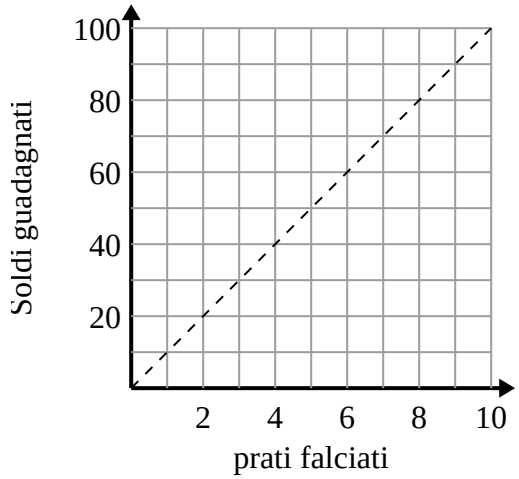

A. Il punto (3 , 30) mostra che guadagneresti $30 tagliando 3 prati.

B. Il punto (90 , 9) mostra che guadagneresti $90 tagliando 9 prati.

C. Il punto (1 , 10) mostra che la falciatura di Prato 1 ti farà guadagnare $10.

D. Il punto (10 , 1) mostra che la falciatura di Prato 1 ti farà guadagnare $10.

2)

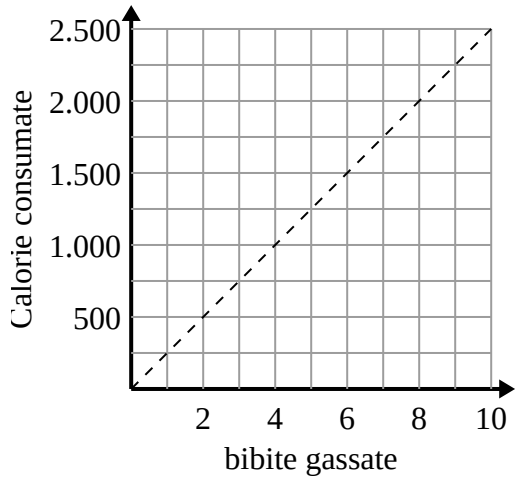

A. Il punto (2 , 500) mostra che bere 2 bibite significa che hai consumato 500 calorie.

B. Il punto (1 , 250) mostra che bere 1 bibite significa che hai consumato 250 calorie.

C. Il punto (1000 , 4) mostra che bere 4 bibite significa che hai consumato 1000 calorie.

D. Il punto (4 , 1000) mostra che per consumare 1000 calorie dovresti bere 4 bibite.

3)

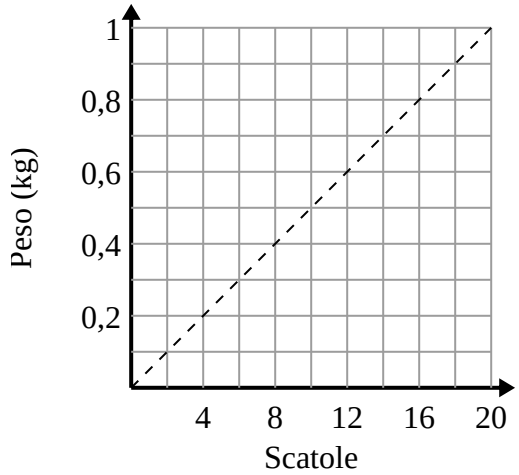

A. Il punto (4 , 0.2) mostra che 0.2 chilogrammi è il peso delle scatole 4.

B. Il punto (12 , 0.6) mostra che le scatole 12 pesano 0.6 chilogrammi.

C. Il punto (0.5 , 10) mostra che 0.5 chilogrammi è il peso delle scatole 10.

D. Il punto (16 , 0.8) mostra che le scatole 16 pesano 0.8 chilogrammi.

Risposte

1. **A,C**
2. **A,B,D**
3. **A,B,D**