Identificazione di frazioni e decimali su una ruota numerica Nome:

Risolvi ogni problema.

1) Quale scelta rappresenta la parte non ombreggiata della ruota dei numeri?

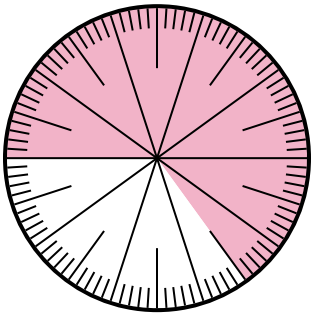

A. 0,35 B. $^{0.35}/_{100}$

C. 0,035 D. 3,50

2) Quale scelta rappresenta la parte non ombreggiata della ruota dei numeri?

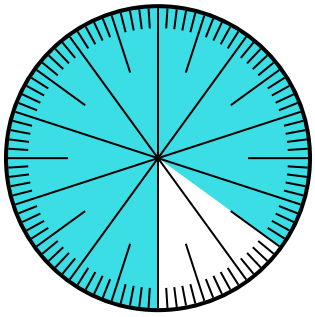

A. $^{15}/_{100}$ B. 1,50

C. $^{85}/_{15}$ D. 15

3) Quale scelta rappresenta la parte non ombreggiata della ruota dei numeri?

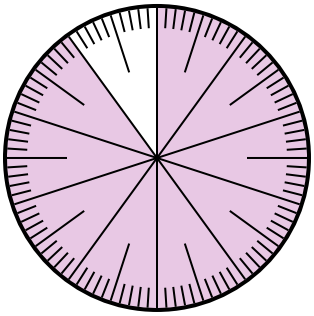

A. $^{1}/_{100}$ B. 0,1

C. 1 D. 10

4) Quale scelta rappresenta la parte ombreggiata della ruota dei numeri?



A. $^{70}/_{100}$ B. $^{70}/_{30}$

C. $^{30}/_{70}$ D. $^{7,00}/_{100}$

5) Quale scelta rappresenta la parte non ombreggiata della ruota dei numeri?

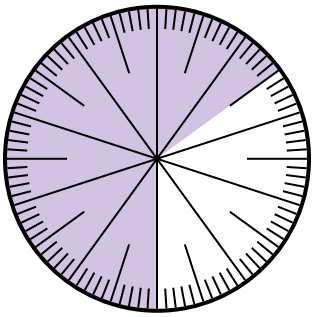

A. $^{65}/_{35}$ B. $^{35}/_{100}$

C. 0,035 D. $^{3.5}/_{100}$

6) Quale scelta rappresenta la parte ombreggiata della ruota dei numeri?

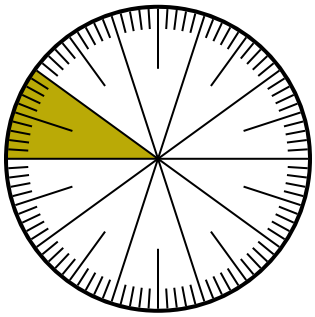

A. $^{1,00}/_{100}$ B. $^{90}/_{10}$

C. 10 D. $^{10}/_{100}$

Risposte

1. _____
2. _____
3. _____
4. _____
5. _____
6. _____

Identificazione di frazioni e decimali su una ruota numerica Nome: **Soluzioni**

Risolvi ogni problema.

1) Quale scelta rappresenta la parte non ombreggiata della ruota dei numeri?

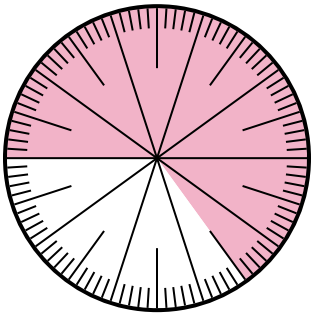

A. 0,35 B. $^{0.35}/_{100}$

C. 0,035 D. 3,50

2) Quale scelta rappresenta la parte non ombreggiata della ruota dei numeri?

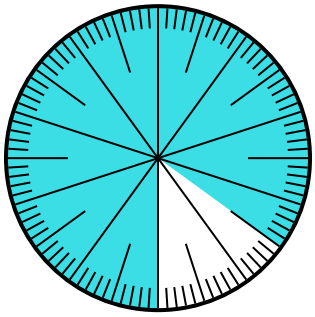

A. $^{15}/_{100}$ B. 1,50

C. $^{85}/_{15}$ D. 15

3) Quale scelta rappresenta la parte non ombreggiata della ruota dei numeri?

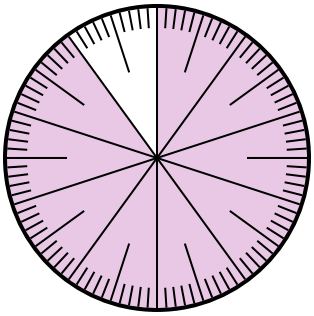

A. $^{1}/_{100}$ B. 0,1

C. 1 D. 10

4) Quale scelta rappresenta la parte ombreggiata della ruota dei numeri?



A. $^{70}/_{100}$ B. $^{70}/_{30}$

C. $^{30}/_{70}$ D. $^{7,00}/_{100}$

5) Quale scelta rappresenta la parte non ombreggiata della ruota dei numeri?

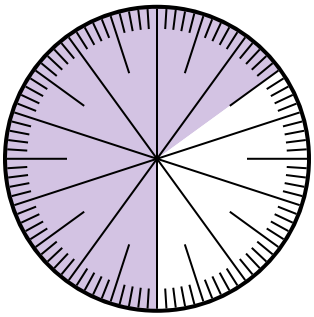

A. $^{65}/_{35}$ B. $^{35}/_{100}$

C. 0,035 D. $^{3.5}/_{100}$

6) Quale scelta rappresenta la parte ombreggiata della ruota dei numeri?

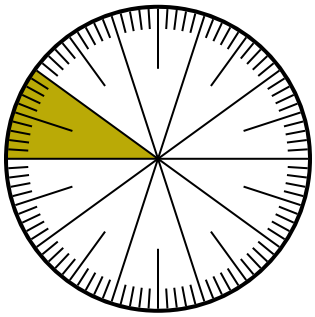

A. $^{1,00}/_{100}$ B. $^{90}/_{10}$

C. 10 D. $^{10}/_{100}$

Risposte

1. A
2. A
3. B
4. A
5. B
6. D

1-6	83	67	50	33	17	0

Identificazione di frazioni e decimali su una ruota numerica Nome:

Risolvi ogni problema.

1) Quale scelta rappresenta la parte non ombreggiata della ruota dei numeri?

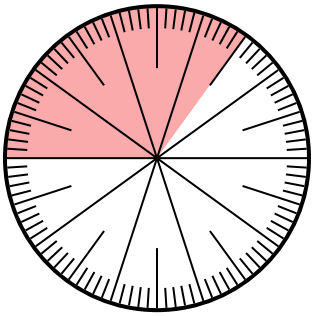

A. $^{65}/_{100}$ B. $^{6.5}/_{100}$

C. $^{35}/_{65}$ D. $^{6,50}/_{100}$

2) Quale scelta rappresenta la parte ombreggiata della ruota dei numeri?

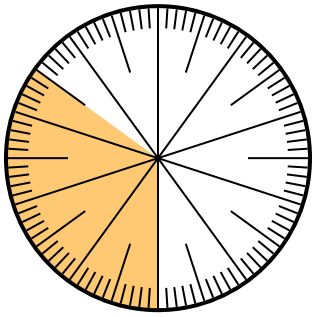

A. 3,50 B. 0,035

C. $^{3.5}/_{100}$ D. 0,35

3) Quale scelta rappresenta la parte ombreggiata della ruota dei numeri?

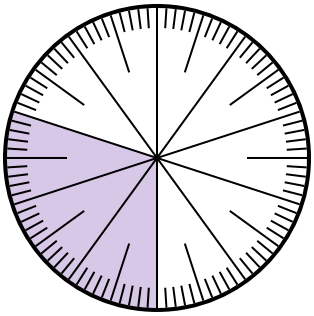

A. $^{30}/_{10}$ B. 0,3

C. 30,0 D. 3,0

4) Quale scelta rappresenta la parte non ombreggiata della ruota dei numeri?

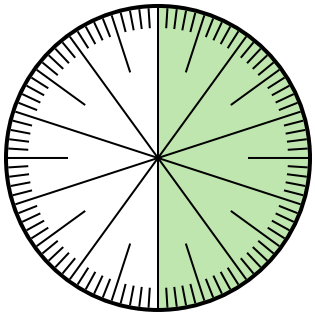

A. 0,50 B. $^{0.5}/_{100}$

C. 5 D. 50

5) Quale scelta rappresenta la parte ombreggiata della ruota dei numeri?

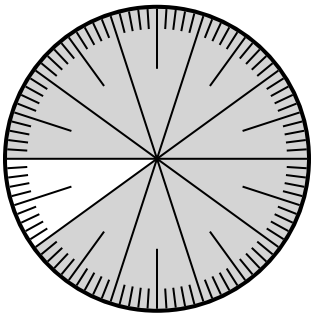

A. $^{90}/_{100}$ B. 0,090

C. 90 D. $^{9}/_{100}$

6) Quale scelta rappresenta la parte ombreggiata della ruota dei numeri?

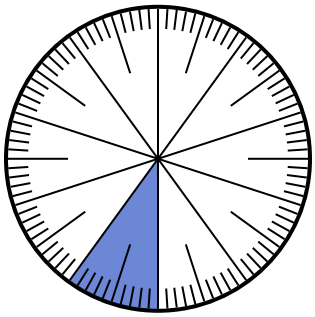

A. 0,10 B. 10

C. $^{0.1}/_{100}$ D. $^{1,00}/_{100}$

Risposte

1. _____
2. _____
3. _____
4. _____
5. _____
6. _____

1-6	83	67	50	33	17	0

Identificazione di frazioni e decimali su una ruota numerica Nome: **Soluzioni**

Risolvi ogni problema.

1) Quale scelta rappresenta la parte non ombreggiata della ruota dei numeri?

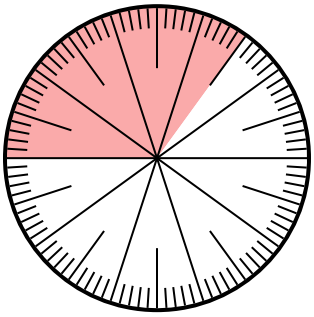

A. $^{65}/_{100}$ B. $^{6.5}/_{100}$

C. $^{35}/_{65}$ D. $^{6,50}/_{100}$

2) Quale scelta rappresenta la parte ombreggiata della ruota dei numeri?

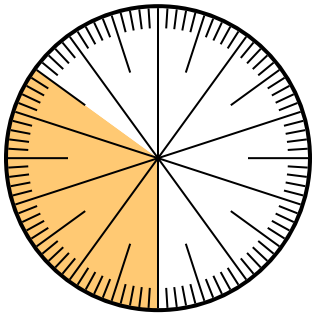

A. 3,50 B. 0,035

C. $^{3.5}/_{100}$ D. 0,35

3) Quale scelta rappresenta la parte ombreggiata della ruota dei numeri?

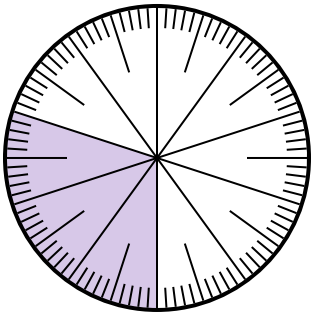

A. $^{30}/_{10}$ B. 0,3

C. 30,0 D. 3,0

4) Quale scelta rappresenta la parte non ombreggiata della ruota dei numeri?

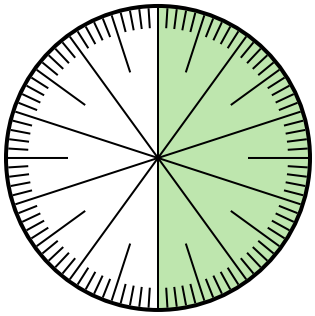

A. 0,50 B. $^{0.5}/_{100}$

C. 5 D. 50

5) Quale scelta rappresenta la parte ombreggiata della ruota dei numeri?

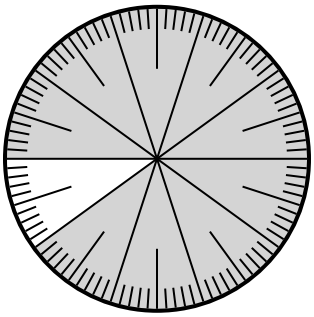

A. $^{90}/_{100}$ B. 0,090

C. 90 D. $^{9}/_{100}$

6) Quale scelta rappresenta la parte ombreggiata della ruota dei numeri?

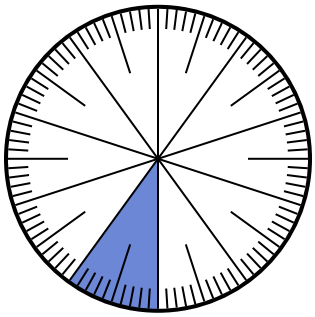

A. 0,10 B. 10

C. $^{0.1}/_{100}$ D. $^{1,00}/_{100}$

Risposte

1. A
2. D
3. B
4. A
5. A
6. A

1-6	83	67	50	33	17	0

Identificazione di frazioni e decimali su una ruota numerica Nome:

Risolvi ogni problema.

1) Quale scelta rappresenta la parte ombreggiata della ruota dei numeri?

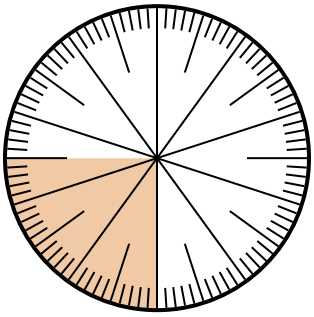

A. $^{25}/_{75}$ B. $^{0.25}/_{100}$

C. $^{25}/_{100}$ D. 2,50

2) Quale scelta rappresenta la parte ombreggiata della ruota dei numeri?

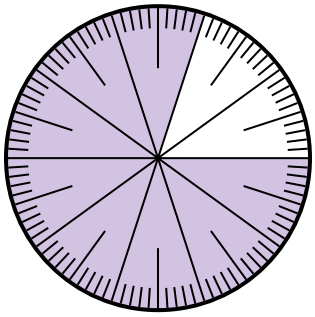

A. $^{8}/_{100}$ B. 0,080

C. $^{0.8}/_{100}$ D. $^{80}/_{100}$

3) Quale scelta rappresenta la parte non ombreggiata della ruota dei numeri?

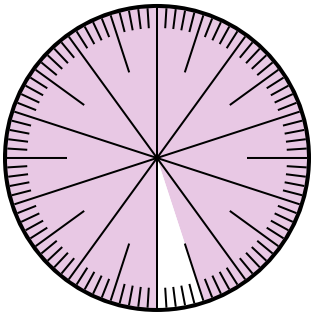

A. $^{5}/_{100}$ B. 0.5

C. $^{95}/_{5}$ D. $^{5}/_{95}$

4) Quale scelta rappresenta la parte non ombreggiata della ruota dei numeri?

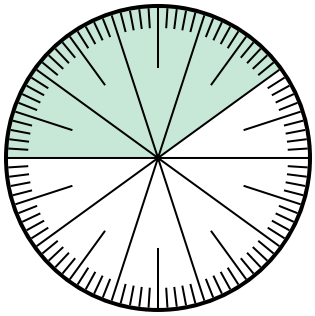

A. $^{0.6}/_{100}$ B. 0,60

C. $^{40}/_{60}$ D. 6,00

5) Quale scelta rappresenta la parte ombreggiata della ruota dei numeri?

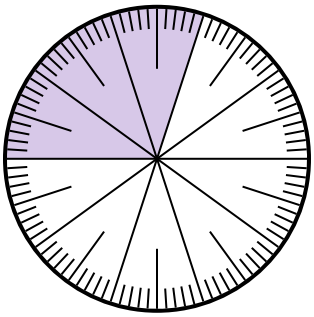

A. 3 B. 0,30

C. 30 D. $^{30}/_{70}$

6) Quale scelta rappresenta la parte ombreggiata della ruota dei numeri?

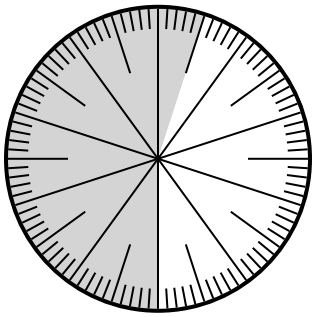

A. $^{55}/_{100}$ B. 45

C. 5.5 D. 45,0

Risposte

1. _____
2. _____
3. _____
4. _____
5. _____
6. _____

1-6	83	67	50	33	17	0

Identificazione di frazioni e decimali su una ruota numerica Nome: **Soluzioni**

Risolvi ogni problema.

1) Quale scelta rappresenta la parte ombreggiata della ruota dei numeri?

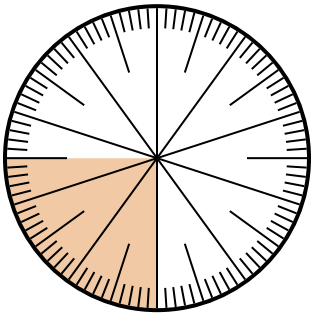

A. $^{25}/_{75}$ B. $^{0.25}/_{100}$

C. $^{25}/_{100}$ D. 2,50

2) Quale scelta rappresenta la parte ombreggiata della ruota dei numeri?

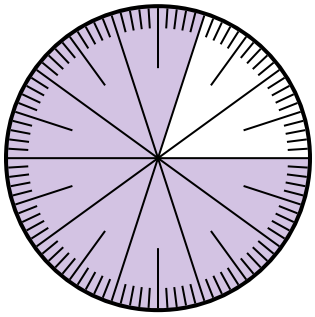

A. $^{8}/_{100}$ B. 0,080

C. $^{0.8}/_{100}$ D. $^{80}/_{100}$

3) Quale scelta rappresenta la parte non ombreggiata della ruota dei numeri?

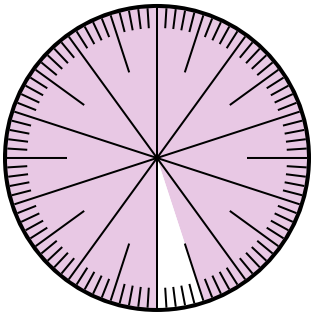

A. $^{5}/_{100}$ B. 0.5

C. $^{95}/_{5}$ D. $^{5}/_{95}$

4) Quale scelta rappresenta la parte non ombreggiata della ruota dei numeri?

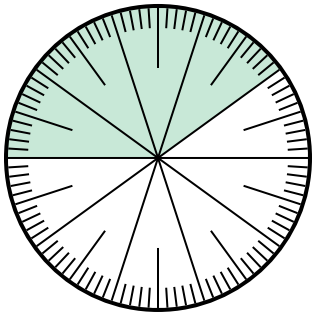

A. $^{0.6}/_{100}$ B. 0,60

C. $^{40}/_{60}$ D. 6,00

5) Quale scelta rappresenta la parte ombreggiata della ruota dei numeri?

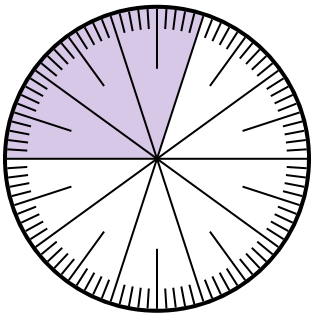

A. 3 B. 0,30

C. 30 D. $^{30}/_{70}$

6) Quale scelta rappresenta la parte ombreggiata della ruota dei numeri?

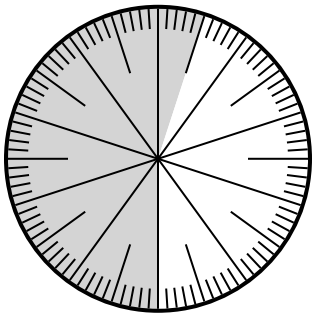

A. $^{55}/_{100}$ B. 45

C. 5.5 D. 45,0

Risposte

1. C
2. D
3. A
4. B
5. B
6. A

1-6	83	67	50	33	17	0

Identificazione di frazioni e decimali su una ruota numerica Nome:

Risolvi ogni problema.

1) Quale scelta rappresenta la parte non ombreggiata della ruota dei numeri?

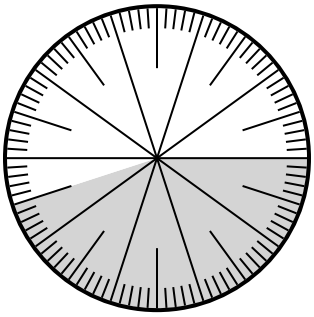

A. $^{55}/_{100}$ B. 5.5

C. 5,50 D. $^{0.55}/_{100}$

2) Quale scelta rappresenta la parte non ombreggiata della ruota dei numeri?

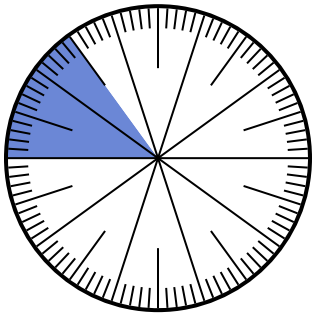

A. $^{15}/_{85}$ B. 0,85

C. 85 D. $^{85}/_{15}$

3) Quale scelta rappresenta la parte ombreggiata della ruota dei numeri?



A. $^{0.1}/_{100}$ B. 0,0010

C. 0,1 D. 1,00

4) Quale scelta rappresenta la parte ombreggiata della ruota dei numeri?

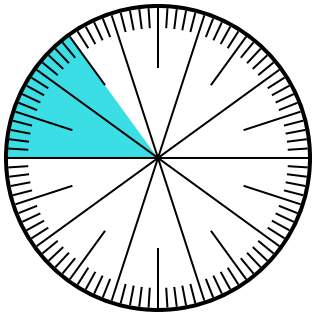

A. 8,50 B. 0,015

C. 0,15 D. 15

5) Quale scelta rappresenta la parte ombreggiata della ruota dei numeri?

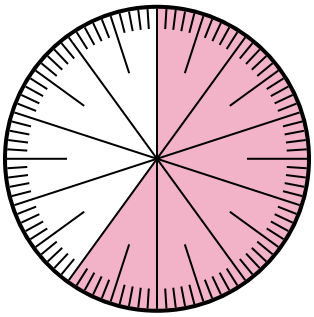

A. $^{60}/_{100}$ B. 6,00

C. 0,0060 D. 60,0

6) Quale scelta rappresenta la parte ombreggiata della ruota dei numeri?

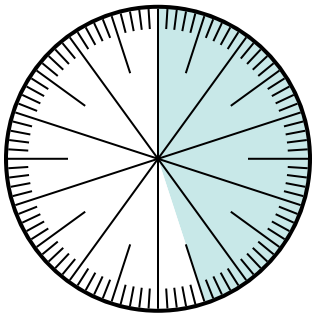

A. $^{4.5}/_{100}$ B. $^{0.45}/_{100}$

C. $^{45}/_{100}$ D. $^{45}/_{55}$

Risposte

1. _____
2. _____
3. _____
4. _____
5. _____
6. _____

1-6	83	67	50	33	17	0

Identificazione di frazioni e decimali su una ruota numerica Nome: **Soluzioni**

Risolvi ogni problema.

1) Quale scelta rappresenta la parte non ombreggiata della ruota dei numeri?

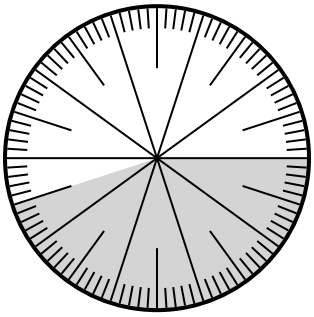

A. $^{55}/_{100}$ B. 5.5

C. 5,50 D. $^{0.55}/_{100}$

2) Quale scelta rappresenta la parte non ombreggiata della ruota dei numeri?

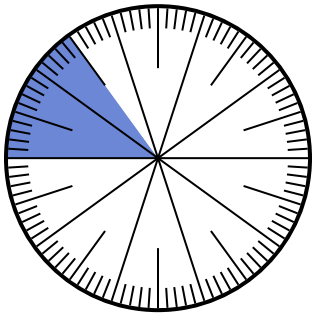

A. $^{15}/_{85}$ B. 0,85

C. 85 D. $^{85}/_{15}$

3) Quale scelta rappresenta la parte ombreggiata della ruota dei numeri?



A. $^{0.1}/_{100}$ B. 0,0010

C. 0,1 D. 1,00

4) Quale scelta rappresenta la parte ombreggiata della ruota dei numeri?

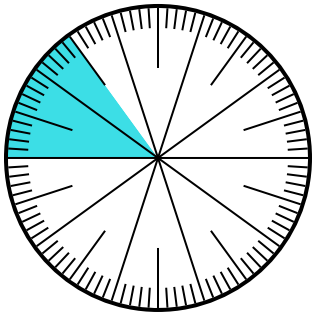

A. 8,50 B. 0,015

C. 0,15 D. 15

5) Quale scelta rappresenta la parte ombreggiata della ruota dei numeri?

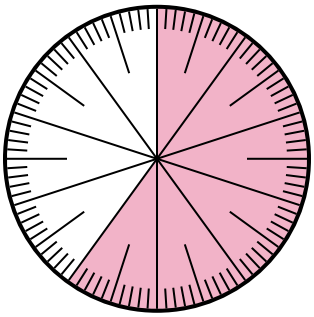

A. $^{60}/_{100}$ B. 6,00

C. 0,0060 D. 60,0

6) Quale scelta rappresenta la parte ombreggiata della ruota dei numeri?

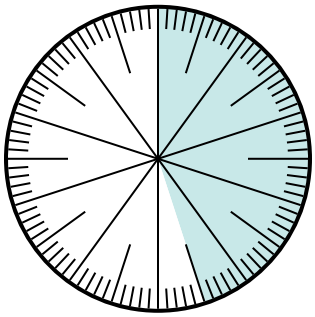

A. $^{4.5}/_{100}$ B. $^{0.45}/_{100}$

C. $^{45}/_{100}$ D. $^{45}/_{55}$

Risposte

1. A
2. B
3. C
4. C
5. A
6. C

1-6	83	67	50	33	17	0

Identificazione di frazioni e decimali su una ruota numerica Nome:

Risolvi ogni problema.

1) Quale scelta rappresenta la parte ombreggiata della ruota dei numeri?

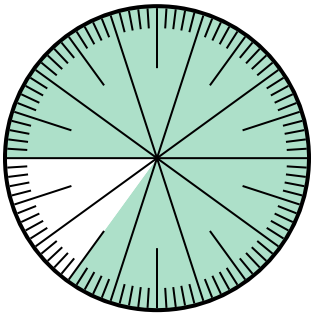

A. 0,85 B. 8.5
C. 85 D. 0,085

2) Quale scelta rappresenta la parte non ombreggiata della ruota dei numeri?

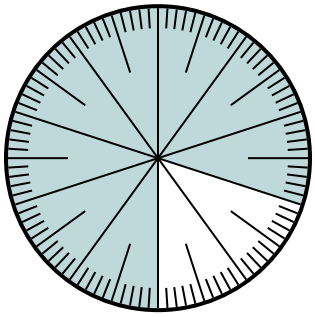

A. $^{2}/_{100}$ B. $^{20}/_{100}$
C. $^{2,00}/_{100}$ D. $^{80}/_{20}$

3) Quale scelta rappresenta la parte non ombreggiata della ruota dei numeri?

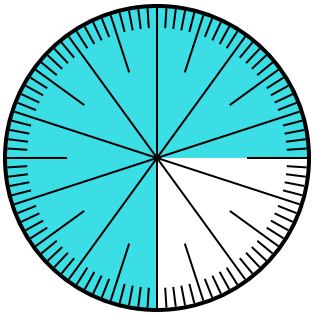

A. 0,025 B. 0,25
C. 0,0075 D. 2,50

4) Quale scelta rappresenta la parte ombreggiata della ruota dei numeri?

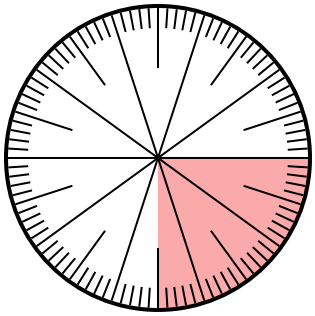

A. $^{0.25}/_{100}$ B. $^{25}/_{100}$
C. 0,025 D. 25

5) Quale scelta rappresenta la parte ombreggiata della ruota dei numeri?

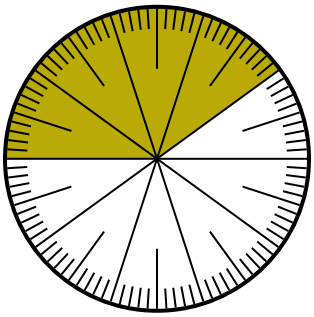

A. $^{40}/_{60}$ B. $^{60}/_{40}$
C. $^{40}/_{100}$ D. $^{4}/_{100}$

6) Quale scelta rappresenta la parte ombreggiata della ruota dei numeri?

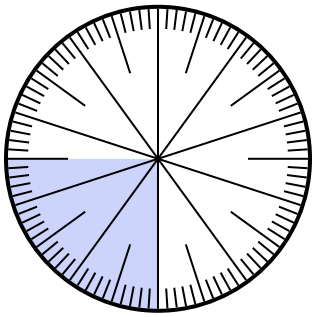

A. 0,0075 B. $^{2,50}/_{100}$
C. 0,025 D. 0,25

Risposte

1. _____
2. _____
3. _____
4. _____
5. _____
6. _____

1-6	83	67	50	33	17	0

Identificazione di frazioni e decimali su una ruota numerica Nome: **Soluzioni**

Risolvi ogni problema.

1) Quale scelta rappresenta la parte ombreggiata della ruota dei numeri?

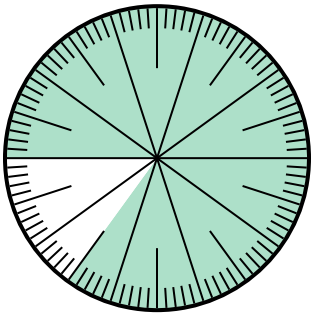

A. 0,85 B. 8.5
C. 85 D. 0,085

2) Quale scelta rappresenta la parte non ombreggiata della ruota dei numeri?

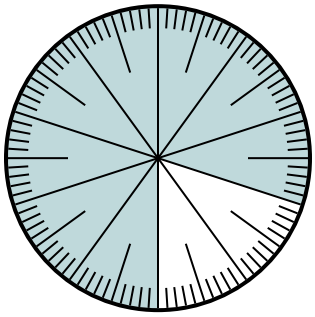

A. $^{2}/_{100}$ B. $^{20}/_{100}$
C. $^{2,00}/_{100}$ D. $^{80}/_{20}$

3) Quale scelta rappresenta la parte non ombreggiata della ruota dei numeri?

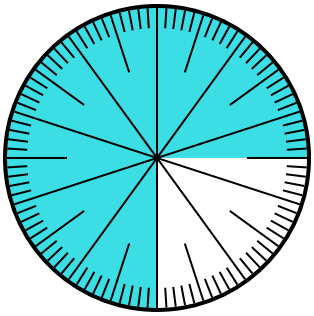

A. 0,025 B. 0,25
C. 0,0075 D. 2,50

4) Quale scelta rappresenta la parte ombreggiata della ruota dei numeri?

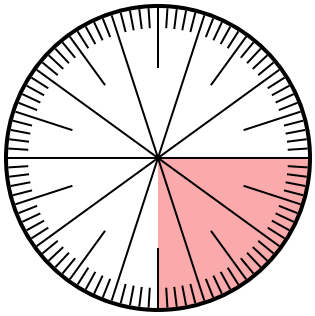

A. $^{0.25}/_{100}$ B. $^{25}/_{100}$
C. 0,025 D. 25

5) Quale scelta rappresenta la parte ombreggiata della ruota dei numeri?

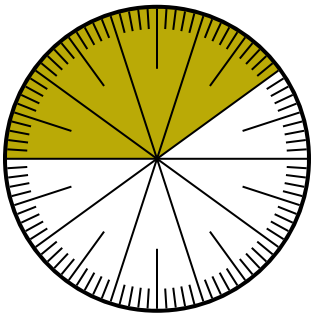

A. $^{40}/_{60}$ B. $^{60}/_{40}$
C. $^{40}/_{100}$ D. $^{4}/_{100}$

6) Quale scelta rappresenta la parte ombreggiata della ruota dei numeri?

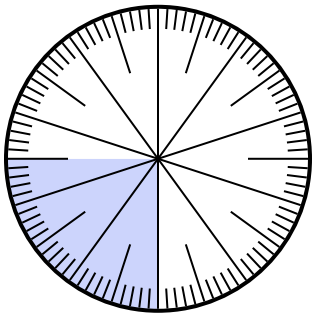

A. 0,0075 B. $^{2,50}/_{100}$
C. 0,025 D. 0,25

Risposte

1. A
2. B
3. B
4. B
5. C
6. D

1-6	83	67	50	33	17	0

Identificazione di frazioni e decimali su una ruota numerica Nome:

Risolvi ogni problema.

1) Quale scelta rappresenta la parte ombreggiata della ruota dei numeri?

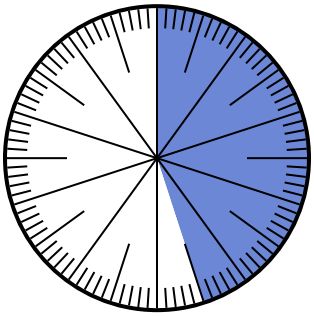

A. $^{45}/_{100}$ B. $^{55}/_{45}$

C. $^{45}/_{55}$ D. $^{4.5}/_{100}$

2) Quale scelta rappresenta la parte ombreggiata della ruota dei numeri?

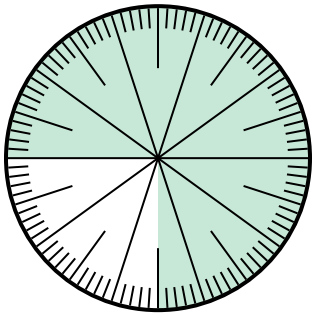

A. $^{0.75}/_{100}$ B. 0,75

C. $^{7,50}/_{100}$ D. $^{7.5}/_{100}$

3) Quale scelta rappresenta la parte ombreggiata della ruota dei numeri?

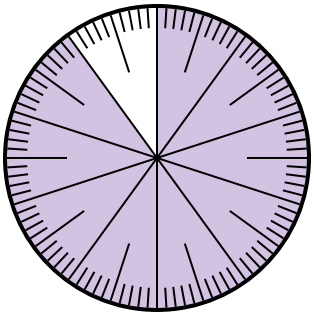

A. 90 B. 0,090

C. $^{90}/_{100}$ D. $^{9}/_{100}$

4) Quale scelta rappresenta la parte non ombreggiata della ruota dei numeri?

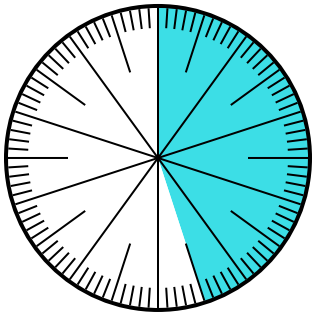

A. 5.5 B. 55

C. $^{5.5}/_{100}$ D. $^{55}/_{100}$

5) Quale scelta rappresenta la parte non ombreggiata della ruota dei numeri?

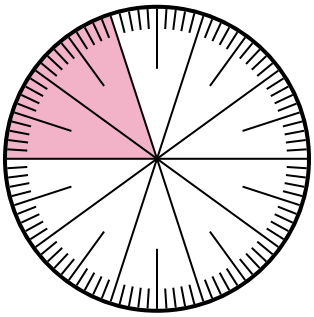

A. $^{20}/_{80}$ B. 0,80

C. $^{8}/_{100}$ D. 8

6) Quale scelta rappresenta la parte non ombreggiata della ruota dei numeri?

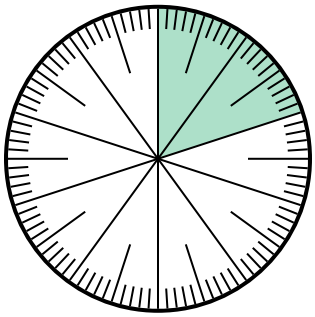

A. 80 B. 8

C. $^{0.8}/_{100}$ D. $^{80}/_{100}$

Risposte

1. _____
2. _____
3. _____
4. _____
5. _____
6. _____

1-6	83	67	50	33	17	0

Identificazione di frazioni e decimali su una ruota numerica Nome: **Soluzioni**

Risolvi ogni problema.

1) Quale scelta rappresenta la parte ombreggiata della ruota dei numeri?

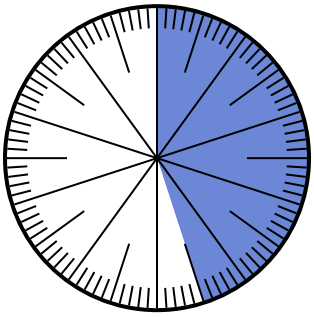

A. $^{45}/_{100}$ B. $^{55}/_{45}$

C. $^{45}/_{55}$ D. $^{4.5}/_{100}$

2) Quale scelta rappresenta la parte ombreggiata della ruota dei numeri?

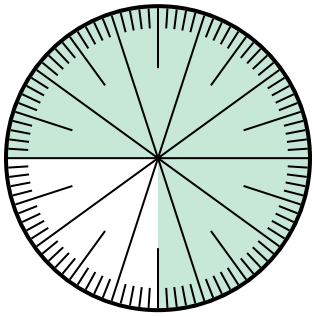

A. $^{0.75}/_{100}$ B. 0,75

C. $^{7,50}/_{100}$ D. $^{7.5}/_{100}$

3) Quale scelta rappresenta la parte ombreggiata della ruota dei numeri?

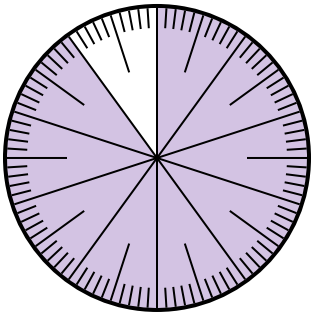

A. 90 B. 0,090

C. $^{90}/_{100}$ D. $^{9}/_{100}$

4) Quale scelta rappresenta la parte non ombreggiata della ruota dei numeri?

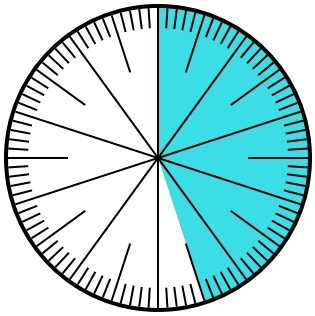

A. 5.5 B. 55

C. $^{5.5}/_{100}$ D. $^{55}/_{100}$

5) Quale scelta rappresenta la parte non ombreggiata della ruota dei numeri?

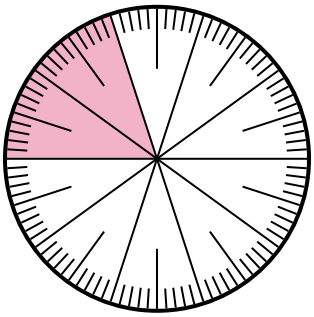

A. $^{20}/_{80}$ B. 0,80

C. $^{8}/_{100}$ D. 8

6) Quale scelta rappresenta la parte non ombreggiata della ruota dei numeri?

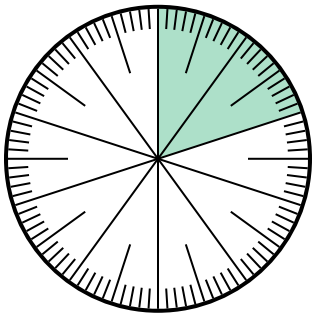

A. 80 B. 8

C. $^{0.8}/_{100}$ D. $^{80}/_{100}$

Risposte

1. A
2. B
3. C
4. D
5. B
6. D

1-6	83	67	50	33	17	0

Identificazione di frazioni e decimali su una ruota numerica Nome:

Risolvi ogni problema.

1) Quale scelta rappresenta la parte ombreggiata della ruota dei numeri?



A. $^{80}/_{20}$ B. 0,20

C. $^{20}/_{10}$ D. $^{0.2}/_{100}$

2) Quale scelta rappresenta la parte ombreggiata della ruota dei numeri?

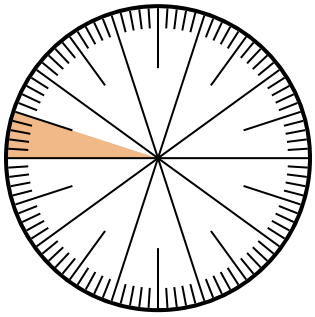

A. $^{0.05}/_{100}$ B. 0,05

C. $^{5}/_{95}$ D. $^{9.5}/_{100}$

3) Quale scelta rappresenta la parte non ombreggiata della ruota dei numeri?

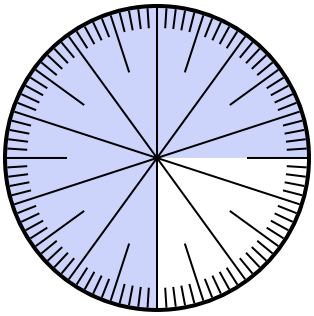

A. 2,50 B. $^{25}/_{100}$

C. 25 D. 2.5

4) Quale scelta rappresenta la parte ombreggiata della ruota dei numeri?



A. $^{80}/_{20}$ B. $^{8,00}/_{100}$

C. $^{80}/_{100}$ D. 8,00

5) Quale scelta rappresenta la parte ombreggiata della ruota dei numeri?

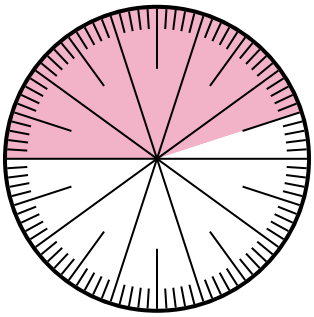

A. 55,0 B. 45

C. 4.5 D. 0,45

6) Quale scelta rappresenta la parte non ombreggiata della ruota dei numeri?

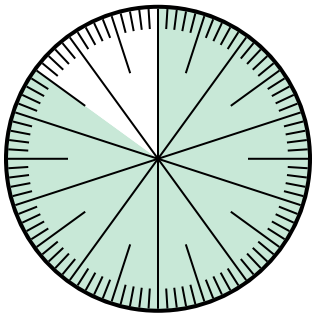

A. $^{1.5}/_{100}$ B. $^{15}/_{100}$

C. 1,50 D. 1.5

Risposte

1. _____
2. _____
3. _____
4. _____
5. _____
6. _____

1-6	83	67	50	33	17	0

Risolvi ogni problema.

1) Quale scelta rappresenta la parte ombreggiata della ruota dei numeri?



A. $^{80}/_{20}$ B. 0,20

C. $^{20}/_{10}$ D. $^{0.2}/_{100}$

2) Quale scelta rappresenta la parte ombreggiata della ruota dei numeri?

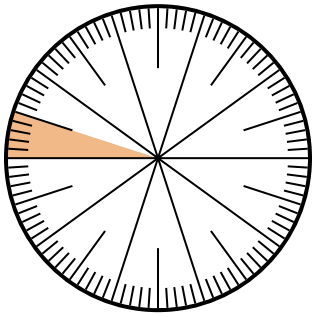

A. $^{0.05}/_{100}$ B. 0,05

C. $^{5}/_{95}$ D. $^{9.5}/_{100}$

3) Quale scelta rappresenta la parte non ombreggiata della ruota dei numeri?

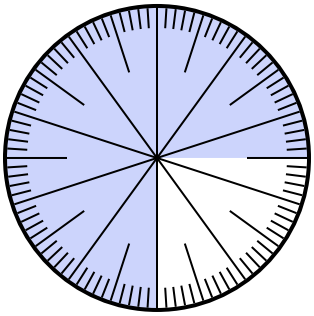

A. 2,50 B. $^{25}/_{100}$

C. 25 D. 2.5

4) Quale scelta rappresenta la parte ombreggiata della ruota dei numeri?



A. $^{80}/_{20}$ B. $^{8,00}/_{100}$

C. $^{80}/_{100}$ D. 8,00

5) Quale scelta rappresenta la parte ombreggiata della ruota dei numeri?

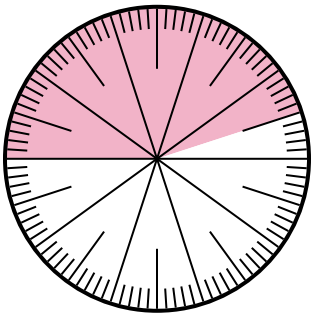

A. 55,0 B. 45

C. 4.5 D. 0,45

6) Quale scelta rappresenta la parte non ombreggiata della ruota dei numeri?

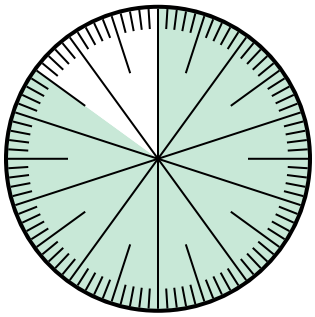

A. $^{1.5}/_{100}$ B. $^{15}/_{100}$

C. 1,50 D. 1.5

Risposte

1. **B**
2. **B**
3. **B**
4. **C**
5. **D**
6. **B**

1-6	83	67	50	33	17	0

Identificazione di frazioni e decimali su una ruota numerica Nome:

Risolvi ogni problema.

1) Quale scelta rappresenta la parte ombreggiata della ruota dei numeri?

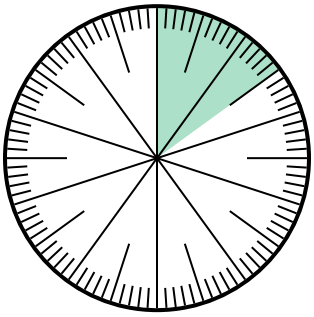

A. $^{1,50}/_{100}$ B. $^{15}/_{100}$

C. $^{1.5}/_{100}$ D. 1,50

2) Quale scelta rappresenta la parte non ombreggiata della ruota dei numeri?

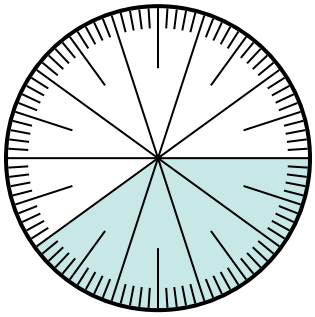

A. $^{6,00}/_{100}$ B. 0,6

C. 6 D. 6,00

3) Quale scelta rappresenta la parte non ombreggiata della ruota dei numeri?

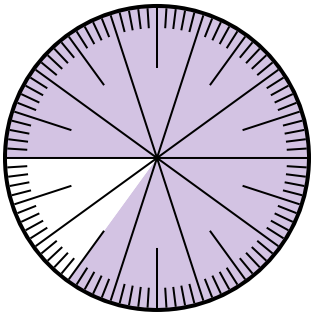

A. 1.5 B. 0,15

C. $^{15}/_{85}$ D. $^{0.15}/_{100}$

4) Quale scelta rappresenta la parte non ombreggiata della ruota dei numeri?

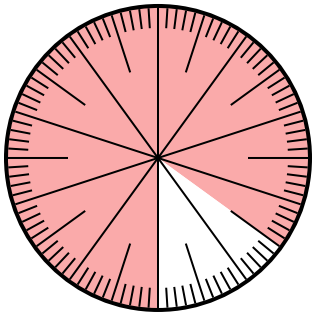

A. 15 B. 0,15

C. $^{0,85}/_{100}$ D. $^{8.5}/_{100}$

5) Quale scelta rappresenta la parte non ombreggiata della ruota dei numeri?

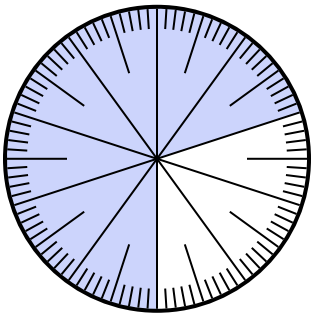

A. 0,030 B. 30

C. $^{3,00}/_{100}$ D. $^{30}/_{100}$

6) Quale scelta rappresenta la parte non ombreggiata della ruota dei numeri?

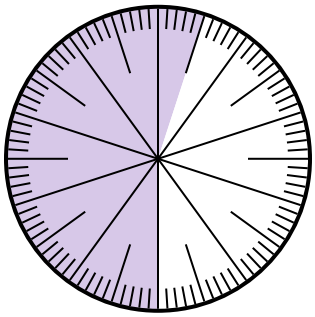

A. $^{4.5}/_{100}$ B. 0,45

C. 45 D. $^{4,50}/_{100}$

Risposte

1. _____
2. _____
3. _____
4. _____
5. _____
6. _____

1-6	83	67	50	33	17	0

Identificazione di frazioni e decimali su una ruota numerica Nome: **Soluzioni**

Risolvi ogni problema.

1) Quale scelta rappresenta la parte ombreggiata della ruota dei numeri?

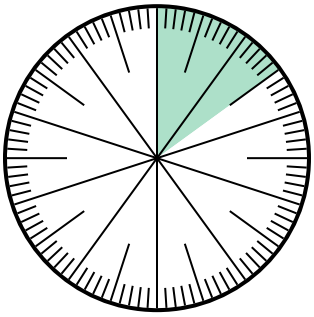

A. $^{1,50}/_{100}$ B. $^{15}/_{100}$

C. $^{1.5}/_{100}$ D. 1,50

2) Quale scelta rappresenta la parte non ombreggiata della ruota dei numeri?

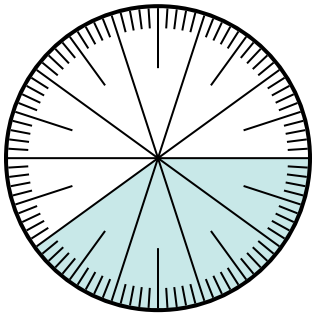

A. $^{6,00}/_{100}$ B. 0,6

C. 6 D. 6,00

3) Quale scelta rappresenta la parte non ombreggiata della ruota dei numeri?

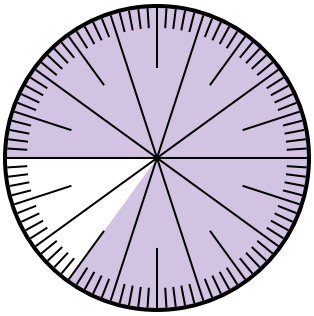

A. 1.5 B. 0,15

C. $^{15}/_{85}$ D. $^{0.15}/_{100}$

4) Quale scelta rappresenta la parte non ombreggiata della ruota dei numeri?

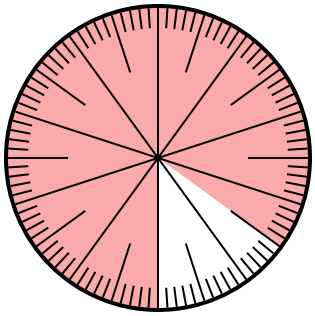

A. 15 B. 0,15

C. $^{0,85}/_{100}$ D. $^{8.5}/_{100}$

5) Quale scelta rappresenta la parte non ombreggiata della ruota dei numeri?

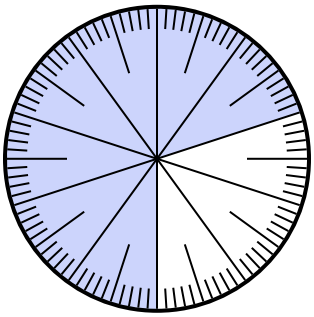

A. 0,030 B. 30

C. $^{3,00}/_{100}$ D. $^{30}/_{100}$

6) Quale scelta rappresenta la parte non ombreggiata della ruota dei numeri?

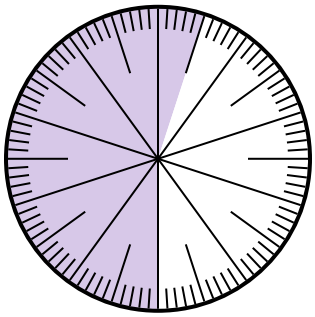

A. $^{4.5}/_{100}$ B. 0,45

C. 45 D. $^{4,50}/_{100}$

Risposte

1. **B**
2. **B**
3. **B**
4. **B**
5. **D**
6. **B**

1-6	83	67	50	33	17	0

Identificazione di frazioni e decimali su una ruota numerica Nome:

Risolvi ogni problema.

1) Quale scelta rappresenta la parte non ombreggiata della ruota dei numeri?

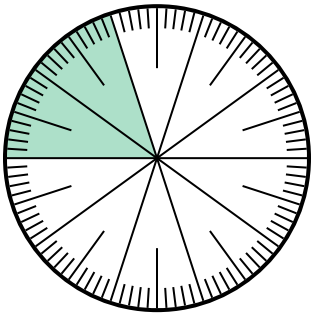

A. $^{0.8}/_{100}$ B. 0,8

C. 8 D. $^{80}/_{20}$

2) Quale scelta rappresenta la parte non ombreggiata della ruota dei numeri?

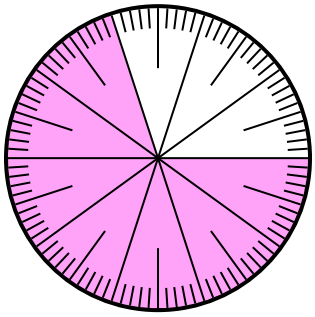

A. 0,30 B. 70

C. 0,070 D. $^{70}/_{30}$

3) Quale scelta rappresenta la parte non ombreggiata della ruota dei numeri?

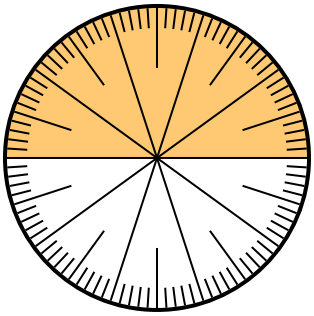

A. 5,00 B. $^{5}/_{100}$

C. $^{5}/_{100}$ D. 0,5

4) Quale scelta rappresenta la parte ombreggiata della ruota dei numeri?

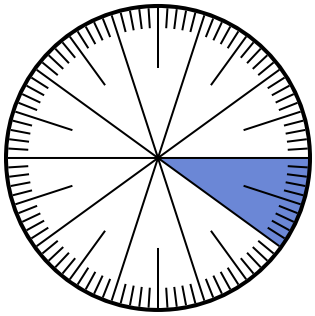

A. 0,10 B. 1

C. $^{1}/_{100}$ D. $^{0.9}/_{100}$

5) Quale scelta rappresenta la parte non ombreggiata della ruota dei numeri?

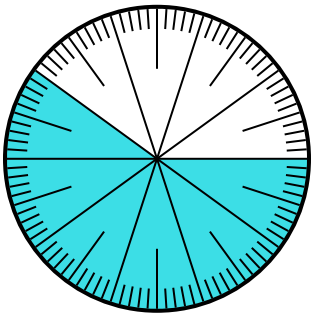

A. 4,00 B. 0,40

C. $^{40}/_{60}$ D. $^{4,00}/_{100}$

6) Quale scelta rappresenta la parte ombreggiata della ruota dei numeri?

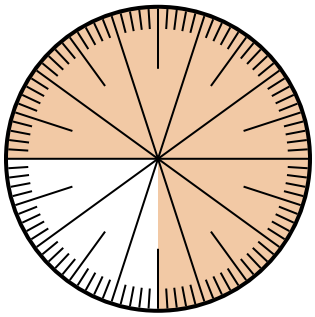

A. $^{75}/_{25}$ B. 0,075

C. $^{75}/_{100}$ D. 7,50

Risposte

1. _____
2. _____
3. _____
4. _____
5. _____
6. _____

1-6	83	67	50	33	17	0

Identificazione di frazioni e decimali su una ruota numerica Nome: **Soluzioni**

Risolvi ogni problema.

1) Quale scelta rappresenta la parte non ombreggiata della ruota dei numeri?

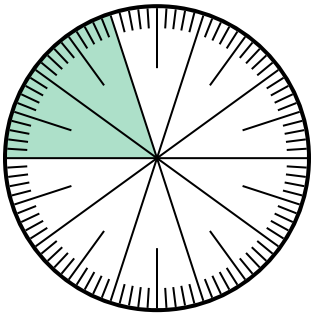

A. $^{0.8}/_{100}$ B. 0,8

C. 8 D. $^{80}/_{20}$

2) Quale scelta rappresenta la parte non ombreggiata della ruota dei numeri?

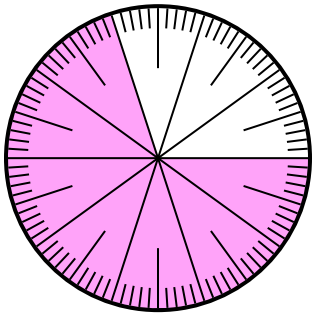

A. 0,30 B. 70

C. 0,070 D. $^{70}/_{30}$

3) Quale scelta rappresenta la parte non ombreggiata della ruota dei numeri?

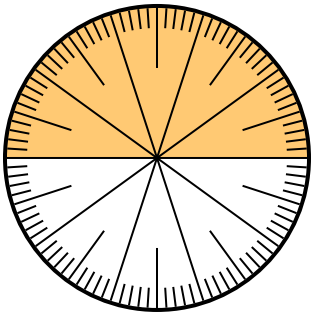

A. 5,00 B. $^{5}/_{100}$

C. $^{5}/_{100}$ D. 0,5

4) Quale scelta rappresenta la parte ombreggiata della ruota dei numeri?

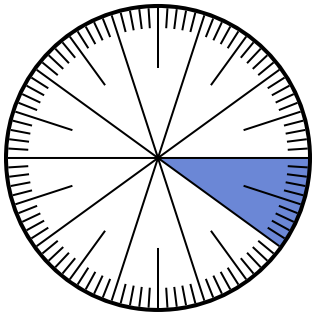

A. 0,10 B. 1

C. $^{1}/_{100}$ D. $^{0.9}/_{100}$

5) Quale scelta rappresenta la parte non ombreggiata della ruota dei numeri?

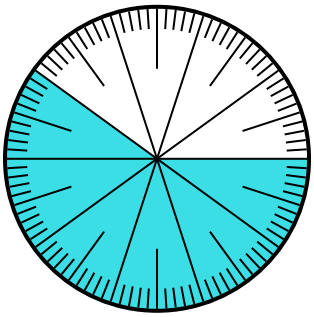

A. 4,00 B. 0,40

C. $^{40}/_{60}$ D. $^{4,00}/_{100}$

6) Quale scelta rappresenta la parte ombreggiata della ruota dei numeri?

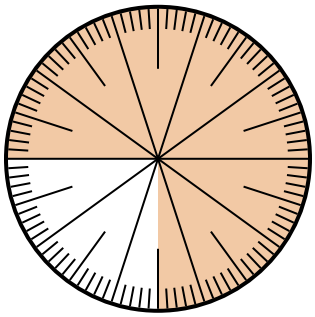

A. $^{75}/_{25}$ B. 0,075

C. $^{75}/_{100}$ D. 7,50

Risposte

1. B
2. A
3. D
4. A
5. B
6. C

1-6	83	67	50	33	17	0

Identificazione di frazioni e decimali su una ruota numerica Nome:

Risolvi ogni problema.

1) Quale scelta rappresenta la parte non ombreggiata della ruota dei numeri?

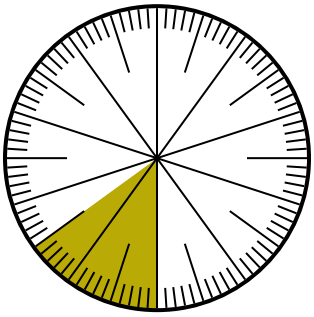

A. $^{85}/_{100}$ B. $^{8.5}/_{100}$

C. $^{0.85}/_{100}$ D. $^{85}/_{15}$

2) Quale scelta rappresenta la parte non ombreggiata della ruota dei numeri?

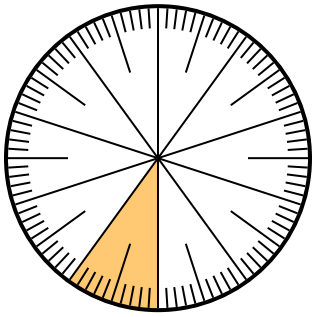

A. 0,9 B. 90

C. $^{1}/_{100}$ D. 9

3) Quale scelta rappresenta la parte non ombreggiata della ruota dei numeri?

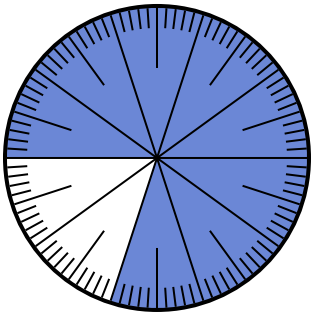

A. 20 B. $^{20}/_{80}$

C. 0,2 D. $^{20}/_{10}$

4) Quale scelta rappresenta la parte non ombreggiata della ruota dei numeri?

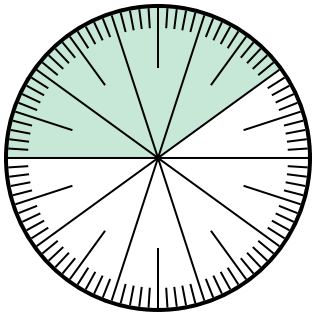

A. 0,0060 B. 0,6

C. 60 D. $^{40}/_{60}$

5) Quale scelta rappresenta la parte non ombreggiata della ruota dei numeri?

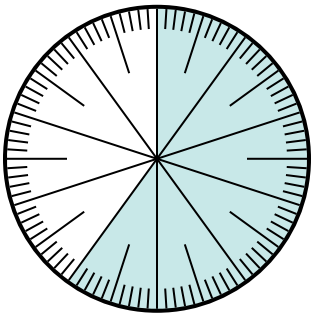

A. $^{60}/_{40}$ B. $^{40}/_{100}$

C. $^{0.4}/_{100}$ D. 40

6) Quale scelta rappresenta la parte non ombreggiata della ruota dei numeri?

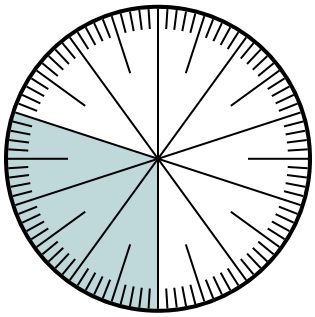

A. $^{70}/_{100}$ B. $^{70}/_{30}$

C. 7 D. $^{30}/_{70}$

Risposte

1. _____
2. _____
3. _____
4. _____
5. _____
6. _____

1-6	83	67	50	33	17	0

Identificazione di frazioni e decimali su una ruota numerica Nome: **Soluzioni**

Risolvi ogni problema.

1) Quale scelta rappresenta la parte non ombreggiata della ruota dei numeri?

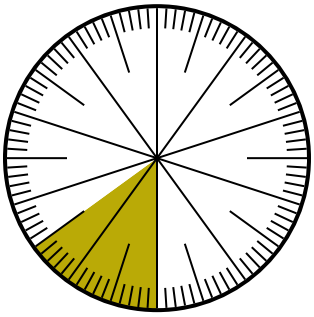

A. $^{85}/_{100}$ B. $^{8.5}/_{100}$

C. $^{0.85}/_{100}$ D. $^{85}/_{15}$

2) Quale scelta rappresenta la parte non ombreggiata della ruota dei numeri?

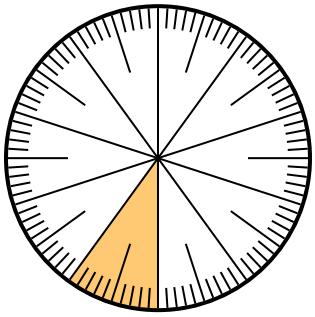

A. 0,9 B. 90

C. $^{1}/_{100}$ D. 9

3) Quale scelta rappresenta la parte non ombreggiata della ruota dei numeri?

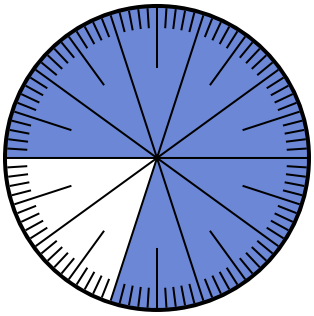

A. 20 B. $^{20}/_{80}$

C. 0,2 D. $^{20}/_{10}$

4) Quale scelta rappresenta la parte non ombreggiata della ruota dei numeri?

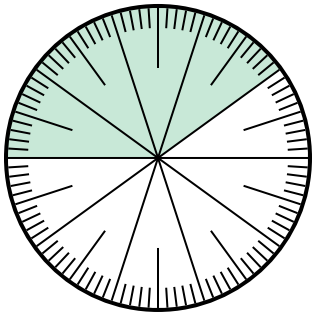

A. 0,0060 B. 0,6

C. 60 D. $^{40}/_{60}$

5) Quale scelta rappresenta la parte non ombreggiata della ruota dei numeri?

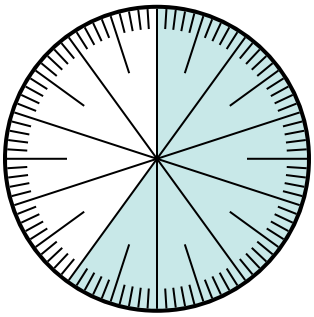

A. $^{60}/_{40}$ B. $^{40}/_{100}$

C. $^{0.4}/_{100}$ D. 40

6) Quale scelta rappresenta la parte non ombreggiata della ruota dei numeri?

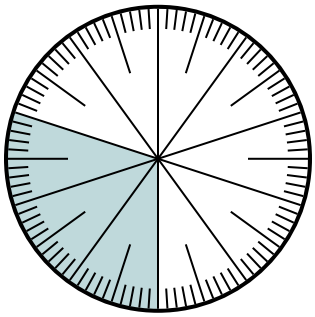

A. $^{70}/_{100}$ B. $^{70}/_{30}$

C. 7 D. $^{30}/_{70}$

Risposte

1. A
2. A
3. C
4. B
5. B
6. A

1-6	83	67	50	33	17	0