Identificazione di frazioni e decimali su una ruota numerica Nome:

Risolvi ogni problema.

1) Quale scelta rappresenta la parte ombreggiata della ruota dei numeri?

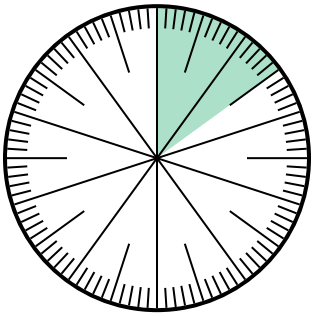

A. $^{1,50}/_{100}$ B. $^{15}/_{100}$

C. $^{1.5}/_{100}$ D. 1,50

2) Quale scelta rappresenta la parte non ombreggiata della ruota dei numeri?

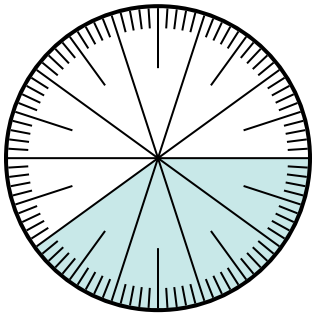

A. $^{6,00}/_{100}$ B. 0,6

C. 6 D. 6,00

3) Quale scelta rappresenta la parte non ombreggiata della ruota dei numeri?

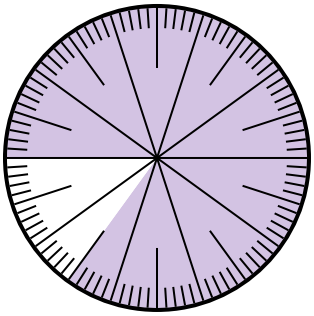

A. 1.5 B. 0,15

C. $^{15}/_{85}$ D. $^{0.15}/_{100}$

4) Quale scelta rappresenta la parte non ombreggiata della ruota dei numeri?

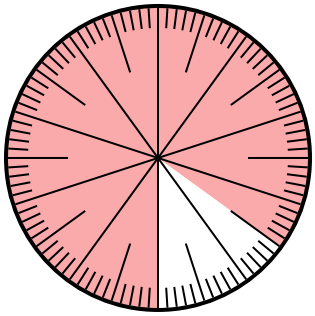

A. 15 B. 0,15

C. $^{0,85}/_{100}$ D. $^{8.5}/_{100}$

5) Quale scelta rappresenta la parte non ombreggiata della ruota dei numeri?

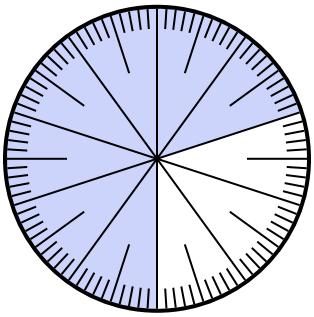

A. 0,030 B. 30

C. $^{3,00}/_{100}$ D. $^{30}/_{100}$

6) Quale scelta rappresenta la parte non ombreggiata della ruota dei numeri?

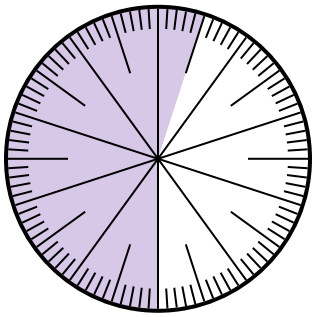

A. $^{4.5}/_{100}$ B. 0,45

C. 45 D. $^{4,50}/_{100}$

Risposte

1. _____
2. _____
3. _____
4. _____
5. _____
6. _____

1-6	83	67	50	33	17	0

Identificazione di frazioni e decimali su una ruota numerica Nome: **Soluzioni**

Risolvi ogni problema.

1) Quale scelta rappresenta la parte ombreggiata della ruota dei numeri?

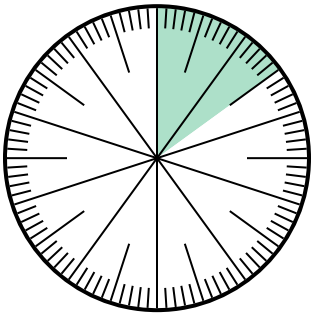

A. $^{1,50}/_{100}$ B. $^{15}/_{100}$

C. $^{1.5}/_{100}$ D. 1,50

2) Quale scelta rappresenta la parte non ombreggiata della ruota dei numeri?

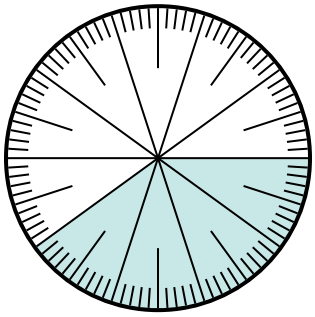

A. $^{6,00}/_{100}$ B. 0,6

C. 6 D. 6,00

3) Quale scelta rappresenta la parte non ombreggiata della ruota dei numeri?

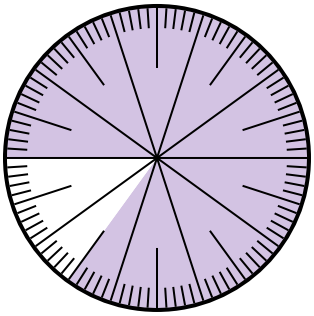

A. 1.5 B. 0,15

C. $^{15}/_{85}$ D. $^{0.15}/_{100}$

4) Quale scelta rappresenta la parte non ombreggiata della ruota dei numeri?

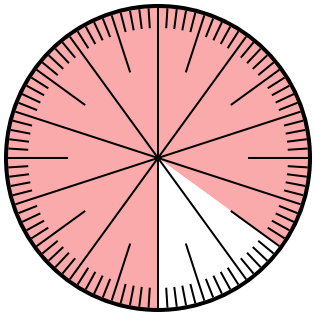

A. 15 B. 0,15

C. $^{0,85}/_{100}$ D. $^{8.5}/_{100}$

5) Quale scelta rappresenta la parte non ombreggiata della ruota dei numeri?

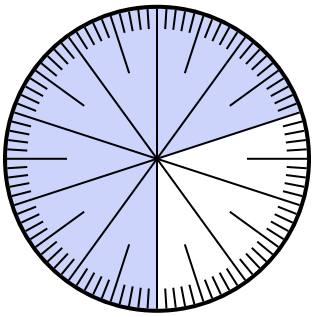

A. 0,030 B. 30

C. $^{3,00}/_{100}$ D. $^{30}/_{100}$

6) Quale scelta rappresenta la parte non ombreggiata della ruota dei numeri?

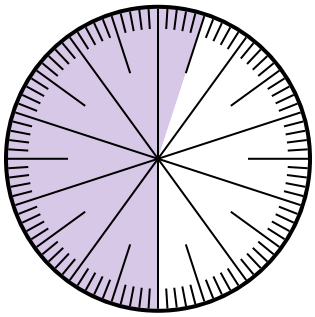

A. $^{4.5}/_{100}$ B. 0,45

C. 45 D. $^{4,50}/_{100}$

Risposte

1. **B**
2. **B**
3. **B**
4. **B**
5. **D**
6. **B**

1-6	83	67	50	33	17	0