Trovare i decimali su una linea numerata Nome:

Usa la linea numerata per rispondere alle domade.

1)

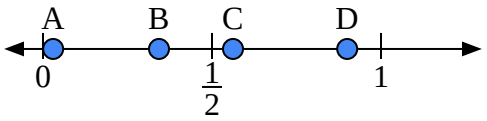

a) Quale lettera rappresenta correttamente la posizione di 0,9?

b) Quale lettera rappresenta correttamente la posizione di 0,03?

2)

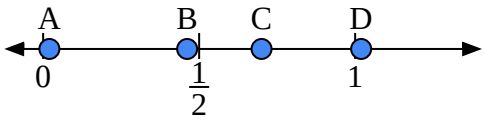

a) Quale lettera rappresenta correttamente la posizione di 0,7?

b) Quale lettera rappresenta correttamente la posizione di 0,02?

3)

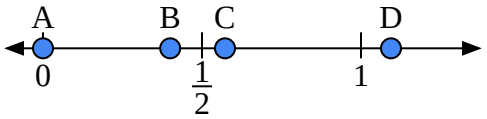

a) Quale lettera rappresenta correttamente la posizione di 0,00?

b) Quale lettera rappresenta correttamente la posizione di 0,40?

4)

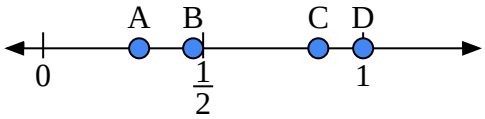

a) Quale lettera rappresenta correttamente la posizione di 1,0?

b) Quale lettera rappresenta correttamente la posizione di 0,86?

5)

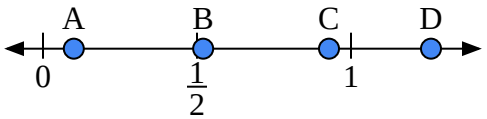

a) Quale lettera rappresenta correttamente la posizione di 0,10?

b) Quale lettera rappresenta correttamente la posizione di 0,52?

6)

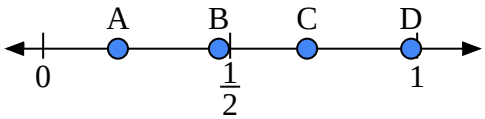

a) Quale lettera rappresenta correttamente la posizione di 0,2?

b) Quale lettera rappresenta correttamente la posizione di 0,47?

7)

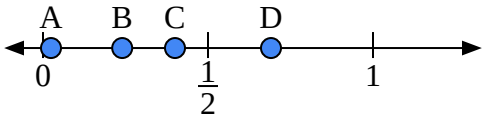

a) Quale lettera rappresenta correttamente la posizione di 0,4?

b) Quale lettera rappresenta correttamente la posizione di 0,24?

8)

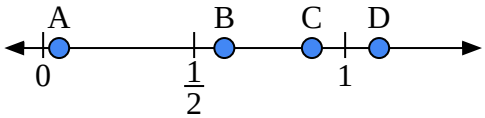

a) Quale lettera rappresenta correttamente la posizione di 0,60?

b) Quale lettera rappresenta correttamente la posizione di 0,89?

Risposte

1. ____ ____
2. ____ ____
3. ____ ____
4. ____ ____
5. ____ ____
6. ____ ____
7. ____ ____
8. ____ ____

1-8	88	75	63	50	38	25	13	0

Trovare i decimali su una linea numerata Nome: **Soluzioni**

Usa la linea numerata per rispondere alle domade.

1)

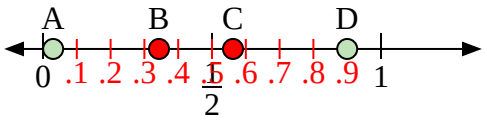

a) Quale lettera rappresenta correttamente la posizione di 0,9?

b) Quale lettera rappresenta correttamente la posizione di 0,03?

2)

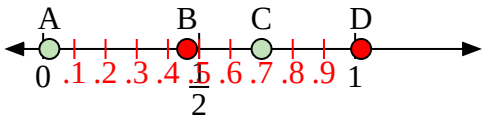

a) Quale lettera rappresenta correttamente la posizione di 0,7?

b) Quale lettera rappresenta correttamente la posizione di 0,02?

3)

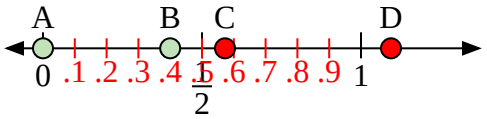

a) Quale lettera rappresenta correttamente la posizione di 0,00?

b) Quale lettera rappresenta correttamente la posizione di 0,40?

4)

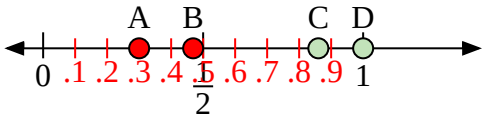

a) Quale lettera rappresenta correttamente la posizione di 1,0?

b) Quale lettera rappresenta correttamente la posizione di 0,86?

5)

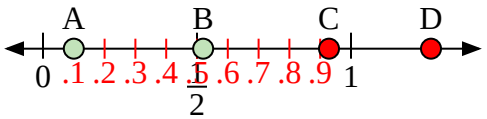

a) Quale lettera rappresenta correttamente la posizione di 0,10?

b) Quale lettera rappresenta correttamente la posizione di 0,52?

6)

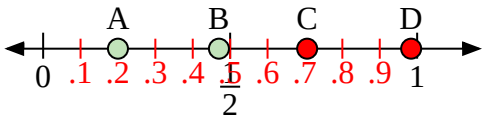

a) Quale lettera rappresenta correttamente la posizione di 0,2?

b) Quale lettera rappresenta correttamente la posizione di 0,47?

7)

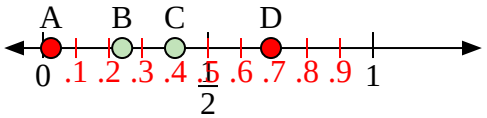

a) Quale lettera rappresenta correttamente la posizione di 0,4?

b) Quale lettera rappresenta correttamente la posizione di 0,24?

8)

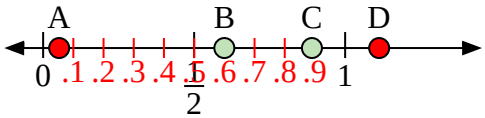

a) Quale lettera rappresenta correttamente la posizione di 0,60?

b) Quale lettera rappresenta correttamente la posizione di 0,89?

Risposte

1.	D	A
2.	C	A
3.	A	B
4.	D	C
5.	A	B
6.	A	B
7.	C	B
8.	B	C

1-8	88	75	63	50	38	25	13	0