Stima della capacità (americano) Nome:

Determina quale lettera meglio rappresenta il volume

Xícara
Una taza se refiere a la cantidad de leche que se obtiene de la cafetería.

Pinta
Uma pinta é aproximadamente a quantidade que você recebe em um copo grande.
1 pinta = 2 xícaras

Quarto
Um quarto é mais ou menos a quantidade que você consegue em um recipiente grande de leite.
1 cuarto = 2 pintas

Galón
Un galón es la cantidad que viene en un recipiente de plástico grande.
1 galón = 4 cuartos

1)

Dentifricio in tubetto
A. 5 quarti
B. 0.5 galloni
C. 0.5 tazze
D. 5 grammi

2)



Misurino
A. 1 pinta
B. 1 tazza
C. 1 quart
D. 1 gallone

3)

Liquido in una brocca
A. 2 tazze
B. 1 pinta
C. 8 galloni
D. 2 quarti

4)

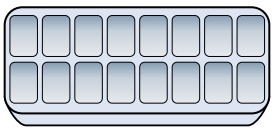

Acqua in una vaschetta del ghiaccio
A. 1 pinta
B. 1 gallone
C. 4 pinte
D. 10 galloni

5)



Vasca da bagno
A. 45 galloni
B. 40 tazze
C. 20 pinte
D. 8 quarti

6)

Inchiostro in una penna
A. 1 quart
B. meno di 1 tazza
C. 1 gallone
D. 2 pinte

7)

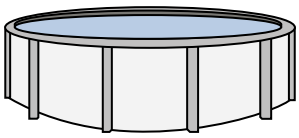

Acqua in piscina
A. 3000 galloni
B. 5000 piede
C. 20 galloni
D. 25 tazze

8)

Liquido in una tazza da tè
A. 1 tazza
B. 1 pinta
C. 1 gallone
D. 1 quart

9)

Liquido che tiene un cucchiaio
A. 1 tazza
B. 1 quart
C. 1 pinta
D. Less than a cup

Risposte

1. _____
2. _____
3. _____
4. _____
5. _____
6. _____
7. _____
8. _____
9. _____

Stima della capacità (americano) Nome: **Soluzioni**

Determina quale lettera meglio rappresenta il volume

Xícara
Una taza se refiere a la cantidad de leche que se obtiene de la cafetería.

Pinta
Uma pinta é aproximadamente a quantidade que você recebe em um copo grande.
1 pinta = 2 xícaras

Quarto
Um quarto é mais ou menos a quantidade que você consegue em um recipiente grande de leite.
1 cuarto = 2 pintas

Galón
Un galón es la cantidad que viene en un recipiente de plástico grande.
1 galón = 4 cuartos

1)

Dentifricio in tubetto
A. 5 quarti
B. 0.5 galloni
C. 0.5 tazze
D. 5 grammi

2)



Misurino
A. 1 pinta
B. 1 tazza
C. 1 quart
D. 1 gallone

3)

Liquido in una brocca
A. 2 tazze
B. 1 pinta
C. 8 galloni
D. 2 quarti

4)

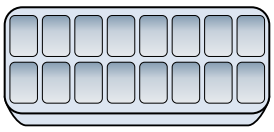

Acqua in una vaschetta del ghiaccio
A. 1 pinta
B. 1 gallone
C. 4 pinte
D. 10 galloni

5)



Vasca da bagno
A. 45 galloni
B. 40 tazze
C. 20 pinte
D. 8 quarti

6)

Inchiostro in una penna
A. 1 quart
B. meno di 1 tazza
C. 1 gallone
D. 2 pinte

7)

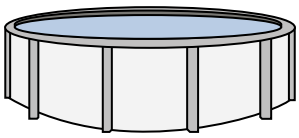

Acqua in piscina
A. 3000 galloni
B. 5000 piede
C. 20 galloni
D. 25 tazze

8)

Liquido in una tazza da tè
A. 1 tazza
B. 1 pinta
C. 1 gallone
D. 1 quart

9)

Liquido che tiene un cucchiaio
A. 1 tazza
B. 1 quart
C. 1 pinta
D. Less than a cup

Risposte

1. C
2. B
3. D
4. A
5. A
6. B
7. A
8. A
9. D

1-9	89	78	67	56	44	33	22	11	0