Interpretazione degli istogrammi

Nome:

Usa gli istogrammi mostrati per rispondere a ogni domanda.

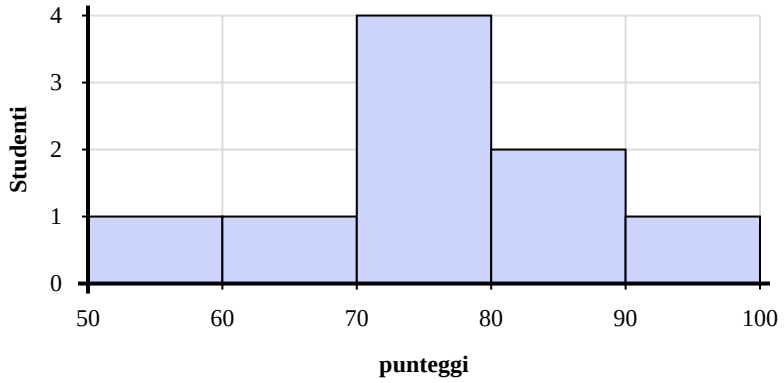

1) Quanti studenti sono rappresentati in questo istogramma?

2) La maggior parte degli studenti ha ottenuto un punteggio compreso tra _____ e _____.

3) Quanti studenti hanno ottenuto un punteggio compreso tra 60 e 70?

4) Se uno studente ha ottenuto un 54 a quale barra verrebbe aggiunto?

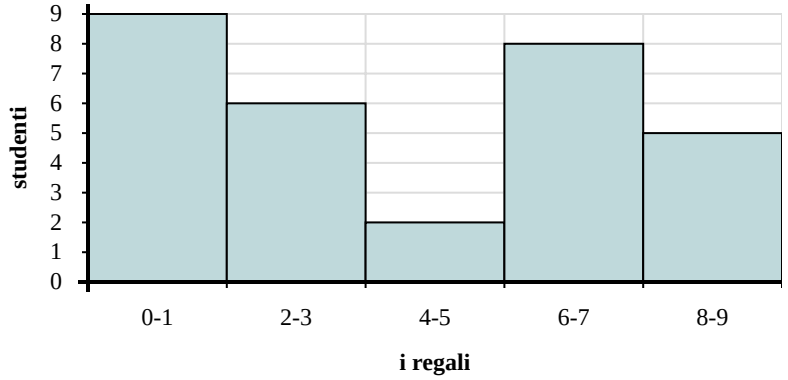

5) Se uno studente ricevesse 8 regali a quale barra verrebbe aggiunto?

6) Quanti studenti hanno ricevuto regali tra 8 e 10?

7) La maggior parte degli studenti ha ricevuto regali tra _____ e _____.

8) Quanti studenti sono rappresentati in questo istogramma?

Risposte

1. _____
2. _____ _____
3. _____
4. _____
5. _____
6. _____
7. _____ _____
8. _____

Interpretazione degli istogrammi Nome: **Soluzioni**

Usa gli istogrammi mostrati per rispondere a ogni domanda.

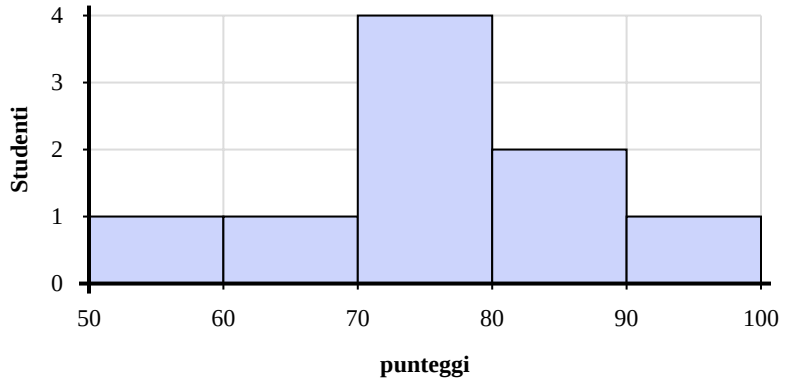

1) Quanti studenti sono rappresentati in questo istogramma?

2) La maggior parte degli studenti ha ottenuto un punteggio compreso tra _____ e _____.

3) Quanti studenti hanno ottenuto un punteggio compreso tra 60 e 70?

4) Se uno studente ha ottenuto un 54 a quale barra verrebbe aggiunto?

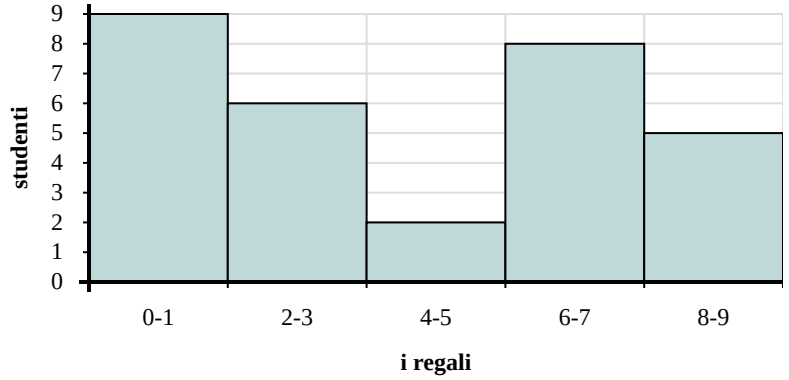

5) Se uno studente ricevesse 8 regali a quale barra verrebbe aggiunto?

6) Quanti studenti hanno ricevuto regali tra 8 e 10?

7) La maggior parte degli studenti ha ricevuto regali tra _____ e _____.

8) Quanti studenti sono rappresentati in questo istogramma?

Risposte

1. 9
2. 70 80
3. 1
4. 1
5. 5
6. 5
7. 0 2
8. 30