Usa gli istogrammi mostrati per rispondere a ogni domanda.

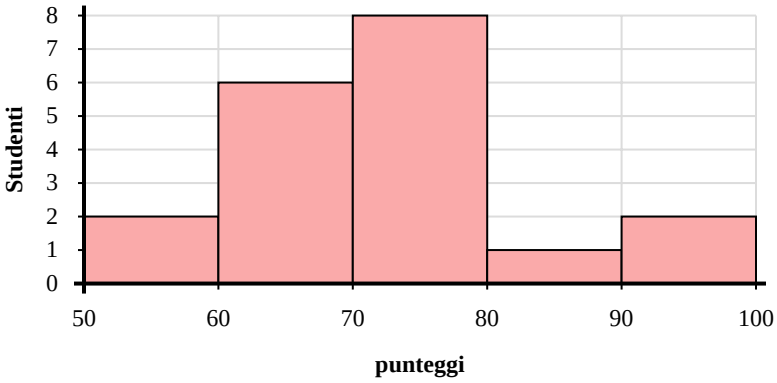

1) Se uno studente ha ottenuto un 94 a quale barra verrebbe aggiunto?

2) Quanti studenti sono rappresentati in questo istogramma?

3) Quanti studenti hanno ottenuto un punteggio compreso tra 60 e 70?

4) La maggior parte degli studenti ha ottenuto un punteggio compreso tra _____ e _____.

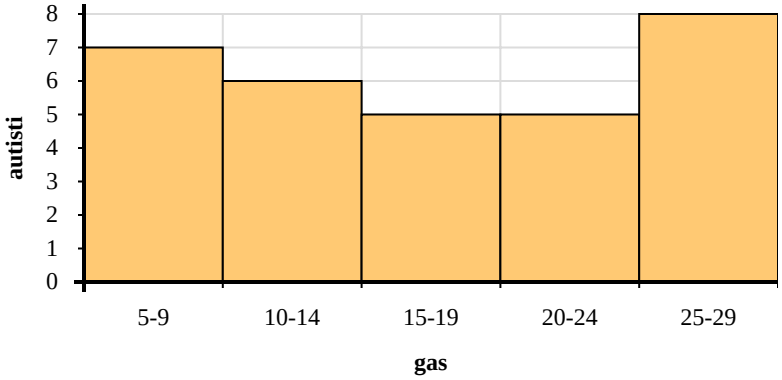

5) La maggior parte dei driver acquistati tra _____ e _____ galloni.

6) Quanti driver sono rappresentati in questo istogramma?

7) Se un conducente acquistasse 17 galloni a quale barra verrebbe aggiunto?

8) Quanti driver acquistati tra 5 e 10 galloni?

Risposte

1. _____
2. _____
3. _____
4. _____ _____
5. _____ _____
6. _____
7. _____
8. _____

1-8	88	75	63	50	38	25	13	0

Usa gli istogrammi mostrati per rispondere a ogni domanda.

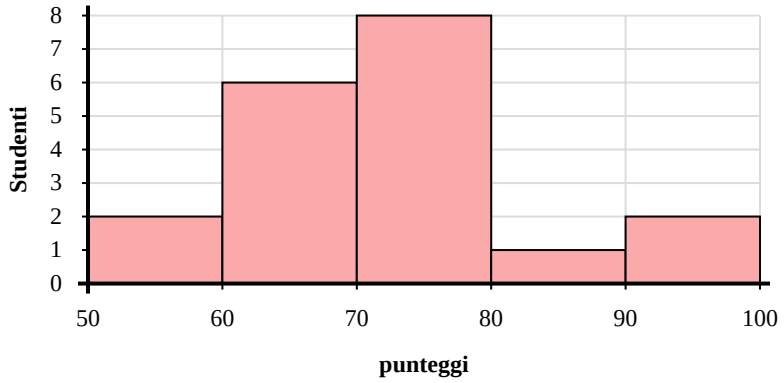

1) Se uno studente ha ottenuto un 94 a quale barra verrebbe aggiunto?

2) Quanti studenti sono rappresentati in questo istogramma?

3) Quanti studenti hanno ottenuto un punteggio compreso tra 60 e 70?

4) La maggior parte degli studenti ha ottenuto un punteggio compreso tra _____ e _____.

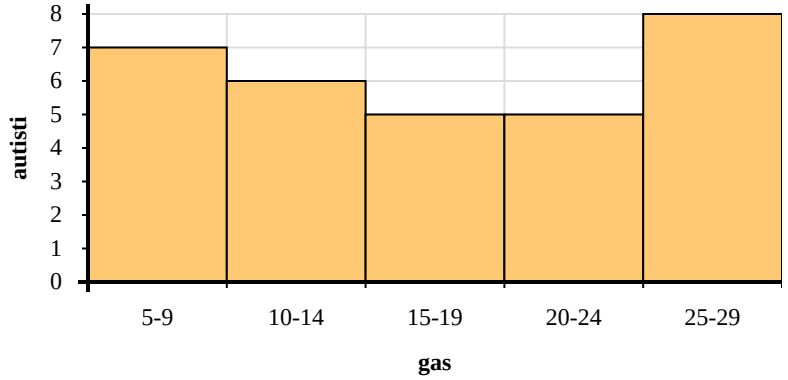

5) La maggior parte dei driver acquistati tra _____ e _____ galloni.

6) Quanti driver sono rappresentati in questo istogramma?

7) Se un conducente acquistasse 17 galloni a quale barra verrebbe aggiunto?

8) Quanti driver acquistati tra 5 e 10 galloni?

Risposte

1. 5
2. 19
3. 6
4. 70 80
5. 25 30
6. 31
7. 3
8. 7

1-8	88	75	63	50	38	25	13	0