Risolvi ogni problema.

Risposte

1. _____
2. _____
3. _____
4. _____
5. _____

1) Il rettangolo sottostante ha dimensioni 2×5. Crea un rettangolo con lo stesso perimetro, ma con area diversa.

2) Il rettangolo sottostante ha dimensioni 1×4. Crea un rettangolo con lo stesso perimetro, ma con area diversa.

3) Il rettangolo sottostante ha dimensioni 2×9. Crea un rettangolo con lo stesso perimetro, ma con area diversa.

4) Il rettangolo sottostante ha dimensioni 1×8. Crea un rettangolo con lo stesso perimetro, ma con area diversa.



5) Il rettangolo sottostante ha dimensioni 3×10. Crea un rettangolo con lo stesso perimetro, ma con area diversa.

1-5	80	60	40	20	0

Risolvi ogni problema.

1) Il rettangolo sottostante ha dimensioni 2×5. Crea un rettangolo con lo stesso perimetro, ma con area diversa.

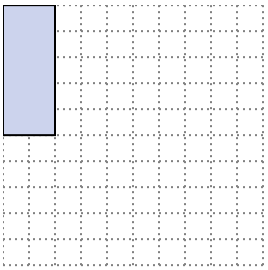



1x6
3x4

2) Il rettangolo sottostante ha dimensioni 1×4. Crea un rettangolo con lo stesso perimetro, ma con area diversa.

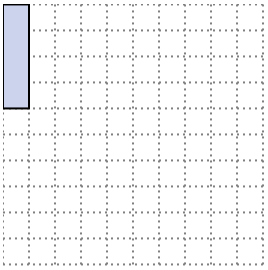



2x3

3) Il rettangolo sottostante ha dimensioni 2×9. Crea un rettangolo con lo stesso perimetro, ma con area diversa.

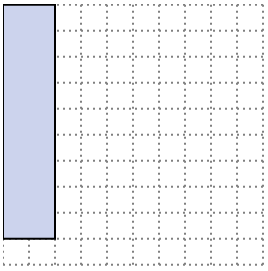



5x6
1x10

4) Il rettangolo sottostante ha dimensioni 1×8. Crea un rettangolo con lo stesso perimetro, ma con area diversa.

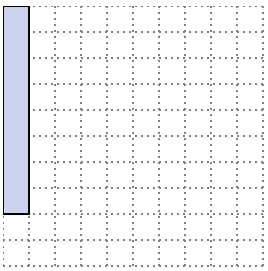



2x7
4x5

5) Il rettangolo sottostante ha dimensioni 3×10. Crea un rettangolo con lo stesso perimetro, ma con area diversa.

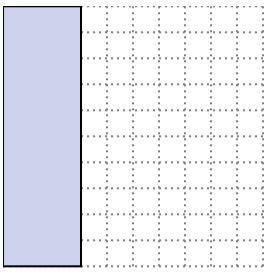



4x9
6x7

Risposte

1. **1×6 : 3×4**
2. **2×3**
3. **5×6 : 1×10**
4. **2×7 : 4×5**
5. **4×9 : 6×7**

1-5	80	60	40	20	0