Trova i pesi

Nome:

Usa le bilance qui rappresentate per rispondere alle domande.

1)

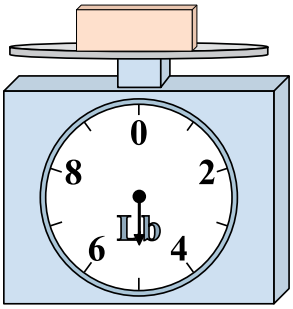

Se il blocco mostrato fosse più leggero di 3 libbre, quanto peserebbe?

2)



Se il blocco mostrato fosse più leggero di 5 once, quanto peserebbe?

3)



Qual è il peso (in libbre) del blocco?

4)



Qual è il peso (in once) del blocco?

5)



Se il blocco mostrato fosse più pesante di 7 libbre, quanto peserebbe?

6)



Se hai 10 blocchi che hanno lo stesso peso, quanto peseranno in totale in once?

7)

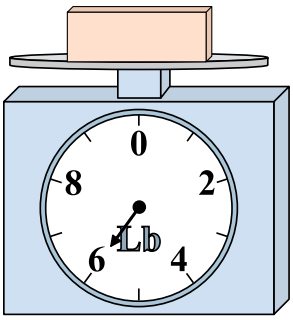

Se il blocco mostrato fosse più pesante di 6 libbre, quanto peserebbe?

8)

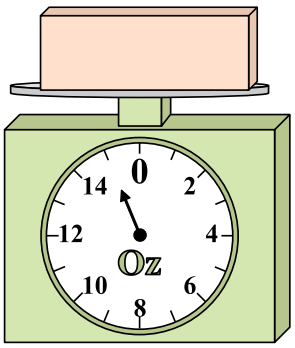

Qual è il peso (in once) del blocco?

9)



Se hai 6 blocchi che hanno lo stesso peso, quanto peseranno in totale in libbre?

Risposte

1. _____
2. _____
3. _____
4. _____
5. _____
6. _____
7. _____
8. _____
9. _____

1-9	89	78	67	56	44	33	22	11	0

Trova i pesi

Nome: **Soluzioni**

Usa le bilance qui rappresentate per rispondere alle domande.

1)

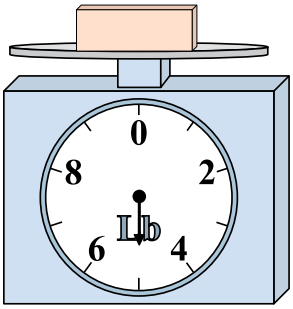

Se il blocco mostrato fosse più leggero di 3 libbre, quanto peserebbe?

2)



Se il blocco mostrato fosse più leggero di 5 once, quanto peserebbe?

3)



Qual è il peso (in libbre) del blocco?

4)



Qual è il peso (in once) del blocco?

5)



Se il blocco mostrato fosse più pesante di 7 libbre, quanto peserebbe?

6)



Se hai 10 blocchi che hanno lo stesso peso, quanto peseranno in totale in once?

7)

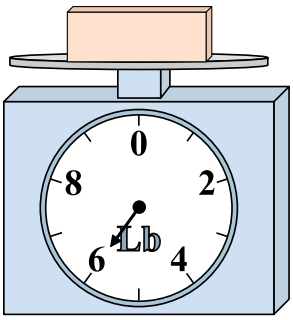

Se il blocco mostrato fosse più pesante di 6 libbre, quanto peserebbe?

8)

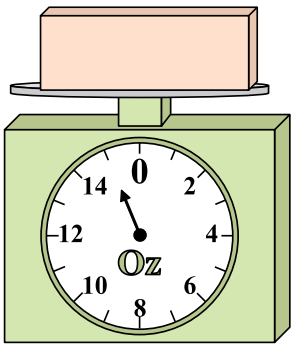

Qual è il peso (in once) del blocco?

9)



Se hai 6 blocchi che hanno lo stesso peso, quanto peseranno in totale in libbre?

Risposte

1. 2
2. 3
3. 8
4. 8
5. 15
6. 140
7. 12
8. 15
9. 24

1-9	89	78	67	56	44	33	22	11	0

Trova i pesi

Nome:

Usa le bilance qui rappresentate per rispondere alle domande.

1)



Se hai 5 blocchi che hanno lo stesso peso, quanto peseranno in totale in libbre?

2)



Qual è il peso (in once) del blocco?

3)



Se il blocco mostrato fosse più pesante di 8 libbre, quanto peserebbe?

4)

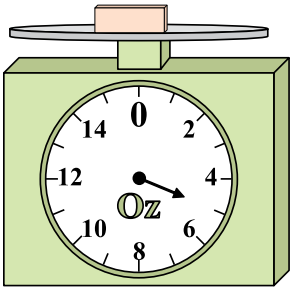

Se il blocco mostrato fosse più pesante di 9 once, quanto peserebbe?

5)

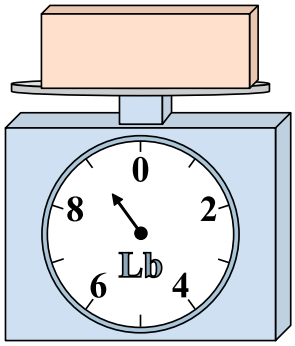

Se il blocco mostrato fosse più leggero di 6 libbre, quanto peserebbe?

6)



Qual è il peso (in once) del blocco?

7)



Qual è il peso (in libbre) del blocco?

8)

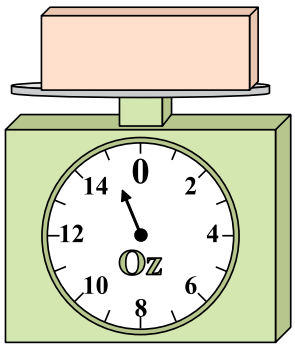

Se il blocco mostrato fosse più leggero di 13 once, quanto peserebbe?

9)



Se hai 3 blocchi che hanno lo stesso peso, quanto peseranno in totale in libbre?

Risposte

1. _____
2. _____
3. _____
4. _____
5. _____
6. _____
7. _____
8. _____
9. _____

1-9	89	78	67	56	44	33	22	11	0

Trova i pesi

Nome: **Soluzioni**

Usa le bilance qui rappresentate per rispondere alle domande.

1)



Se hai 5 blocchi che hanno lo stesso peso, quanto peseranno in totale in libbre?

2)



Qual è il peso (in once) del blocco?

3)



Se il blocco mostrato fosse più pesante di 8 libbre, quanto peserebbe?

4)

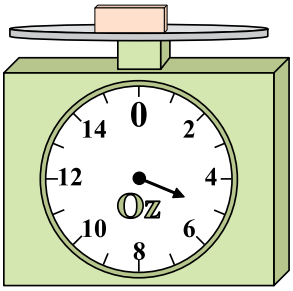

Se il blocco mostrato fosse più pesante di 9 once, quanto peserebbe?

5)

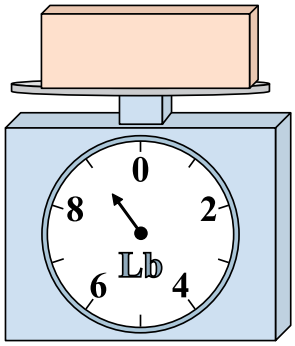

Se il blocco mostrato fosse più leggero di 6 libbre, quanto peserebbe?

6)



Qual è il peso (in once) del blocco?

7)



Qual è il peso (in libbre) del blocco?

8)

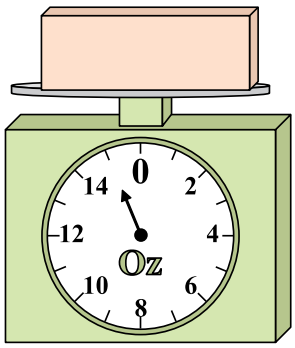

Se il blocco mostrato fosse più leggero di 13 once, quanto peserebbe?

9)



Se hai 3 blocchi che hanno lo stesso peso, quanto peseranno in totale in libbre?

Risposte

1. 45
2. 9
3. 9
4. 14
5. 3
6. 6
7. 1
8. 2
9. 18

1-9	89	78	67	56	44	33	22	11	0

Trova i pesi

Nome:

Usa le bilance qui rappresentate per rispondere alle domande.

1)

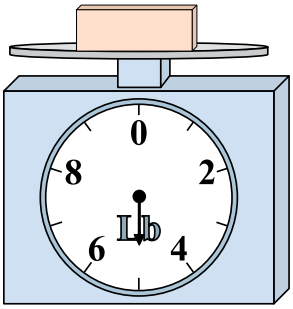

Se il blocco mostrato fosse più pesante di 10 libbre, quanto peserebbe?

2)



Qual è il peso (in once) del blocco?

3)

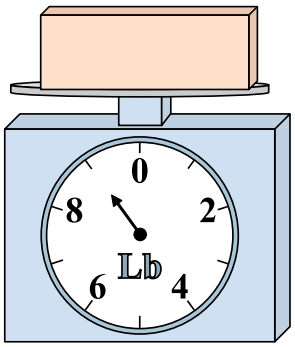

Se hai 3 blocchi che hanno lo stesso peso, quanto peseranno in totale in libbre?

4)



Qual è il peso (in once) del blocco?

5)

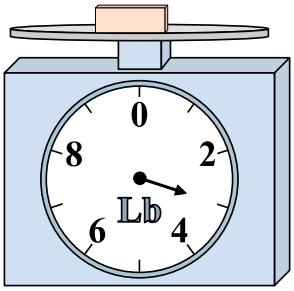

Se il blocco mostrato fosse più leggero di 2 libbre, quanto peserebbe?

6)

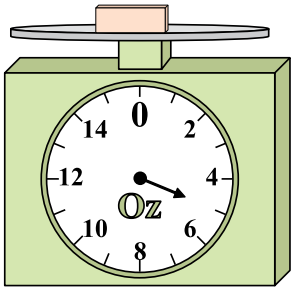

Se hai 5 blocchi che hanno lo stesso peso, quanto peseranno in totale in once?

7)



Se il blocco mostrato fosse più leggero di 2 libbre, quanto peserebbe?

8)

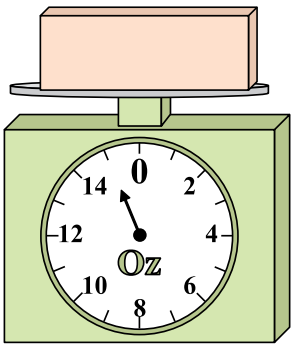

Se hai 10 blocchi che hanno lo stesso peso, quanto peseranno in totale in once?

9)



Se il blocco mostrato fosse più pesante di 9 libbre, quanto peserebbe?

Risposte

1. _____
2. _____
3. _____
4. _____
5. _____
6. _____
7. _____
8. _____
9. _____

1-9	89	78	67	56	44	33	22	11	0

Trova i pesi

Nome: **Soluzioni**

Usa le bilance qui rappresentate per rispondere alle domande.

1)

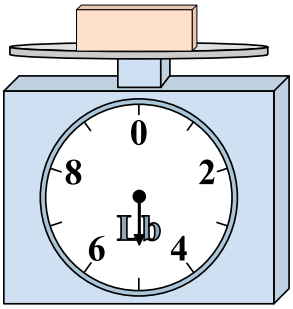

Se il blocco mostrato fosse più pesante di 10 libbre, quanto peserebbe?

2)



Qual è il peso (in once) del blocco?

3)

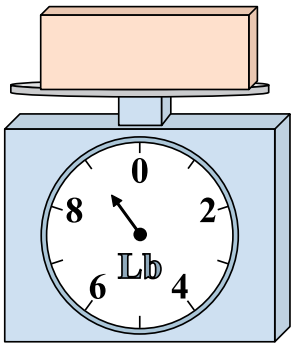

Se hai 3 blocchi che hanno lo stesso peso, quanto peseranno in totale in libbre?

4)



Qual è il peso (in once) del blocco?

5)

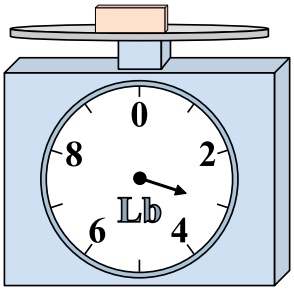

Se il blocco mostrato fosse più leggero di 2 libbre, quanto peserebbe?

6)

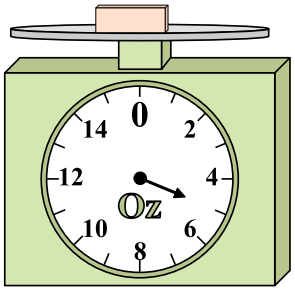

Se hai 5 blocchi che hanno lo stesso peso, quanto peseranno in totale in once?

7)



Se il blocco mostrato fosse più leggero di 2 libbre, quanto peserebbe?

8)

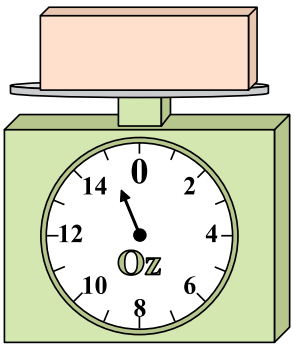

Se hai 10 blocchi che hanno lo stesso peso, quanto peseranno in totale in once?

9)



Se il blocco mostrato fosse più pesante di 9 libbre, quanto peserebbe?

Risposte

1. 15
2. 8
3. 27
4. 2
5. 1
6. 25
7. 1
8. 150
9. 14

1-9	89	78	67	56	44	33	22	11	0

Trova i pesi

Nome:

Usa le bilance qui rappresentate per rispondere alle domande.

1)



Se il blocco mostrato fosse più leggero di 4 libbre, quanto peserebbe?

2)



Qual è il peso (in once) del blocco?

3)



Qual è il peso (in libbre) del blocco?

4)

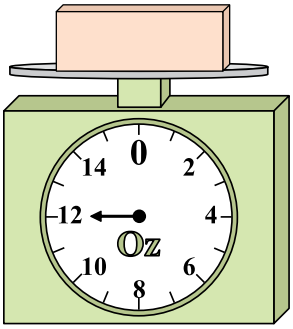

Se hai 2 blocchi che hanno lo stesso peso, quanto peseranno in totale in once?

5)



Se il blocco mostrato fosse più leggero di 2 libbre, quanto peserebbe?

6)



Se hai 5 blocchi che hanno lo stesso peso, quanto peseranno in totale in once?

7)



Se il blocco mostrato fosse più pesante di 2 libbre, quanto peserebbe?

8)



Se hai 6 blocchi che hanno lo stesso peso, quanto peseranno in totale in once?

9)



Se il blocco mostrato fosse più pesante di 4 libbre, quanto peserebbe?

Risposte

1. _____
2. _____
3. _____
4. _____
5. _____
6. _____
7. _____
8. _____
9. _____

1-9	89	78	67	56	44	33	22	11	0

Trova i pesi

Nome: **Soluzioni**

Usa le bilance qui rappresentate per rispondere alle domande.

1)



Se il blocco mostrato fosse più leggero di 4 libbre, quanto peserebbe?

2)



Qual è il peso (in once) del blocco?

3)



Qual è il peso (in libbre) del blocco?

4)

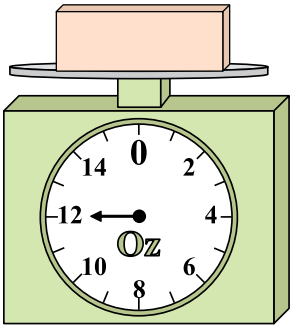

Se hai 2 blocchi che hanno lo stesso peso, quanto peseranno in totale in once?

5)



Se il blocco mostrato fosse più leggero di 2 libbre, quanto peserebbe?

6)



Se hai 5 blocchi che hanno lo stesso peso, quanto peseranno in totale in once?

7)



Se il blocco mostrato fosse più pesante di 2 libbre, quanto peserebbe?

8)



Se hai 6 blocchi che hanno lo stesso peso, quanto peseranno in totale in once?

9)



Se il blocco mostrato fosse più pesante di 4 libbre, quanto peserebbe?

Risposte

1. 5
2. 9
3. 4
4. 24
5. 4
6. 40
7. 9
8. 6
9. 5

1-9	89	78	67	56	44	33	22	11	0

Trova i pesi

Nome:

Usa le bilance qui rappresentate per rispondere alle domande.

1)



Se hai 7 blocchi che hanno lo stesso peso, quanto peseranno in totale in libbre?

2)

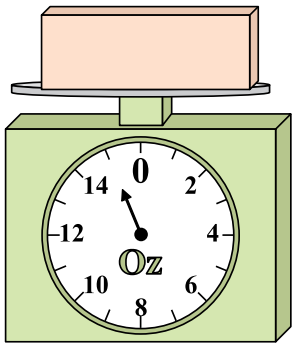

Se il blocco mostrato fosse più pesante di 7 once, quanto peserebbe?

3)

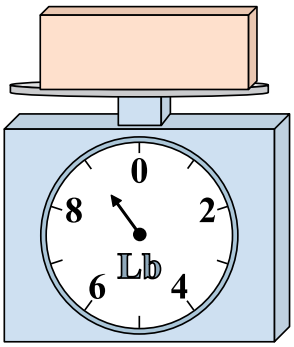

Qual è il peso (in libbre) del blocco?

4)

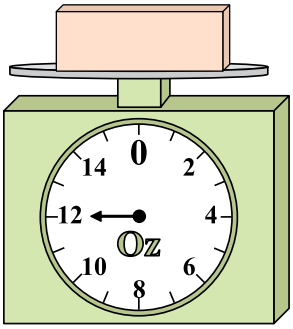

Se il blocco mostrato fosse più leggero di 10 once, quanto peserebbe?

5)



Se il blocco mostrato fosse più pesante di 6 libbre, quanto peserebbe?

6)



Se il blocco mostrato fosse più leggero di 4 once, quanto peserebbe?

7)



Qual è il peso (in libbre) del blocco?

8)



Se hai 7 blocchi che hanno lo stesso peso, quanto peseranno in totale in once?

9)



Qual è il peso (in libbre) del blocco?

Risposte

1. _____
2. _____
3. _____
4. _____
5. _____
6. _____
7. _____
8. _____
9. _____

1-9	89	78	67	56	44	33	22	11	0

Trova i pesi

Nome: **Soluzioni**

Usa le bilance qui rappresentate per rispondere alle domande.

1)



Se hai 7 blocchi che hanno lo stesso peso, quanto peseranno in totale in libbre?

2)

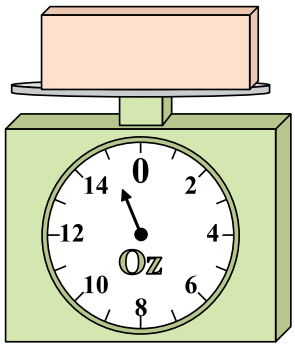

Se il blocco mostrato fosse più pesante di 7 once, quanto peserebbe?

3)

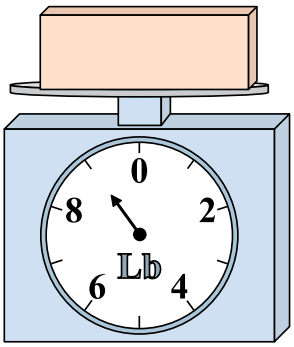

Qual è il peso (in libbre) del blocco?

4)

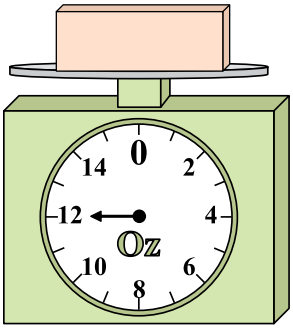

Se il blocco mostrato fosse più leggero di 10 once, quanto peserebbe?

5)



Se il blocco mostrato fosse più pesante di 6 libbre, quanto peserebbe?

6)



Se il blocco mostrato fosse più leggero di 4 once, quanto peserebbe?

7)



Qual è il peso (in libbre) del blocco?

8)



Se hai 7 blocchi che hanno lo stesso peso, quanto peseranno in totale in once?

9)



Qual è il peso (in libbre) del blocco?

Risposte

1. 63
2. 22
3. 9
4. 2
5. 8
6. 5
7. 4
8. 70
9. 4

1-9	89	78	67	56	44	33	22	11	0

Trova i pesi

Nome:

Usa le bilance qui rappresentate per rispondere alle domande.

1)



Se il blocco mostrato fosse più leggero di 6 libbre, quanto peserebbe?

2)



Se il blocco mostrato fosse più leggero di 8 once, quanto peserebbe?

3)



Se hai 2 blocchi che hanno lo stesso peso, quanto peseranno in totale in libbre?

4)



Se il blocco mostrato fosse più pesante di 2 once, quanto peserebbe?

5)

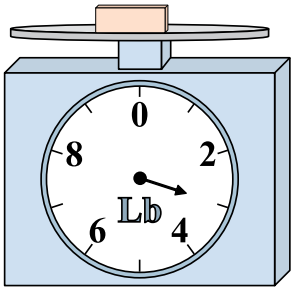

Se hai 8 blocchi che hanno lo stesso peso, quanto peseranno in totale in libbre?

6)



Se il blocco mostrato fosse più pesante di 2 once, quanto peserebbe?

7)



Qual è il peso (in libbre) del blocco?

8)

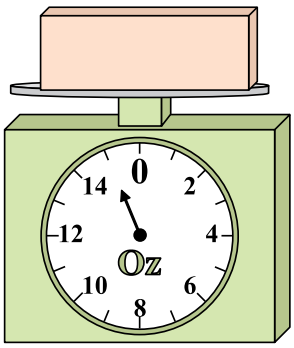

Qual è il peso (in once) del blocco?

9)



Se il blocco mostrato fosse più leggero di 3 libbre, quanto peserebbe?

Risposte

1. _____
2. _____
3. _____
4. _____
5. _____
6. _____
7. _____
8. _____
9. _____

1-9	89	78	67	56	44	33	22	11	0

Trova i pesi

Nome: **Soluzioni**

Usa le bilance qui rappresentate per rispondere alle domande.

1)



Se il blocco mostrato fosse più leggero di 6 libbre, quanto peserebbe?

2)



Se il blocco mostrato fosse più leggero di 8 once, quanto peserebbe?

3)



Se hai 2 blocchi che hanno lo stesso peso, quanto peseranno in totale in libbre?

4)



Se il blocco mostrato fosse più pesante di 2 once, quanto peserebbe?

5)

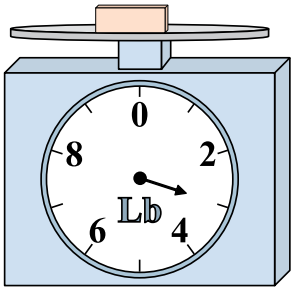

Se hai 8 blocchi che hanno lo stesso peso, quanto peseranno in totale in libbre?

6)



Se il blocco mostrato fosse più pesante di 2 once, quanto peserebbe?

7)



Qual è il peso (in libbre) del blocco?

8)

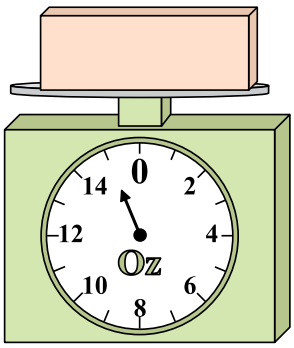

Qual è il peso (in once) del blocco?

9)



Se il blocco mostrato fosse più leggero di 3 libbre, quanto peserebbe?

Risposte

1. 2
2. 1
3. 14
4. 8
5. 24
6. 4
7. 9
8. 15
9. 4

1-9	89	78	67	56	44	33	22	11	0

Trova i pesi

Nome:

Usa le bilance qui rappresentate per rispondere alle domande.

1)



Qual è il peso (in libbre) del blocco?

2)

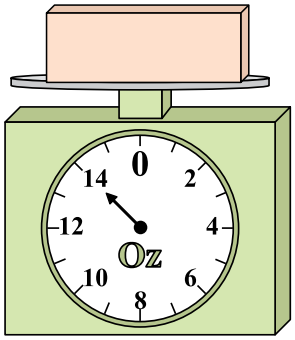

Se il blocco mostrato fosse più pesante di 8 once, quanto peserebbe?

3)



Se hai 2 blocchi che hanno lo stesso peso, quanto peseranno in totale in libbre?

4)

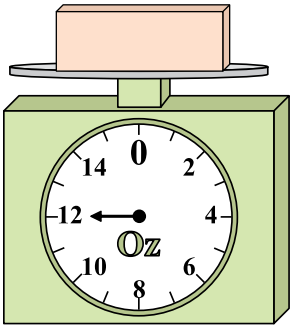

Se hai 8 blocchi che hanno lo stesso peso, quanto peseranno in totale in once?

5)



Se il blocco mostrato fosse più pesante di 2 libbre, quanto peserebbe?

6)

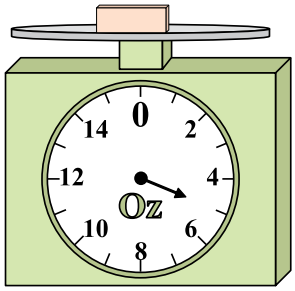

Se il blocco mostrato fosse più leggero di 4 once, quanto peserebbe?

7)

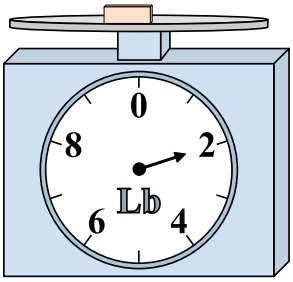

Se hai 8 blocchi che hanno lo stesso peso, quanto peseranno in totale in libbre?

8)



Qual è il peso (in once) del blocco?

9)



Se il blocco mostrato fosse più leggero di 3 libbre, quanto peserebbe?

Risposte

1. _____
2. _____
3. _____
4. _____
5. _____
6. _____
7. _____
8. _____
9. _____

1-9	89	78	67	56	44	33	22	11	0

Trova i pesi

Nome: **Soluzioni**

Usa le bilance qui rappresentate per rispondere alle domande.

1)



Qual è il peso (in libbre) del blocco?

2)

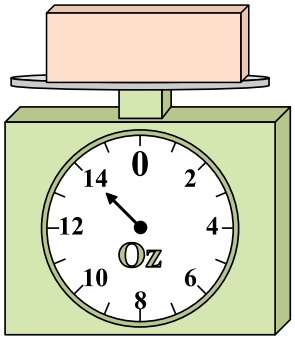

Se il blocco mostrato fosse più pesante di 8 once, quanto peserebbe?

3)



Se hai 2 blocchi che hanno lo stesso peso, quanto peseranno in totale in libbre?

4)

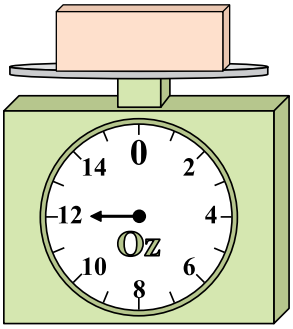

Se hai 8 blocchi che hanno lo stesso peso, quanto peseranno in totale in once?

5)



Se il blocco mostrato fosse più pesante di 2 libbre, quanto peserebbe?

6)

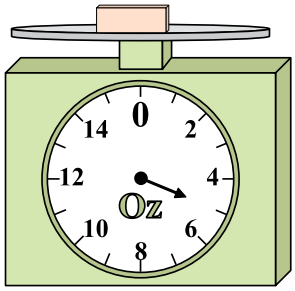

Se il blocco mostrato fosse più leggero di 4 once, quanto peserebbe?

7)

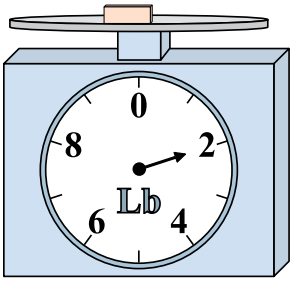

Se hai 8 blocchi che hanno lo stesso peso, quanto peseranno in totale in libbre?

8)



Qual è il peso (in once) del blocco?

9)



Se il blocco mostrato fosse più leggero di 3 libbre, quanto peserebbe?

Risposte

1. **7**
2. **22**
3. **8**
4. **96**
5. **9**
6. **1**
7. **16**
8. **10**
9. **5**

1-9	89	78	67	56	44	33	22	11	0

Trova i pesi

Nome:

Usa le bilance qui rappresentate per rispondere alle domande.

1)

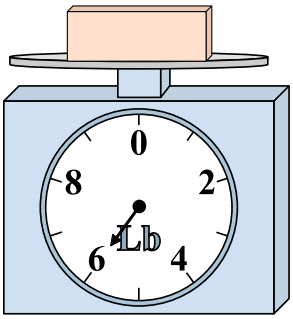

Qual è il peso (in libbre) del blocco?

2)



Qual è il peso (in once) del blocco?

3)



Se il blocco mostrato fosse più leggero di 3 libbre, quanto peserebbe?

4)



Se il blocco mostrato fosse più pesante di 7 once, quanto peserebbe?

5)

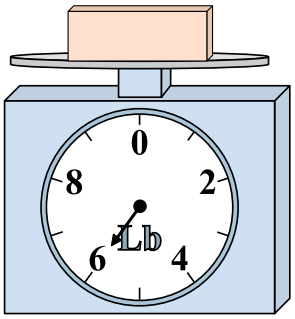

Se il blocco mostrato fosse più pesante di 4 libbre, quanto peserebbe?

6)



Se hai 9 blocchi che hanno lo stesso peso, quanto peseranno in totale in once?

7)



Se hai 10 blocchi che hanno lo stesso peso, quanto peseranno in totale in libbre?

8)



Se il blocco mostrato fosse più leggero di 5 once, quanto peserebbe?

9)



Se il blocco mostrato fosse più leggero di 6 libbre, quanto peserebbe?

Risposte

1. _____
2. _____
3. _____
4. _____
5. _____
6. _____
7. _____
8. _____
9. _____

1-9	89	78	67	56	44	33	22	11	0

Trova i pesi

Nome: **Soluzioni**

Usa le bilance qui rappresentate per rispondere alle domande.

1)

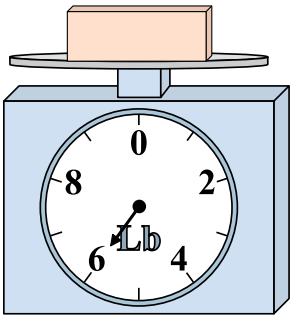

Qual è il peso (in libbre) del blocco?

2)



Qual è il peso (in once) del blocco?

3)



Se il blocco mostrato fosse più leggero di 3 libbre, quanto peserebbe?

4)



Se il blocco mostrato fosse più pesante di 7 once, quanto peserebbe?

5)

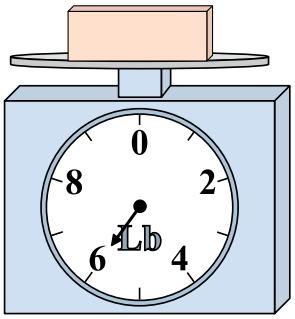

Se il blocco mostrato fosse più pesante di 4 libbre, quanto peserebbe?

6)



Se hai 9 blocchi che hanno lo stesso peso, quanto peseranno in totale in once?

7)



Se hai 10 blocchi che hanno lo stesso peso, quanto peseranno in totale in libbre?

8)



Se il blocco mostrato fosse più leggero di 5 once, quanto peserebbe?

9)



Se il blocco mostrato fosse più leggero di 6 libbre, quanto peserebbe?

Risposte

1. **6**
2. **8**
3. **1**
4. **21**
5. **10**
6. **108**
7. **30**
8. **9**
9. **2**

1-9	89	78	67	56	44	33	22	11	0

Trova i pesi

Nome:

Usa le bilance qui rappresentate per rispondere alle domande.

1)



Se il blocco mostrato fosse più leggero di 3 libbre, quanto peserebbe?

2)



Se il blocco mostrato fosse più leggero di 3 once, quanto peserebbe?

3)

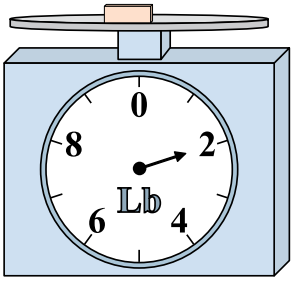

Se il blocco mostrato fosse più pesante di 7 libbre, quanto peserebbe?

4)

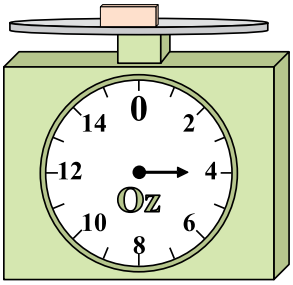

Qual è il peso (in once) del blocco?

5)

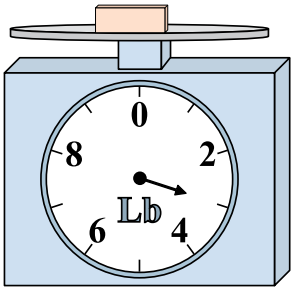

Se il blocco mostrato fosse più leggero di 2 libbre, quanto peserebbe?

6)



Qual è il peso (in once) del blocco?

7)



Se hai 9 blocchi che hanno lo stesso peso, quanto peseranno in totale in libbre?

8)



Se hai 10 blocchi che hanno lo stesso peso, quanto peseranno in totale in once?

9)



Se il blocco mostrato fosse più pesante di 9 libbre, quanto peserebbe?

Risposte

1. _____
2. _____
3. _____
4. _____
5. _____
6. _____
7. _____
8. _____
9. _____

1-9	89	78	67	56	44	33	22	11	0

Trova i pesi

Nome: **Soluzioni**

Usa le bilance qui rappresentate per rispondere alle domande.

1)



Se il blocco mostrato fosse più leggero di 3 libbre, quanto peserebbe?

2)



Se il blocco mostrato fosse più leggero di 3 once, quanto peserebbe?

3)



Se il blocco mostrato fosse più pesante di 7 libbre, quanto peserebbe?

4)

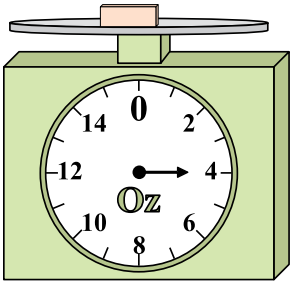

Qual è il peso (in once) del blocco?

5)



Se il blocco mostrato fosse più leggero di 2 libbre, quanto peserebbe?

6)



Qual è il peso (in once) del blocco?

7)



Se hai 9 blocchi che hanno lo stesso peso, quanto peseranno in totale in libbre?

8)



Se hai 10 blocchi che hanno lo stesso peso, quanto peseranno in totale in once?

9)



Se il blocco mostrato fosse più pesante di 9 libbre, quanto peserebbe?

Risposte

1. **1**
2. **3**
3. **9**
4. **4**
5. **1**
6. **13**
7. **81**
8. **70**
9. **14**

1-9	89	78	67	56	44	33	22	11	0

Trova i pesi

Nome:

Usa le bilance qui rappresentate per rispondere alle domande.

1)



Qual è il peso (in libbre) del blocco?

2)



Se il blocco mostrato fosse più pesante di 5 once, quanto peserebbe?

3)



Se il blocco mostrato fosse più leggero di 5 libbre, quanto peserebbe?

4)



Se il blocco mostrato fosse più leggero di 8 once, quanto peserebbe?

5)



Se hai 10 blocchi che hanno lo stesso peso, quanto peseranno in totale in libbre?

6)



Se il blocco mostrato fosse più pesante di 2 once, quanto peserebbe?

7)



Se hai 9 blocchi che hanno lo stesso peso, quanto peseranno in totale in libbre?

8)



Se il blocco mostrato fosse più pesante di 3 once, quanto peserebbe?

9)



Qual è il peso (in libbre) del blocco?

Risposte

1. _____
2. _____
3. _____
4. _____
5. _____
6. _____
7. _____
8. _____
9. _____

1-9	89	78	67	56	44	33	22	11	0

Trova i pesi

Nome: **Soluzioni**

Usa le bilance qui rappresentate per rispondere alle domande.

1)



Qual è il peso (in libbre) del blocco?

2)



Se il blocco mostrato fosse più pesante di 5 once, quanto peserebbe?

3)



Se il blocco mostrato fosse più leggero di 5 libbre, quanto peserebbe?

4)



Se il blocco mostrato fosse più leggero di 8 once, quanto peserebbe?

5)



Se hai 10 blocchi che hanno lo stesso peso, quanto peseranno in totale in libbre?

6)



Se il blocco mostrato fosse più pesante di 2 once, quanto peserebbe?

7)



Se hai 9 blocchi che hanno lo stesso peso, quanto peseranno in totale in libbre?

8)



Se il blocco mostrato fosse più pesante di 3 once, quanto peserebbe?

9)



Qual è il peso (in libbre) del blocco?

Risposte

1. **9**
2. **19**
3. **3**
4. **5**
5. **80**
6. **16**
7. **27**
8. **6**
9. **9**

1-9	89	78	67	56	44	33	22	11	0