**Risolvi ogni problema.**

**1)**

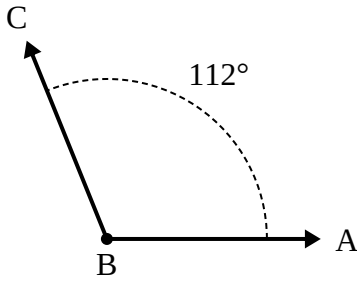


A. Disegna e nomina una semiretta BD in maniera tale che divida l'angolo ABC in due angoli più piccoli, con un angolo DBC che misuri 34 gradi.

B. Quanto misura l'angolo ABD?

**2)**

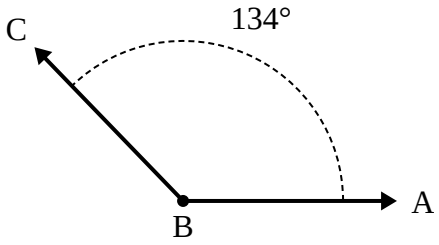


A. Disegna e nomina una semiretta BD in maniera tale che divida l'angolo ABC in due angoli più piccoli, con un angolo ABD che misuri 91 gradi.

B. Quanto misura l'angolo DBC?

**3)**

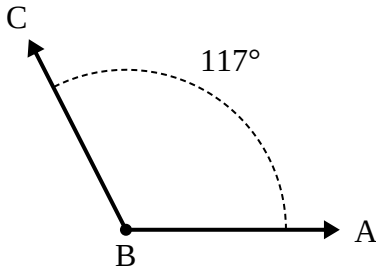


A. Disegna e nomina una semiretta BD in maniera tale che divida l'angolo ABC in due angoli più piccoli, con un angolo ABD che misuri 66 gradi.

B. Quanto misura l'angolo DBC?

**4)**

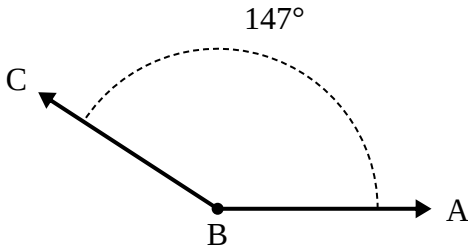


A. Disegna e nomina una semiretta BD in maniera tale che divida l'angolo ABC in due angoli più piccoli, con un angolo ABD che misuri 48 gradi.

B. Quanto misura l'angolo DBC?

**5)**

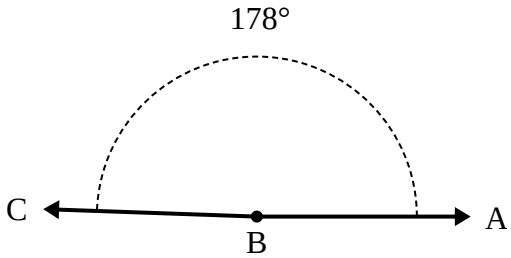


A. Disegna e nomina una semiretta BD in maniera tale che divida l'angolo ABC in due angoli più piccoli, con un angolo ABD che misuri 112 gradi.

B. Quanto misura l'angolo DBC?

**6)**

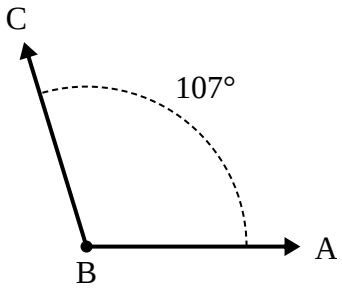


A. Disegna e nomina una semiretta BD in maniera tale che divida l'angolo ABC in due angoli più piccoli, con un angolo ABD che misuri 58 gradi.

B. Quanto misura l'angolo DBC?

**Risposte**

1. _____
2. _____
3. _____
4. _____
5. _____
6. _____



| 1-6 | 83 | 67 | 50 | 33 | 17 | 0 |
|---|---|---|---|---|---|---|

**Risolvi ogni problema.**

**1)**

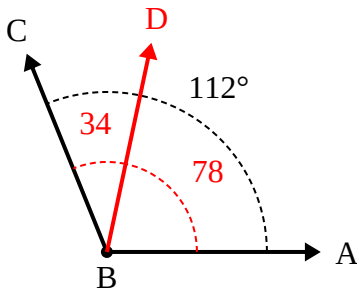


A. Disegna e nomina una semiretta BD in maniera tale che divida l'angolo ABC in due angoli più piccoli, con un angolo DBC che misuri 34 gradi.

B. Quanto misura l'angolo ABD?

**2)**

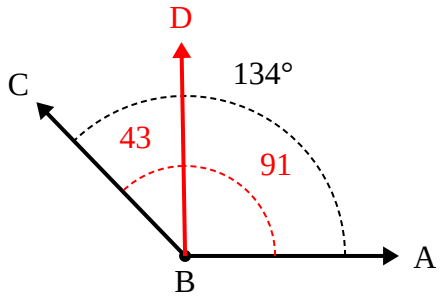


A. Disegna e nomina una semiretta BD in maniera tale che divida l'angolo ABC in due angoli più piccoli, con un angolo ABD che misuri 91 gradi.

B. Quanto misura l'angolo DBC?

**3)**

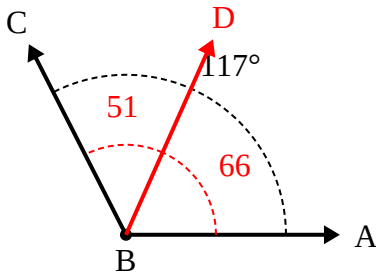


A. Disegna e nomina una semiretta BD in maniera tale che divida l'angolo ABC in due angoli più piccoli, con un angolo ABD che misuri 66 gradi.

B. Quanto misura l'angolo DBC?

**4)**

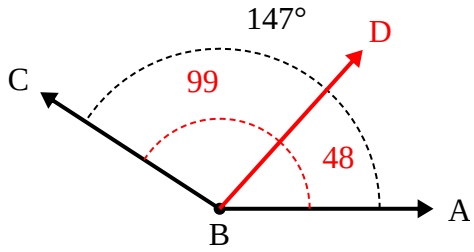


A. Disegna e nomina una semiretta BD in maniera tale che divida l'angolo ABC in due angoli più piccoli, con un angolo ABD che misuri 48 gradi.

B. Quanto misura l'angolo DBC?

**5)**

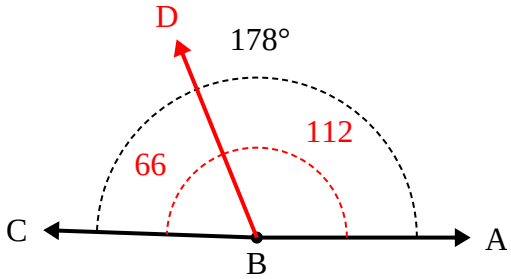


A. Disegna e nomina una semiretta BD in maniera tale che divida l'angolo ABC in due angoli più piccoli, con un angolo ABD che misuri 112 gradi.

B. Quanto misura l'angolo DBC?

**6)**

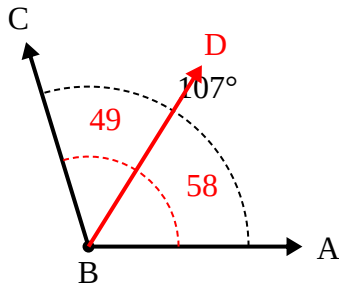


A. Disegna e nomina una semiretta BD in maniera tale che divida l'angolo ABC in due angoli più piccoli, con un angolo ABD che misuri 58 gradi.

B. Quanto misura l'angolo DBC?

**Risposte**

1. **78°**
2. **43°**
3. **51°**
4. **99°**
5. **66°**
6. **49°**



| 1-6 | 83 | 67 | 50 | 33 | 17 | 0 |
|---|---|---|---|---|---|---|