Trovare il tempo trascorso con una linea dei numeri Nome:

Risolvi ogni problema.

1) Inizio: 2:00

Elapsed: _____

Fine: 3:45

2) Inizio: 11:35

Elapsed: _____

Fine: 2:20

3) Inizio: 9:00

Elapsed: _____

Fine: 10:10

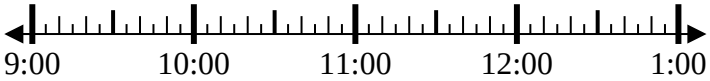

4) Inizio: 11:45

Elapsed: _____

Fine: 1:05

5) Inizio: 12:20

Elapsed: _____

Fine: 1:35

6) Inizio: 5:25

Elapsed: _____

Fine: 6:35

7) Inizio: 2:35

Elapsed: _____

Fine: 4:20

8) Inizio: 9:35

Elapsed: _____

Fine: 12:20

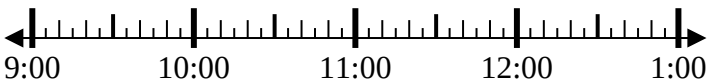

Risposte

1. _____
2. _____
3. _____
4. _____
5. _____
6. _____
7. _____
8. _____

1-8	88	75	63	50	38	25	13	0

Trovare il tempo trascorso con una linea dei numeri Nome: **Soluzioni**

Risolvi ogni problema.

1) Inizio: 2:00

Elapsed: 1 ora e 45 minuti

Fine: 3:45

2) Inizio: 11:35

Elapsed: 2 ore e 45 minuti

Fine: 2:20

3) Inizio: 9:00

Elapsed: 1 ora e 10 minuti

Fine: 10:10

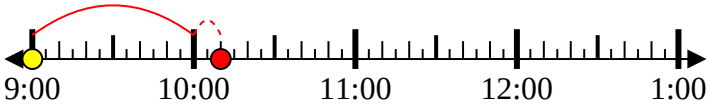

4) Inizio: 11:45

Elapsed: 1 ora e 20 minuti

Fine: 1:05

5) Inizio: 12:20

Elapsed: 1 ora e 15 minuti

Fine: 1:35

6) Inizio: 5:25

Elapsed: 1 ora e 10 minuti

Fine: 6:35

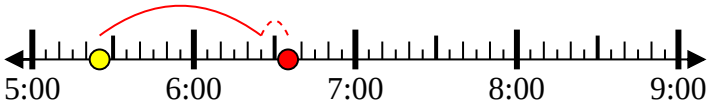

7) Inizio: 2:35

Elapsed: 1 ora e 45 minuti

Fine: 4:20

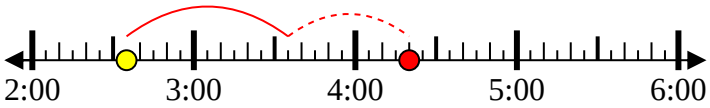

8) Inizio: 9:35

Elapsed: 2 ore e 45 minuti

Fine: 12:20

Risposte

1. **1 ora e 45 minuti**
2. **2 ore e 45 minuti**
3. **1 ora e 10 minuti**
4. **1 ora e 20 minuti**
5. **1 ora e 15 minuti**
6. **1 ora e 10 minuti**
7. **1 ora e 45 minuti**
8. **2 ore e 45 minuti**

1-8	88	75	63	50	38	25	13	0