Trovare il tempo trascorso con una linea dei numeri Nome:

Risolvi ogni problema.

1) Inizio: 6:45

Elapsed: _____

Fine: 7:55

2) Inizio: 6:25

Elapsed: _____

Fine: 9:05

3) Inizio: 1:10

Elapsed: _____

Fine: 3:00

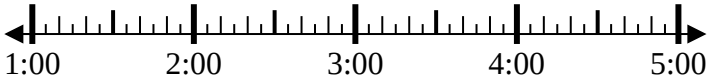

4) Inizio: 11:15

Elapsed: _____

Fine: 1:00

5) Inizio: 3:25

Elapsed: _____

Fine: 5:35

6) Inizio: 3:20

Elapsed: _____

Fine: 5:55

7) Inizio: 10:35

Elapsed: _____

Fine: 12:25

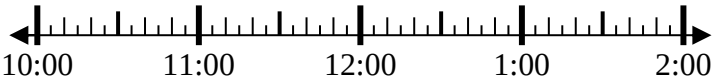

8) Inizio: 10:00

Elapsed: _____

Fine: 11:30

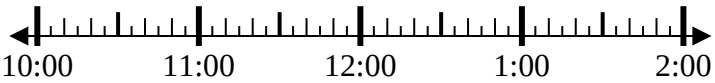

Risposte

1. _____
2. _____
3. _____
4. _____
5. _____
6. _____
7. _____
8. _____

1-8	88	75	63	50	38	25	13	0

Trovare il tempo trascorso con una linea dei numeri Nome: **Soluzioni**

Risolvi ogni problema.

1) Inizio: 6:45

Elapsed: 1 ora e 10 minuti

Fine: 7:55

2) Inizio: 6:25

Elapsed: 2 ore e 40 minuti

Fine: 9:05

3) Inizio: 1:10

Elapsed: 1 ora e 50 minuti

Fine: 3:00

4) Inizio: 11:15

Elapsed: 1 ora e 45 minuti

Fine: 1:00

5) Inizio: 3:25

Elapsed: 2 ore e 10 minuti

Fine: 5:35

6) Inizio: 3:20

Elapsed: 2 ore e 35 minuti

Fine: 5:55

7) Inizio: 10:35

Elapsed: 1 ora e 50 minuti

Fine: 12:25

8) Inizio: 10:00

Elapsed: 1 ora e 30 minuti

Fine: 11:30

Risposte

1. **1 ora e 10 minuti**
2. **2 ore e 40 minuti**
3. **1 ora e 50 minuti**
4. **1 ora e 45 minuti**
5. **2 ore e 10 minuti**
6. **2 ore e 35 minuti**
7. **1 ora e 50 minuti**
8. **1 ora e 30 minuti**

1-8	88	75	63	50	38	25	13	0