Sottrazione Grafica

Nome:

Usa il modello grafico per risolvere ogni problema.

1) Ci sono 18 cerchi qui sotto.

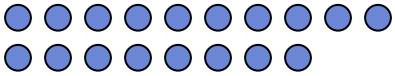

Togliendo 17, quante ne rimangono?
18 - 17 = ?

2) Ci sono 2 quadrati qui sotto.

Togliendo 1, quante ne rimangono?
2 - 1 = ?

3) Ci sono 18 esagoni qui sotto.

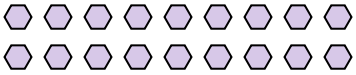

Togliendo 5, quante ne rimangono?
18 - 5 = ?

4) Ci sono 10 quadrati qui sotto.

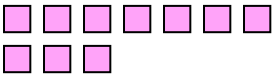

Togliendo 1, quante ne rimangono?
10 - 1 = ?

5) Ci sono 7 pentagoni qui sotto.

Togliendo 2, quante ne rimangono?
7 - 2 = ?

6) Ci sono 8 cerchi qui sotto.

Togliendo 7, quante ne rimangono?
8 - 7 = ?

7) Ci sono 18 rettangoli qui sotto.

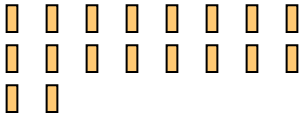

Togliendo 15, quante ne rimangono?
18 - 15 = ?

8) Ci sono 14 stelle qui sotto.

Togliendo 2, quante ne rimangono?
14 - 2 = ?

9) Ci sono 4 stelle qui sotto.

Togliendo 1, quante ne rimangono?
4 - 1 = ?

10) Ci sono 12 esagoni qui sotto.

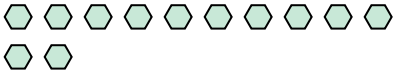

Togliendo 4, quante ne rimangono?
12 - 4 = ?

Risposte

1. _____
2. _____
3. _____
4. _____
5. _____
6. _____
7. _____
8. _____
9. _____
10. _____

Sottrazione Grafica

Nome: **Soluzioni**

Usa il modello grafico per risolvere ogni problema.

1) Ci sono 18 cerchi qui sotto.

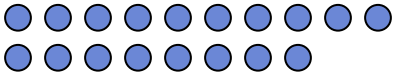

Togliendo 17, quante ne rimangono?
18 - 17 = ?

2) Ci sono 2 quadrati qui sotto.

Togliendo 1, quante ne rimangono?
2 - 1 = ?

3) Ci sono 18 esagoni qui sotto.

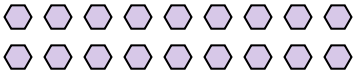

Togliendo 5, quante ne rimangono?
18 - 5 = ?

4) Ci sono 10 quadrati qui sotto.

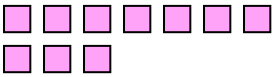

Togliendo 1, quante ne rimangono?
10 - 1 = ?

5) Ci sono 7 pentagoni qui sotto.

Togliendo 2, quante ne rimangono?
7 - 2 = ?

6) Ci sono 8 cerchi qui sotto.

Togliendo 7, quante ne rimangono?
8 - 7 = ?

7) Ci sono 18 rettangoli qui sotto.

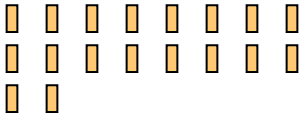

Togliendo 15, quante ne rimangono?
18 - 15 = ?

8) Ci sono 14 stelle qui sotto.

Togliendo 2, quante ne rimangono?
14 - 2 = ?

9) Ci sono 4 stelle qui sotto.

Togliendo 1, quante ne rimangono?
4 - 1 = ?

10) Ci sono 12 esagoni qui sotto.

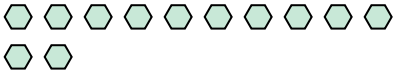

Togliendo 4, quante ne rimangono?
12 - 4 = ?

Risposte

1. 1
2. 1
3. 13
4. 9
5. 5
6. 1
7. 3
8. 12
9. 3
10. 8

1-10	90	80	70	60	50	40	30	20	10	0