Usa le doppie linee per esprimere i rapporti Nome:

Usa le doppie linee per risolvere i problemi.

Risposte

1) A una raccolta fondi scolastica per ogni 6 scatole di cioccolato vendute guadagni 4 punti. Se dovessi vendere scatole 42, quanti punti avresti guadagnato?

scatole ↔
punti ↔

2) Per ogni 9 lattine Giovanni raccolte per il riciclaggio ha guadagnato 2 centesimi. Dopo aver raccolto 18 lattine, quanti soldi avrebbe guadagnato?

lattine ↔
soldi ↔

3) Un negozio aveva una vendita in cui si potevano ottenere 2 sacchi di anacardi per $ 3. Se volessi acquistare borse 8, quanto costerebbe?

anacardi ↔
prezzo ↔

4) Un cinema metteva 4 tazze di olio per ogni 8 lotti di popcorn che produceva. Dopo aver prodotto 40 lotti di popcorn, quanto olio avrebbero usato?

Popcorn ↔
olio ↔

5) In un videogioco, per ogni 8 nemici sconfitti, ottieni 9 punti. Se avessi sconfitto 56 nemici, quanti punti avresti guadagnato?

nemici ↔
punti ↔

6) Il rapporto tra ragazzi e ragazze al parco era 6 su 2. Se c'erano 60 maschi, quante femmine c'erano?

ragazzi ↔
ragazze ↔

7) Una scatola di caramelle conteneva 2 pezzi di ciliegia per ogni 6 pezzi di limone. Se la scatola avesse 36 pezzi di limone, quanti pezzi di ciliegia ci sarebbero?

Limone ↔
ciliegia ↔

8) Un costruttore potrebbe ottenere 2 fogli di cartongesso per $9. Se avesse comprato fogli 20, quanti soldi avrebbe speso?

tongesso ↔
prezzo ↔

1. _____
2. _____
3. _____
4. _____
5. _____
6. _____
7. _____
8. _____

1-8	88	75	63	50	38	25	13	0

Usa le doppie linee per esprimere i rapporti Nome: **Soluzioni**

Usa le doppie linee per risolvere i problemi.

1) A una raccolta fondi scolastica per ogni 6 scatole di cioccolato vendute guadagni 4 punti. Se dovessi vendere scatole 42, quanti punti avresti guadagnato?

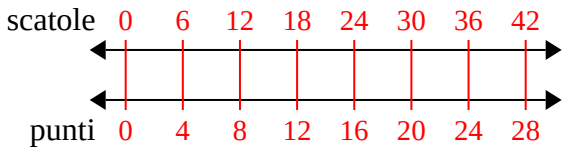

2) Per ogni 9 lattine Giovanni raccolte per il riciclaggio ha guadagnato 2 centesimi. Dopo aver raccolto 18 lattine, quanti soldi avrebbe guadagnato?

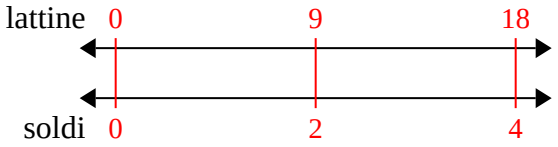

3) Un negozio aveva una vendita in cui si potevano ottenere 2 sacchi di anacardi per $ 3. Se volessi acquistare borse 8, quanto costerebbe?

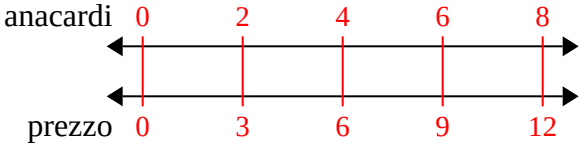

4) Un cinema metteva 4 tazze di olio per ogni 8 lotti di popcorn che produceva. Dopo aver prodotto 40 lotti di popcorn, quanto olio avrebbero usato?

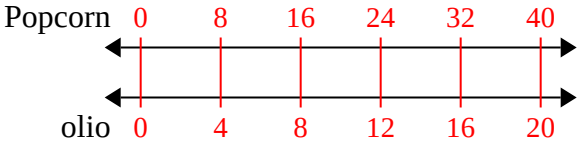

5) In un videogioco, per ogni 8 nemici sconfitti, ottieni 9 punti. Se avessi sconfitto 56 nemici, quanti punti avresti guadagnato?

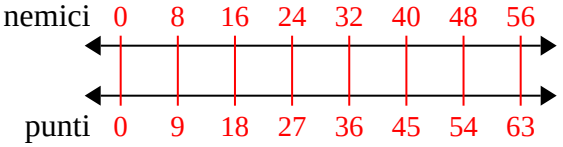

6) Il rapporto tra ragazzi e ragazze al parco era 6 su 2. Se c'erano 60 maschi, quante femmine c'erano?

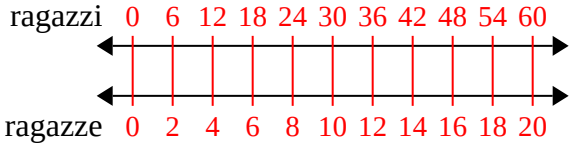

7) Una scatola di caramelle conteneva 2 pezzi di ciliegia per ogni 6 pezzi di limone. Se la scatola avesse 36 pezzi di limone, quanti pezzi di ciliegia ci sarebbero?

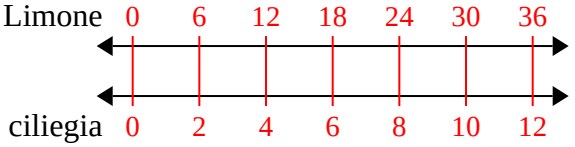

8) Un costruttore potrebbe ottenere 2 fogli di cartongesso per $9. Se avesse comprato fogli 20, quanti soldi avrebbe speso?

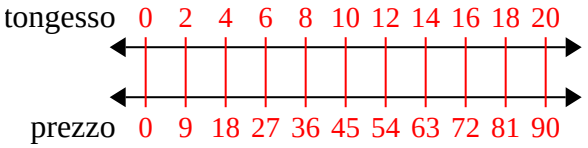

Risposte

1. 28
2. 4
3. 12
4. 20
5. 63
6. 20
7. 12
8. 90

1-8	88	75	63	50	38	25	13	0