Trova i rapporti (graficamente)

Nome:

Risolvi ogni problema.

Es) Qual è il rapporto tra triangoli e cerchi?

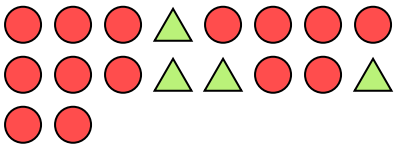

1) Qual è il rapporto tra moons e pentagoni?



2) Qual è il rapporto tra cerchi e stelle?

3) Qual è il rapporto tra quadrati e triangoli?

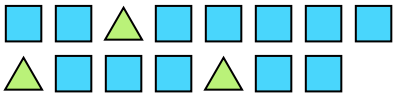

4) Qual è il rapporto tra triangoli e pentagoni?

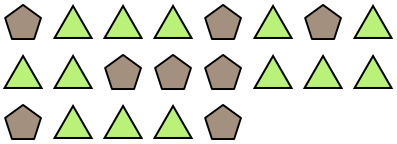

5) Qual è il rapporto tra triangoli e hearts?

6) Qual è il rapporto tra moons e cerchi?

7) Qual è il rapporto tra cerchi e moons?



8) Qual è il rapporto tra moons e stelle?

9) Qual è il rapporto tra stelle e pentagoni?



10) Qual è il rapporto tra cerchi e moons?



11) Qual è il rapporto tra pentagoni e moons?

Risposte

Es. 4:14

1. _____
2. _____
3. _____
4. _____
5. _____
6. _____
7. _____
8. _____
9. _____
10. _____
11. _____

1-10	91	82	73	64	55	45	36	27	18	9
11	0									

Trova i rapporti (graficamente) Nome: **Soluzioni**

Risolvi ogni problema.

Es) Qual è il rapporto tra triangoli e cerchi?

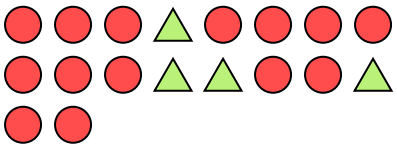

1) Qual è il rapporto tra moons e pentagoni?



2) Qual è il rapporto tra cerchi e stelle?

3) Qual è il rapporto tra quadrati e triangoli?

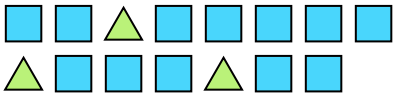

4) Qual è il rapporto tra triangoli e pentagoni?

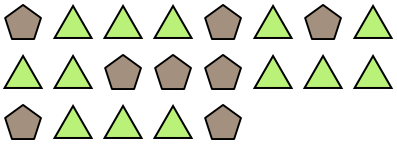

5) Qual è il rapporto tra triangoli e hearts?

6) Qual è il rapporto tra moons e cerchi?

7) Qual è il rapporto tra cerchi e moons?



8) Qual è il rapporto tra moons e stelle?

9) Qual è il rapporto tra stelle e pentagoni?



10) Qual è il rapporto tra cerchi e moons?



11) Qual è il rapporto tra pentagoni e moons?

Risposte

Es. 4:14
1. 15:8
2. 9:7
3. 12:3
4. 13:8
5. 4:10
6. 5:4
7. 11:12
8. 7:5
9. 6:13
10. 8:15
11. 2:3

1-10	91	82	73	64	55	45	36	27	18	9
11	0									