Interpretazione degli istogrammi Nome:

Usa gli istogrammi mostrati per rispondere a ogni domanda.

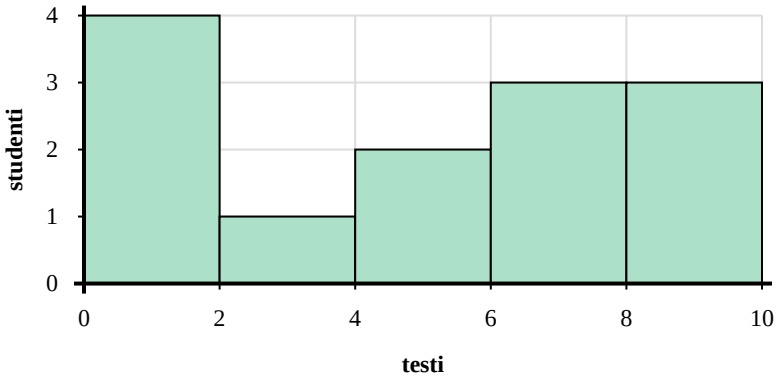

1) Quanti studenti sono rappresentati in questo istogramma?

2) La maggior parte degli studenti ha inviato testi tra _____ e _____.

3) Quanti studenti hanno inviato tra i testi 8 e 10?

4) Se uno studente inviasse messaggi 6 a quale barra verrebbe aggiunto?

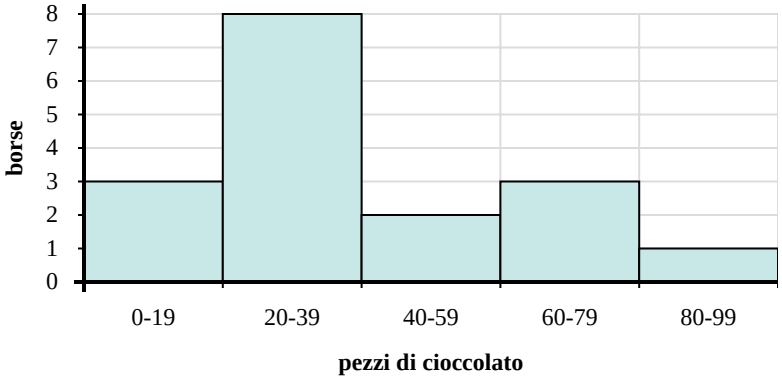

5) La maggior parte delle borse conteneva tra _____ e _____ pezzi di cioccolato.

6) Quanti sacchetti avevano tra 40 e 60 pezzi di cioccolato?

7) Se una borsa contenesse 69 pezzi di cioccolato, a quale tavoletta verrebbe aggiunta?

8) Quanti sacchi di trail mix sono rappresentati in questo istogramma?

Risposte

1. _____
2. _____ _____
3. _____
4. _____
5. _____ _____
6. _____
7. _____
8. _____

1-8	88	75	63	50	38	25	13	0

Usa gli istogrammi mostrati per rispondere a ogni domanda.

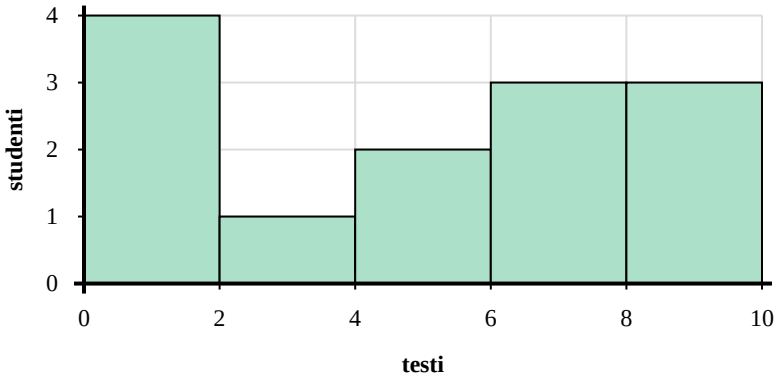

1) Quanti studenti sono rappresentati in questo istogramma?

2) La maggior parte degli studenti ha inviato testi tra _____ e _____.

3) Quanti studenti hanno inviato tra i testi 8 e 10?

4) Se uno studente inviasse messaggi 6 a quale barra verrebbe aggiunto?

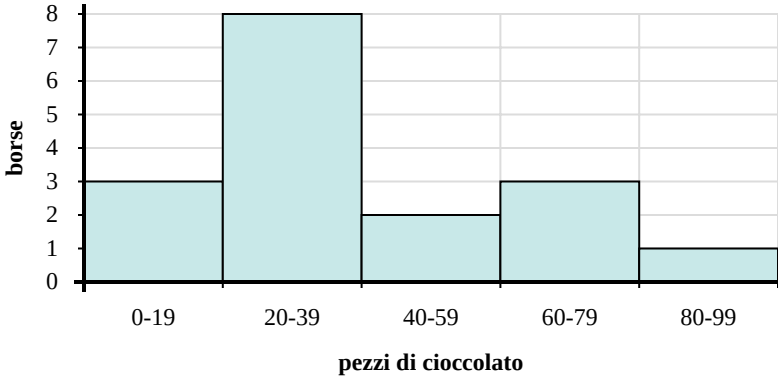

5) La maggior parte delle borse conteneva tra _____ e _____ pezzi di cioccolato.

6) Quanti sacchetti avevano tra 40 e 60 pezzi di cioccolato?

7) Se una borsa contenesse 69 pezzi di cioccolato, a quale tavoletta verrebbe aggiunta?

8) Quanti sacchi di trail mix sono rappresentati in questo istogramma?

Risposte

1. **13**
2. **0** **2**
3. **3**
4. **4**
5. **20** **40**
6. **2**
7. **4**
8. **17**

1-8	88	75	63	50	38	25	13	0