Leggere un grafico a barre

Nome:

Risolvi ogni problema.

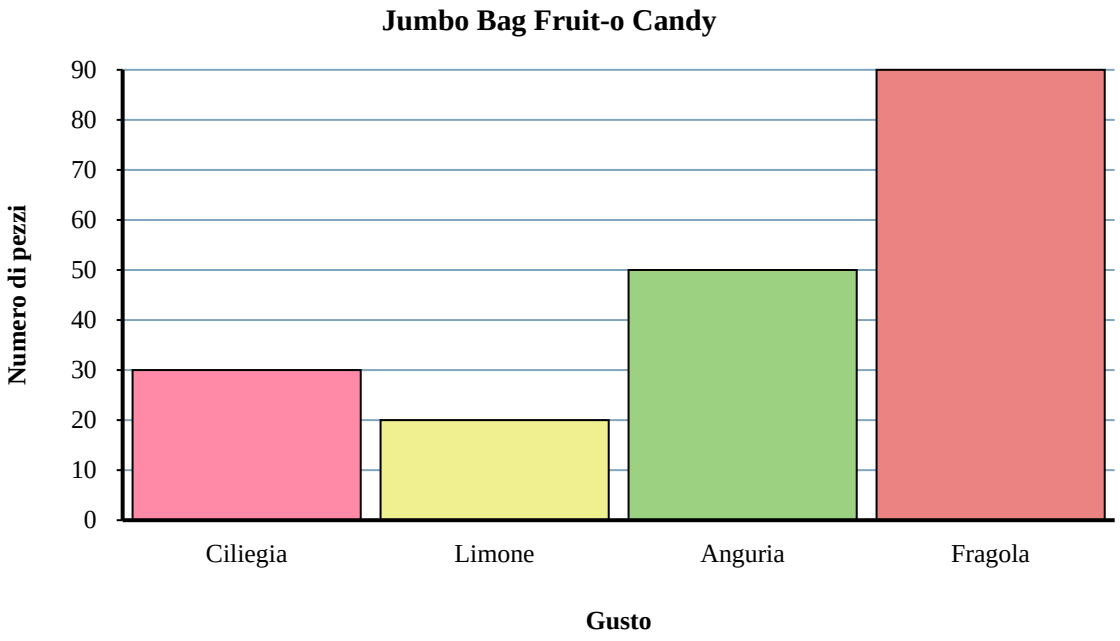

1) Quanti pezzi anguria c'erano in più rispetto a pezzi ciliegia?

2) Qual è il numero combinato di anguria e fragola pezzi?

3) Quanti pezzi c'erano in totale nella scatola?

4) Quale gusto aveva il minor numero di pezzi nella borsa?

5) C'erano meno pezzi ciliegia o meno pezzi Limone?

6) Quale gusto aveva esattamente 30 pezzi nella borsa?

7) C'erano più pezzi ciliegia o pezzi fragola?

8) Quanti pezzi Limone in meno c'erano rispetto a pezzi anguria?

9) Quanti pezzi erano anguria?

10) Qual è la differenza tra il numero di pezzi Limone e il numero di pezzi fragola?

Risposte

1. _____
2. _____
3. _____
4. _____
5. _____
6. _____
7. _____
8. _____
9. _____
10. _____

1-10	90	80	70	60	50	40	30	20	10	0

Leggere un grafico a barre

Nome: **Soluzioni**

Risolvi ogni problema.

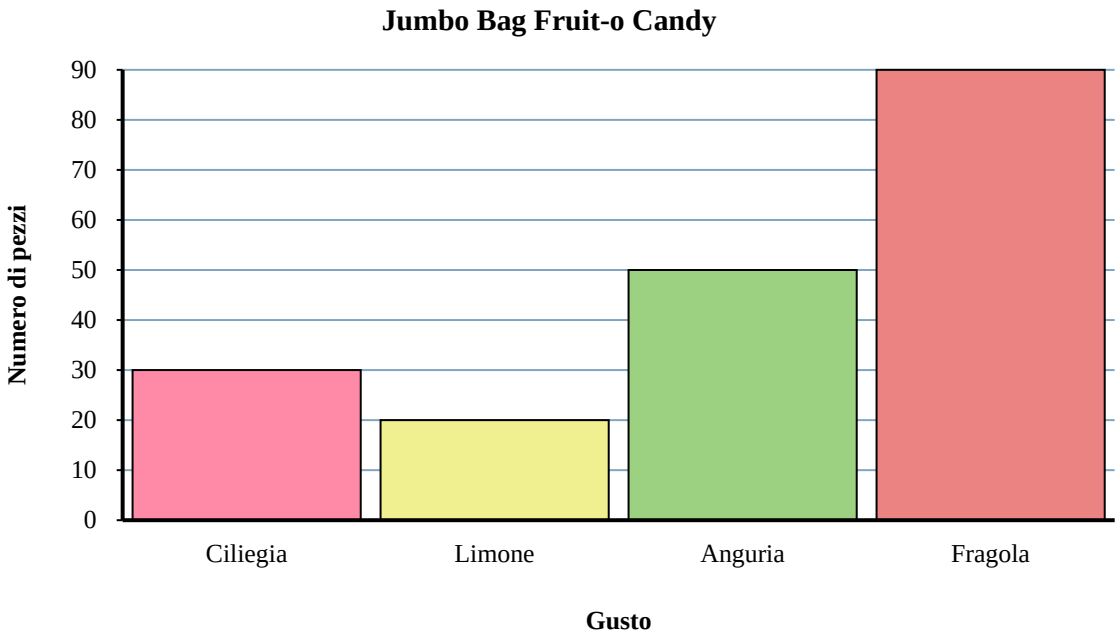

1) Quanti pezzi anguria c'erano in più rispetto a pezzi ciliegia?

2) Qual è il numero combinato di anguria e fragola pezzi?

3) Quanti pezzi c'erano in totale nella scatola?

4) Quale gusto aveva il minor numero di pezzi nella borsa?

5) C'erano meno pezzi ciliegia o meno pezzi Limone?

6) Quale gusto aveva esattamente 30 pezzi nella borsa?

7) C'erano più pezzi ciliegia o pezzi fragola?

8) Quanti pezzi Limone in meno c'erano rispetto a pezzi anguria?

9) Quanti pezzi erano anguria?

10) Qual è la differenza tra il numero di pezzi Limone e il numero di pezzi fragola?

Risposte

1. **20**
2. **140**
3. **190**
4. **Limone**
5. **Limone**
6. **ciliegia**
7. **fragola**
8. **30**
9. **50**
10. **70**

1-10	90	80	70	60	50	40	30	20	10	0

Risolvi ogni problema.

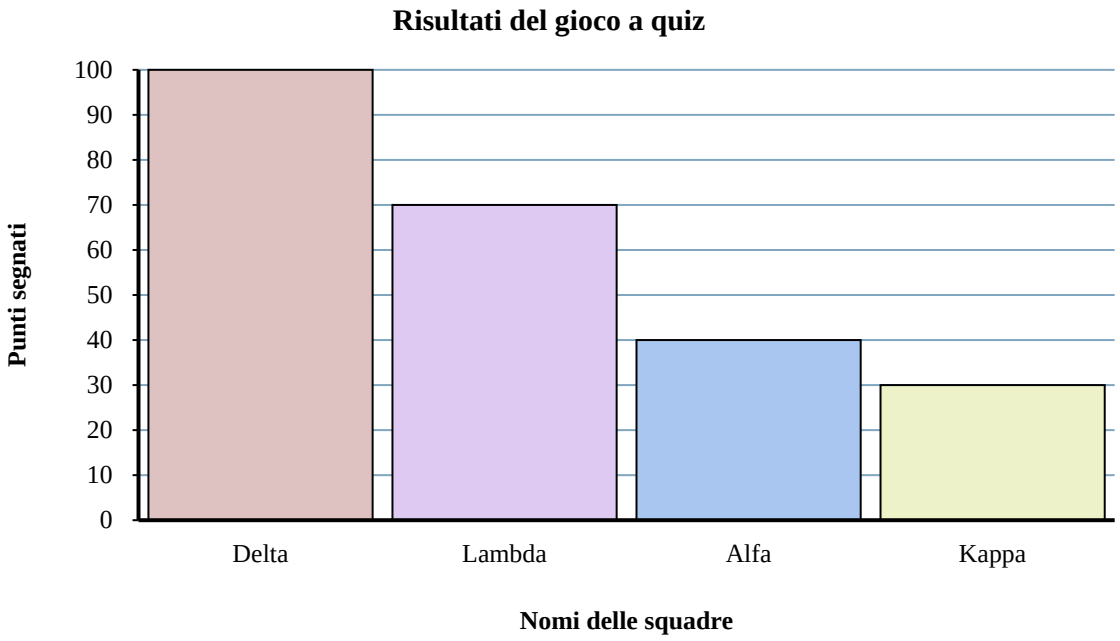

1) Quale squadra ha segnato più punti?

2) Quale squadra ha segnato meno punti?

3) La squadra Lambda o la squadra Alfa ha segnato meno punti?

4) Qual è il numero totale di punti guadagnati nel gioco?

5) La squadra Kappa o la squadra Lambda ha ottenuto più punti?

6) Quanti punti ha segnato la squadra Delta?

7) Qual è la somma dei punti segnati da Kappa e Alfa?

8) Quanti punti in meno ha segnato la squadra Kappa rispetto alla squadra Delta?

9) Quale squadra ha segnato 30 punti?

10) Qual è la differenza tra il numero di punti Delta ottenuti e il numero di Alfa ottenuti?

Risposte

1. _____
2. _____
3. _____
4. _____
5. _____
6. _____
7. _____
8. _____
9. _____
10. _____

1-10	90	80	70	60	50	40	30	20	10	0

Leggere un grafico a barre

Nome: **Soluzioni**

Risolvi ogni problema.

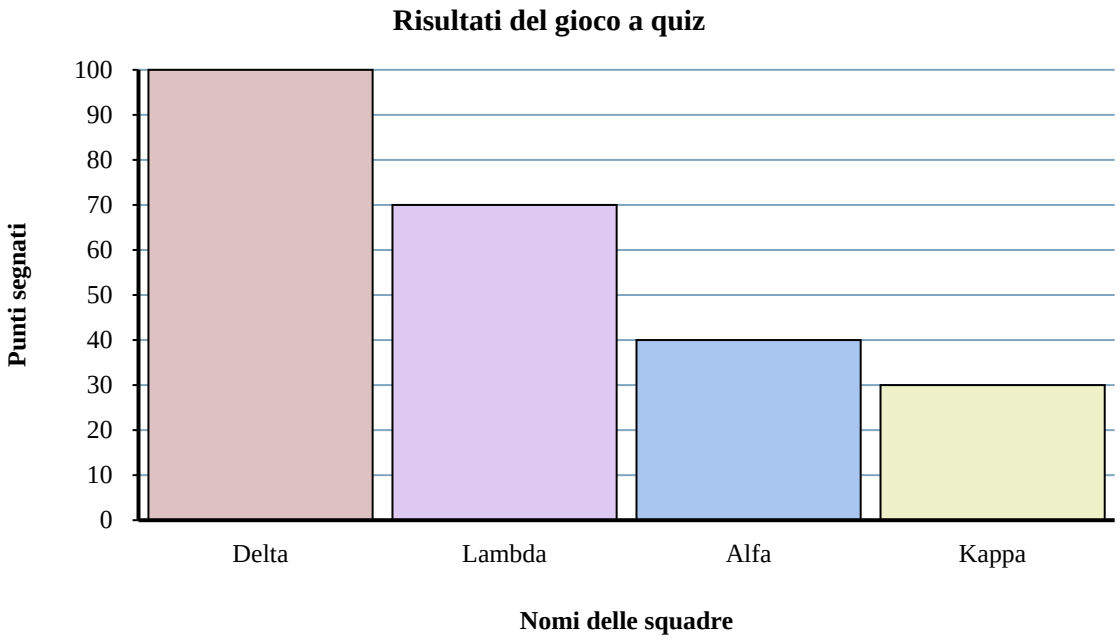

1) Quale squadra ha segnato più punti?

2) Quale squadra ha segnato meno punti?

3) La squadra Lambda o la squadra Alfa ha segnato meno punti?

4) Qual è il numero totale di punti guadagnati nel gioco?

5) La squadra Kappa o la squadra Lambda ha ottenuto più punti?

6) Quanti punti ha segnato la squadra Delta?

7) Qual è la somma dei punti segnati da Kappa e Alfa?

8) Quanti punti in meno ha segnato la squadra Kappa rispetto alla squadra Delta?

9) Quale squadra ha segnato 30 punti?

10) Qual è la differenza tra il numero di punti Delta ottenuti e il numero di Alfa ottenuti?

Risposte

1. **Delta**
2. **Kappa**
3. **Alfa**
4. **240**
5. **Lambda**
6. **100**
7. **70**
8. **70**
9. **Kappa**
10. **60**

1-10	90	80	70	60	50	40	30	20	10	0

Leggere un grafico a barre

Nome:

Risolvi ogni problema.

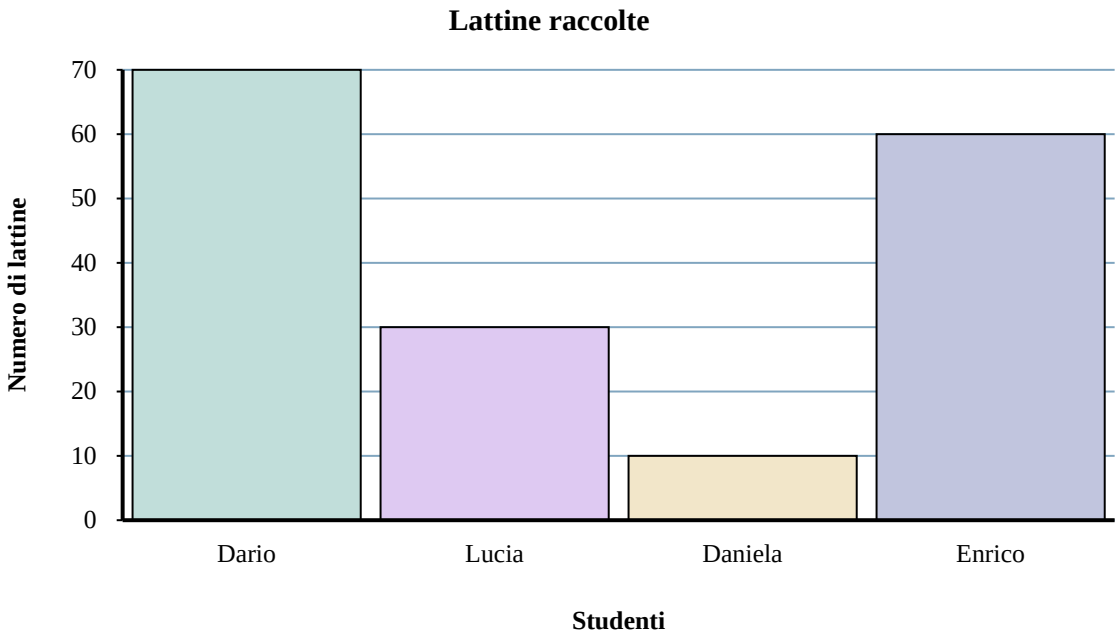

1) Chi ha raccolto più lattine?

2) Qual è il numero combinato di lattine Dario raccolte e Lucia raccolte?

3) Chi ha raccolto esattamente le lattine 10?

4) Quante lattine in meno ha raccolto Lucia rispetto a Enrico?

5) Quante lattine in più ha raccolto Dario rispetto a Daniela?

6) Quante lattine ha raccolto Lucia?

7) Chi ha raccolto meno lattine?

8) Qual è la differenza tra il numero di lattine Dario raccolte e il numero Enrico raccolte?

9) Quante lattine in totale hanno raccolto tutti gli studenti?

10) Chi ha raccolto meno lattine? Lucia o Daniela?

Risposte

1. _____
2. _____
3. _____
4. _____
5. _____
6. _____
7. _____
8. _____
9. _____
10. _____

1-10	90	80	70	60	50	40	30	20	10	0

Leggere un grafico a barre

Nome: **Soluzioni**

Risolvi ogni problema.

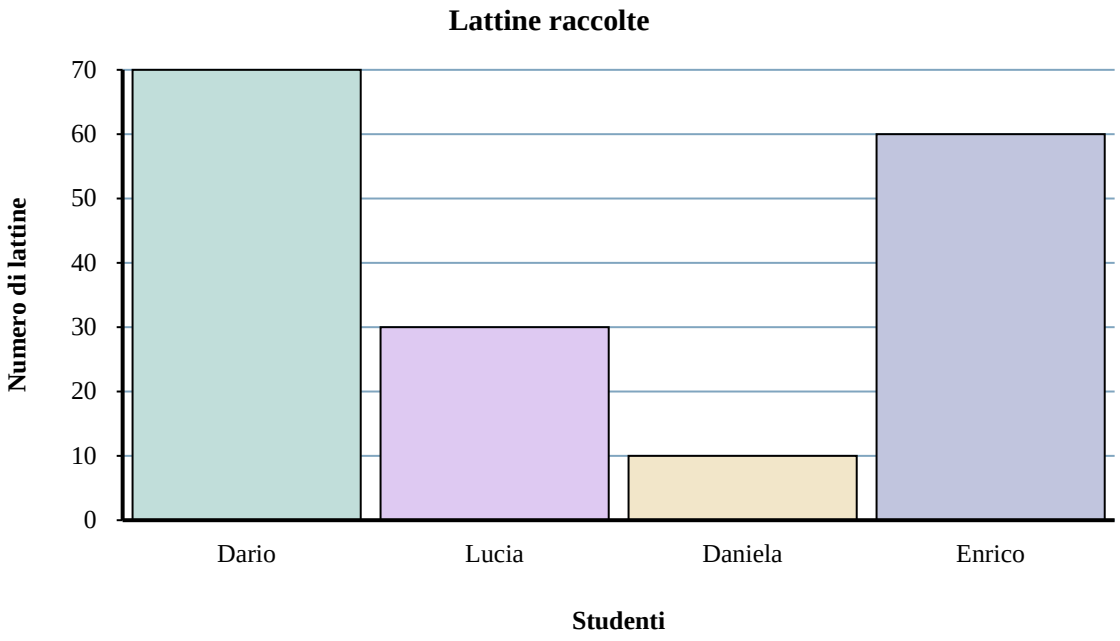

1) Chi ha raccolto più lattine?

2) Qual è il numero combinato di lattine Dario raccolte e Lucia raccolte?

3) Chi ha raccolto esattamente le lattine 10?

4) Quante lattine in meno ha raccolto Lucia rispetto a Enrico?

5) Quante lattine in più ha raccolto Dario rispetto a Daniela?

6) Quante lattine ha raccolto Lucia?

7) Chi ha raccolto meno lattine?

8) Qual è la differenza tra il numero di lattine Dario raccolte e il numero Enrico raccolte?

9) Quante lattine in totale hanno raccolto tutti gli studenti?

10) Chi ha raccolto meno lattine? Lucia o Daniela?

Risposte

1. **Dario**
2. **100**
3. **Daniela**
4. **30**
5. **60**
6. **30**
7. **Daniela**
8. **10**
9. **170**
10. **Daniela**

1-10	90	80	70	60	50	40	30	20	10	0

Leggere un grafico a barre

Nome:

Risolvi ogni problema.

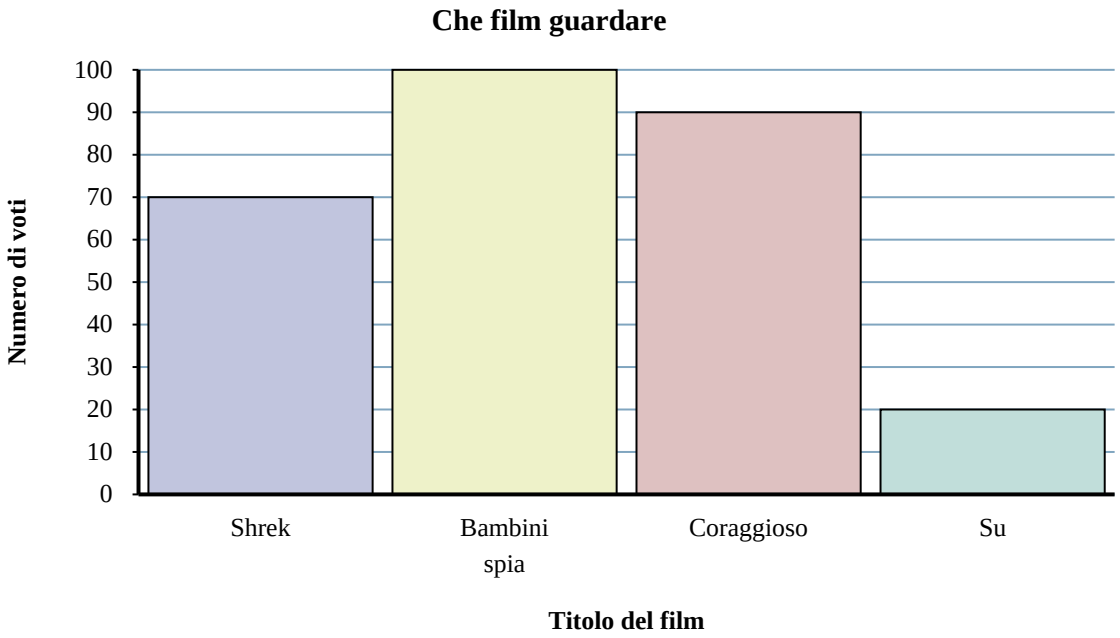

1) Quante persone hanno votato per Shrek?

2) Quale film ha ricevuto più voti?

3) Quale film ha ricevuto meno voti?

4) Quanti voti in meno ha ricevuto Su rispetto a Bambini spia?

5) Quale film ha ricevuto esattamente 20 voti?

6) Meno studenti hanno votato per Coraggioso o per Bambini spia?

7) Qual è la differenza tra il numero di persone che hanno votato per Coraggioso e il numero che ha votato per Shrek?

8) Qual è il numero totale di studenti che hanno votato?

9) Quanti voti in più ha ricevuto Bambini spia rispetto a Shrek?

10) Qual è il numero combinato di persone che hanno votato per Su e Shrek?

Risposte

1. _____
2. _____
3. _____
4. _____
5. _____
6. _____
7. _____
8. _____
9. _____
10. _____

1-10	90	80	70	60	50	40	30	20	10	0

Leggere un grafico a barre

Nome: **Soluzioni**

Risolvi ogni problema.

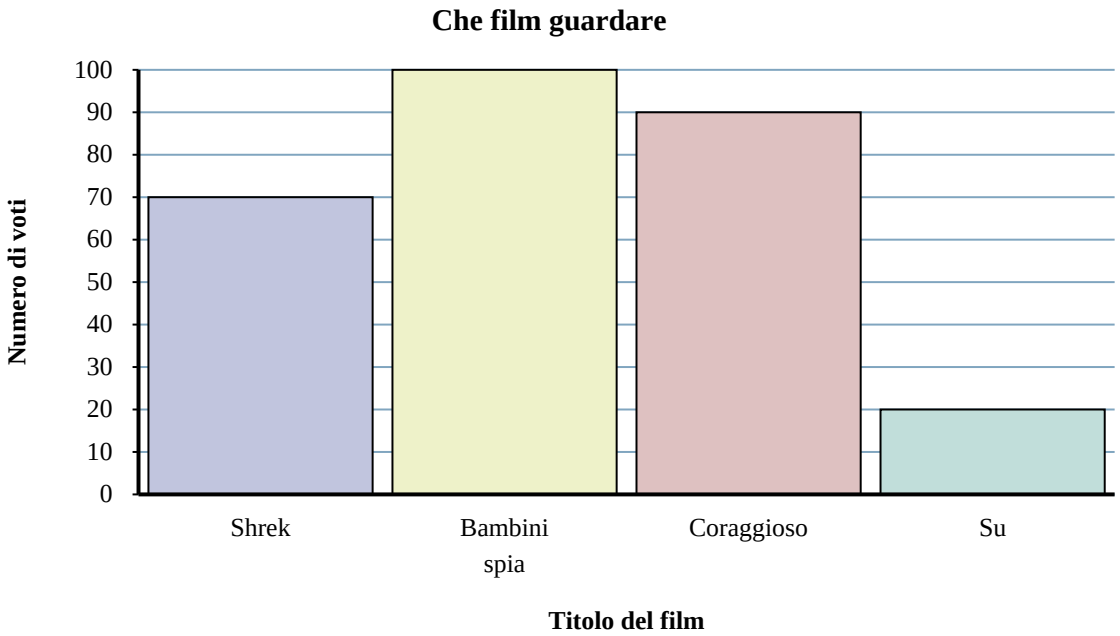

1) Quante persone hanno votato per Shrek?

2) Quale film ha ricevuto più voti?

3) Quale film ha ricevuto meno voti?

4) Quanti voti in meno ha ricevuto Su rispetto a Bambini spia?

5) Quale film ha ricevuto esattamente 20 voti?

6) Meno studenti hanno votato per Coraggioso o per Bambini spia?

7) Qual è la differenza tra il numero di persone che hanno votato per Coraggioso e il numero che ha votato per Shrek?

8) Qual è il numero totale di studenti che hanno votato?

9) Quanti voti in più ha ricevuto Bambini spia rispetto a Shrek?

10) Qual è il numero combinato di persone che hanno votato per Su e Shrek?

Risposte

1. **70**
2. **Bambini spia**
3. **Su**
4. **80**
5. **Su**
6. **Coraggioso**
7. **20**
8. **280**
9. **30**
10. **90**

1-10	90	80	70	60	50	40	30	20	10	0

Leggere un grafico a barre

Nome:

Risolvi ogni problema.

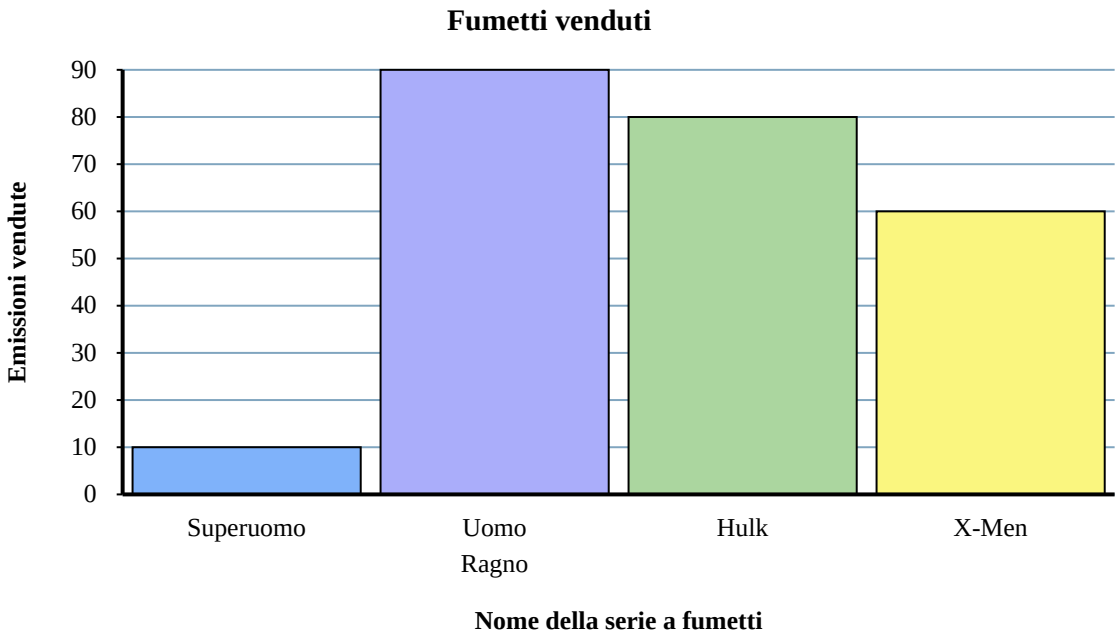

1) Qual è la differenza tra il numero di emissioni Uomo Ragno vendute e il numero di emissioni Superuomo vendute?

2) Quanti numeri di Superuomo sono stati venduti?

3) Quale serie di fumetti ha venduto esattamente 60 numeri?

4) Quale serie di fumetti ha venduto di più, Hulk o X-Men?

5) Qual è il numero totale di numeri venduti per tutti i fumetti?

6) Quante altre edizioni di Uomo Ragno sono state vendute rispetto a quelle di Hulk?

7) Quante edizioni in meno di Superuomo sono state vendute rispetto a quelle di X-Men?

8) Qual è il numero combinato di numeri Superuomo e Hulk venduti?

9) Quale serie di fumetti ha venduto meno numeri?

10) Quale serie a fumetti ha venduto più numeri?

Risposte

1. _____
2. _____
3. _____
4. _____
5. _____
6. _____
7. _____
8. _____
9. _____
10. _____

1-10	90	80	70	60	50	40	30	20	10	0

Leggere un grafico a barre

Nome: **Soluzioni**

Risolvi ogni problema.

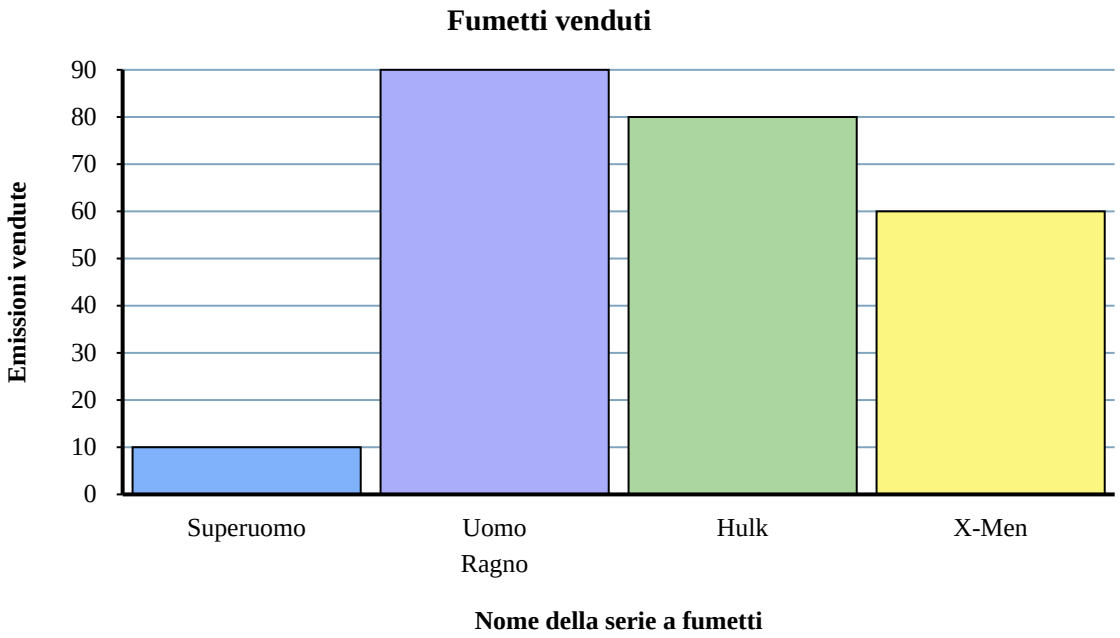

1) Qual è la differenza tra il numero di emissioni Uomo Ragno vendute e il numero di emissioni Superuomo vendute?

2) Quanti numeri di Superuomo sono stati venduti?

3) Quale serie di fumetti ha venduto esattamente 60 numeri?

4) Quale serie di fumetti ha venduto di più, Hulk o X-Men?

5) Qual è il numero totale di numeri venduti per tutti i fumetti?

6) Quante altre edizioni di Uomo Ragno sono state vendute rispetto a quelle di Hulk?

7) Quante edizioni in meno di Superuomo sono state vendute rispetto a quelle di X-Men?

8) Qual è il numero combinato di numeri Superuomo e Hulk venduti?

9) Quale serie di fumetti ha venduto meno numeri?

10) Quale serie a fumetti ha venduto più numeri?

Risposte

1. **80**
2. **10**
3. **X-Men**
4. **Hulk**
5. **240**
6. **10**
7. **50**
8. **90**
9. **Superuomo**
10. **Uomo Ragno**

1-10	90	80	70	60	50	40	30	20	10	0

Leggere un grafico a barre

Nome:

Risolvi ogni problema.

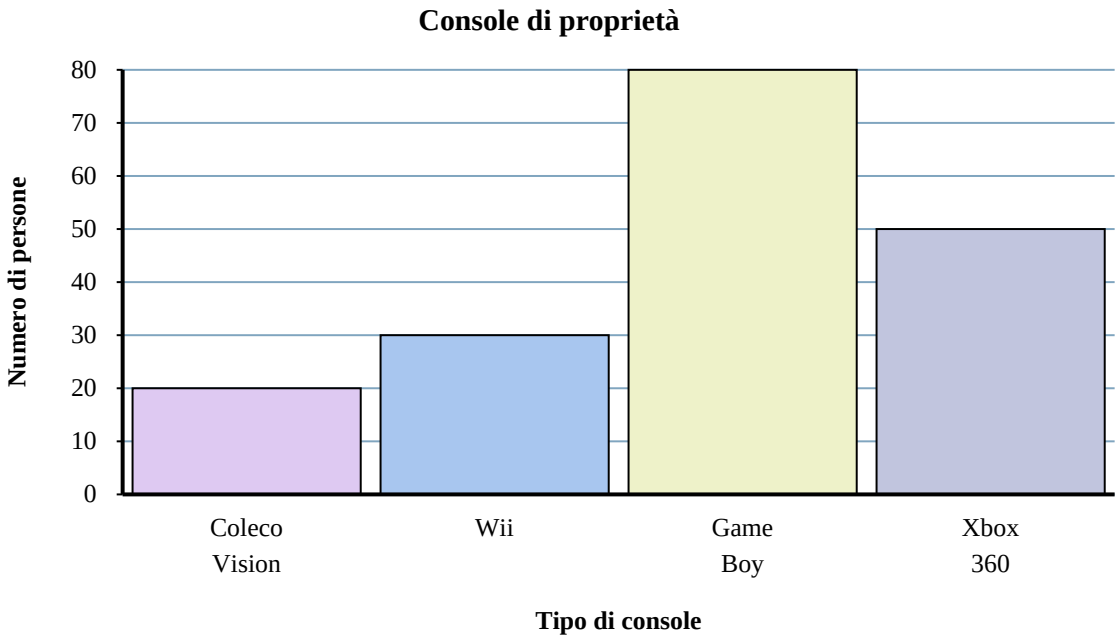

1) Qual è il numero combinato di Xbox 360 e Gameboy posseduti?

2) Quale console possedeva esattamente 30 persone?

3) Quante persone in più possedevano un Game Boy di quante possedessero un Coleco Vision?

4) Qual è la differenza tra il numero di persone che possedevano un Xbox 360 e il numero che possedeva un Wii?

5) Quale console possedeva il minor numero di persone?

6) Quante persone in meno possedevano un Coleco Vision rispetto a un Wii?

7) Quante persone possedevano un Xbox 360?

8) Quante console in totale possedevano le persone?

9) Meno persone possedevano un Xbox 360 o un Coleco Vision?

10) Più persone possedevano un Gameboy o un Wiis?

Risposte

1. _____
2. _____
3. _____
4. _____
5. _____
6. _____
7. _____
8. _____
9. _____
10. _____

1-10	90	80	70	60	50	40	30	20	10	0

Leggere un grafico a barre

Nome: **Soluzioni**

Risolvi ogni problema.

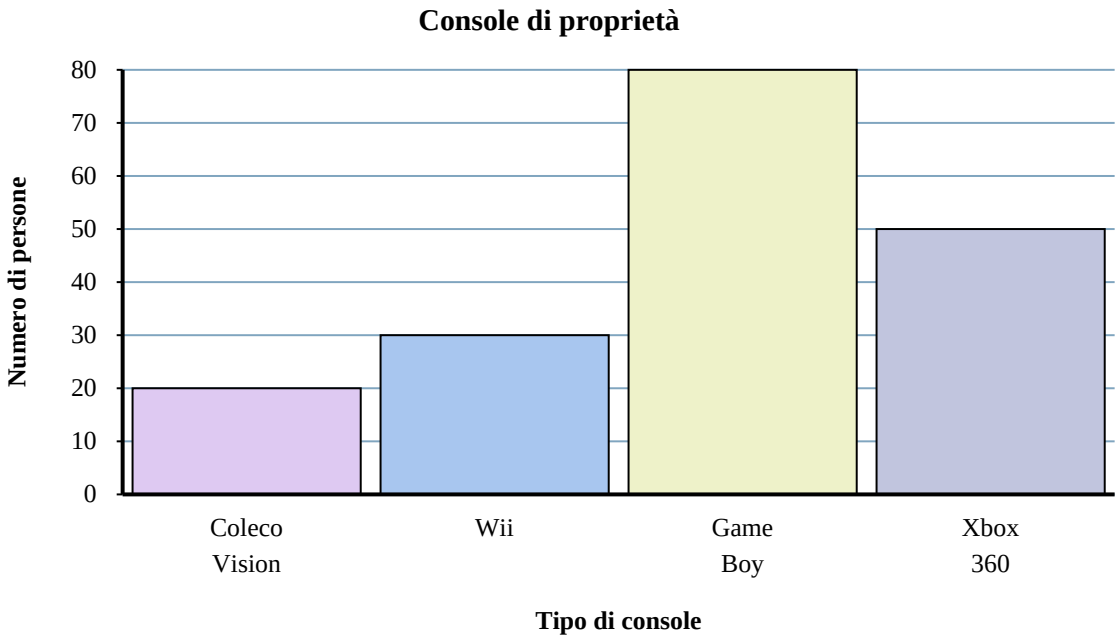

1) Qual è il numero combinato di Xbox 360 e Gameboy posseduti?

2) Quale console possedeva esattamente 30 persone?

3) Quante persone in più possedevano un Game Boy di quante possedessero un Coleco Vision?

4) Qual è la differenza tra il numero di persone che possedevano un Xbox 360 e il numero che possedeva un Wii?

5) Quale console possedeva il minor numero di persone?

6) Quante persone in meno possedevano un Coleco Vision rispetto a un Wii?

7) Quante persone possedevano un Xbox 360?

8) Quante console in totale possedevano le persone?

9) Meno persone possedevano un Xbox 360 o un Coleco Vision?

10) Più persone possedevano un Gameboy o un Wiis?

Risposte

1. **130**
2. **Wii**
3. **60**
4. **20**
5. **Coleco Vision**
6. **10**
7. **50**
8. **180**
9. **Coleco Vision**
10. **Game Boy**

1-10	90	80	70	60	50	40	30	20	10	0

Leggere un grafico a barre

Nome:

Risolvi ogni problema.

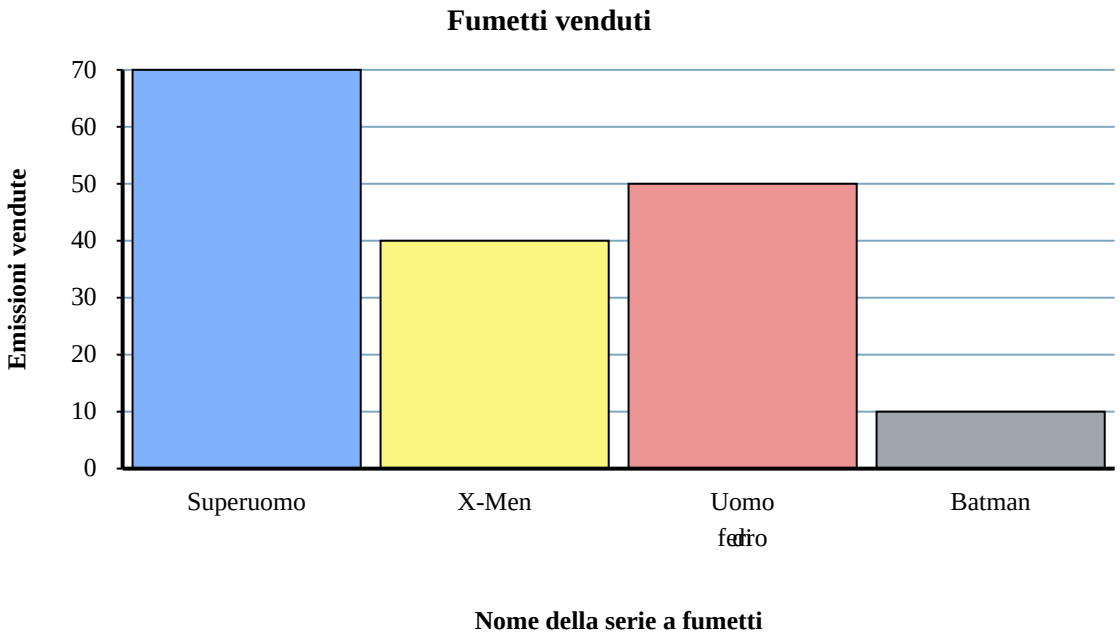

1) Quante edizioni in meno di Batman sono state vendute rispetto a quelle di Superuomo?

2) Quante altre edizioni di Uomo di ferro sono state vendute rispetto a quelle di X-Men?

3) Quale serie a fumetti ha venduto più numeri?

4) Quale serie di fumetti ha venduto di più, X-Men o Superuomo?

5) Qual è la differenza tra il numero di emissioni Batman vendute e il numero di emissioni Uomo di ferro vendute?

6) Qual è il numero combinato di numeri X-Men e Batman venduti?

7) Quale ha venduto di meno, numeri di Uomo di ferro o numeri di Superuomo?

8) Qual è il numero totale di numeri venduti per tutti i fumetti?

9) Quanti numeri di Uomo di ferro sono stati venduti?

10) Quale serie di fumetti ha venduto esattamente 10 numeri?

Risposte

1. _____
2. _____
3. _____
4. _____
5. _____
6. _____
7. _____
8. _____
9. _____
10. _____

1-10	90	80	70	60	50	40	30	20	10	0

Leggere un grafico a barre

Nome: **Soluzioni**

Risolvi ogni problema.

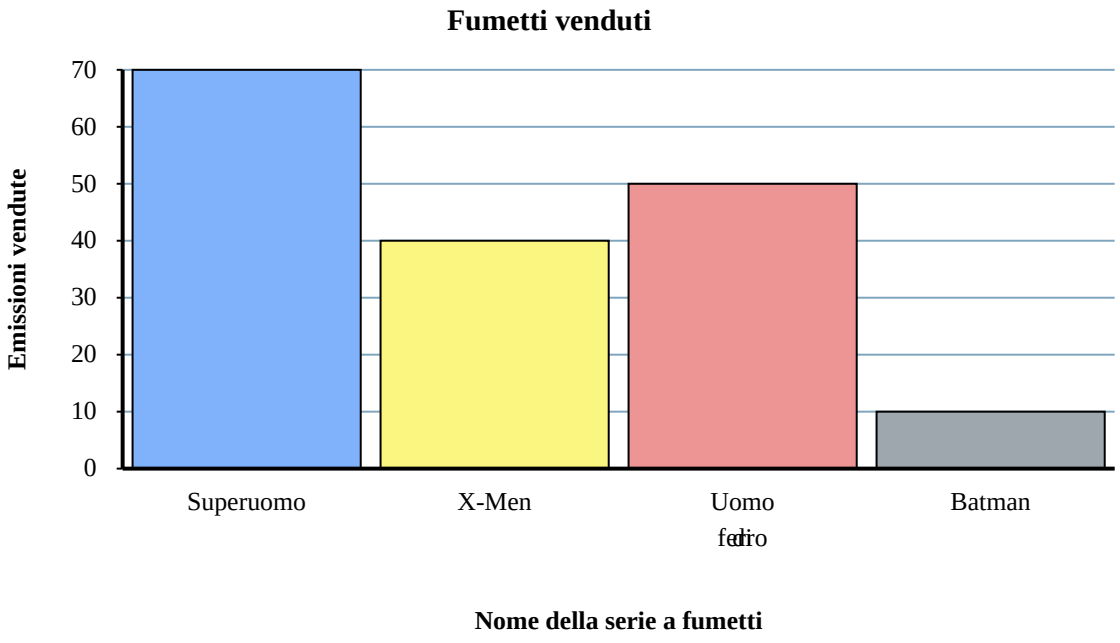

1) Quante edizioni in meno di Batman sono state vendute rispetto a quelle di Superuomo?

2) Quante altre edizioni di Uomo di ferro sono state vendute rispetto a quelle di X-Men?

3) Quale serie a fumetti ha venduto più numeri?

4) Quale serie di fumetti ha venduto di più, X-Men o Superuomo?

5) Qual è la differenza tra il numero di emissioni Batman vendute e il numero di emissioni Uomo di ferro vendute?

6) Qual è il numero combinato di numeri X-Men e Batman venduti?

7) Quale ha venduto di meno, numeri di Uomo di ferro o numeri di Superuomo?

8) Qual è il numero totale di numeri venduti per tutti i fumetti?

9) Quanti numeri di Uomo di ferro sono stati venduti?

10) Quale serie di fumetti ha venduto esattamente 10 numeri?

Risposte

1. **60**
2. **10**
3. **Superuomo**
4. **Superuomo**
5. **40**
6. **50**
7. **Uomo di ferro**
8. **170**
9. **50**
10. **Batman**

1-10	90	80	70	60	50	40	30	20	10	0

Leggere un grafico a barre

Nome:

Risolvi ogni problema.

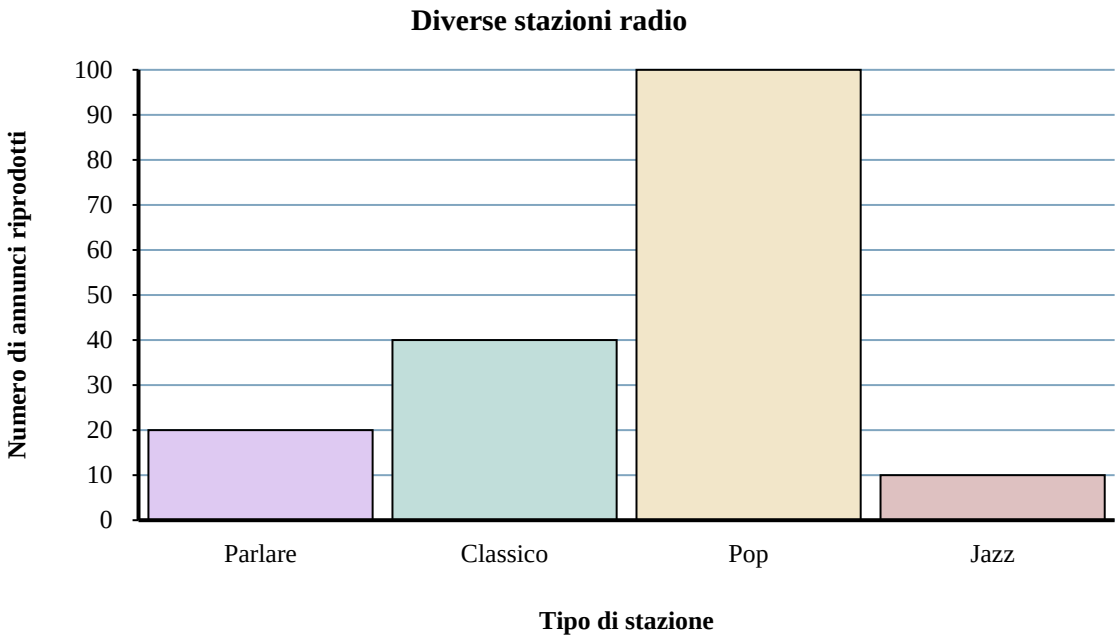

1) Quanti annunci in più aveva la stazione classico rispetto alla stazione parlare?

2) Quanti annunci in meno aveva la stazione jazz rispetto alla stazione parlare?

3) Qual è il numero totale di annunci su tutte le stazioni?

4) Qual è il numero combinato di annunci riprodotti sulla stazione jazz e sulla stazione classico?

5) Quale stazione ha avuto più annunci?

6) Quanti annunci c'erano sulla stazione pop?

7) C'erano più annunci sulla stazione pop o sulla stazione classico?

8) Quale stazione aveva esattamente 10 annunci?

9) C'erano meno annunci sulla stazione pop o sulla stazione parlare?

10) Quale stazione aveva il minor numero di annunci?

Risposte

1. _____
2. _____
3. _____
4. _____
5. _____
6. _____
7. _____
8. _____
9. _____
10. _____

1-10	90	80	70	60	50	40	30	20	10	0

Leggere un grafico a barre

Nome: **Soluzioni**

Risolvi ogni problema.

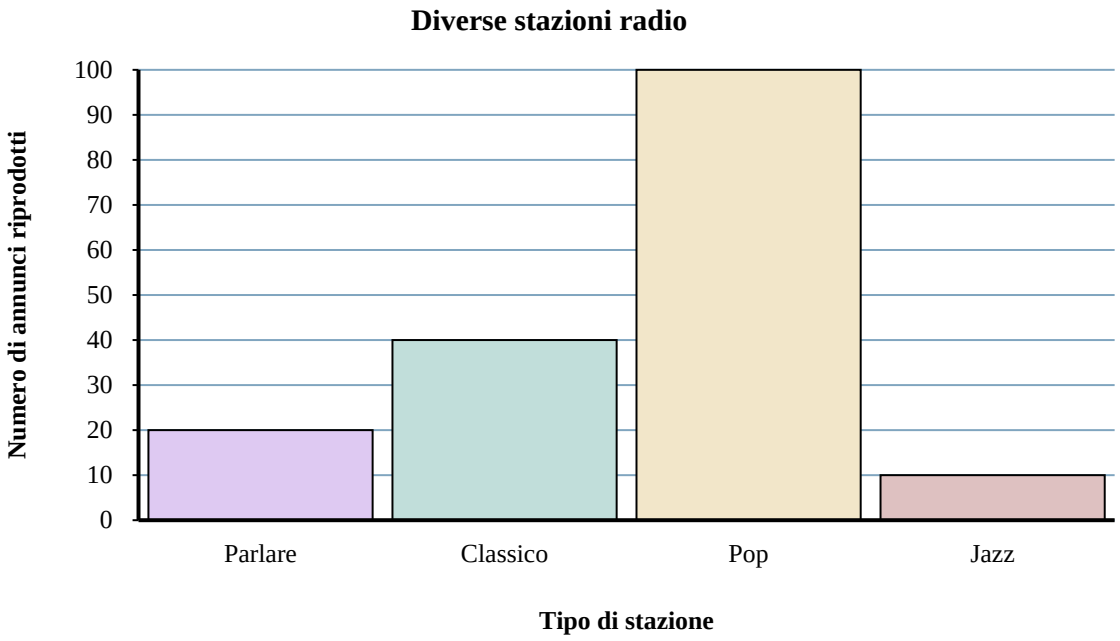

1) Quanti annunci in più aveva la stazione classico rispetto alla stazione parlare?

2) Quanti annunci in meno aveva la stazione jazz rispetto alla stazione parlare?

3) Qual è il numero totale di annunci su tutte le stazioni?

4) Qual è il numero combinato di annunci riprodotti sulla stazione jazz e sulla stazione classico?

5) Quale stazione ha avuto più annunci?

6) Quanti annunci c'erano sulla stazione pop?

7) C'erano più annunci sulla stazione pop o sulla stazione classico?

8) Quale stazione aveva esattamente 10 annunci?

9) C'erano meno annunci sulla stazione pop o sulla stazione parlare?

10) Quale stazione aveva il minor numero di annunci?

Risposte

1. **20**
2. **10**
3. **170**
4. **50**
5. **pop**
6. **100**
7. **pop**
8. **jazz**
9. **parlare**
10. **jazz**

1-10	90	80	70	60	50	40	30	20	10	0

Leggere un grafico a barre

Nome:

Risolvi ogni problema.

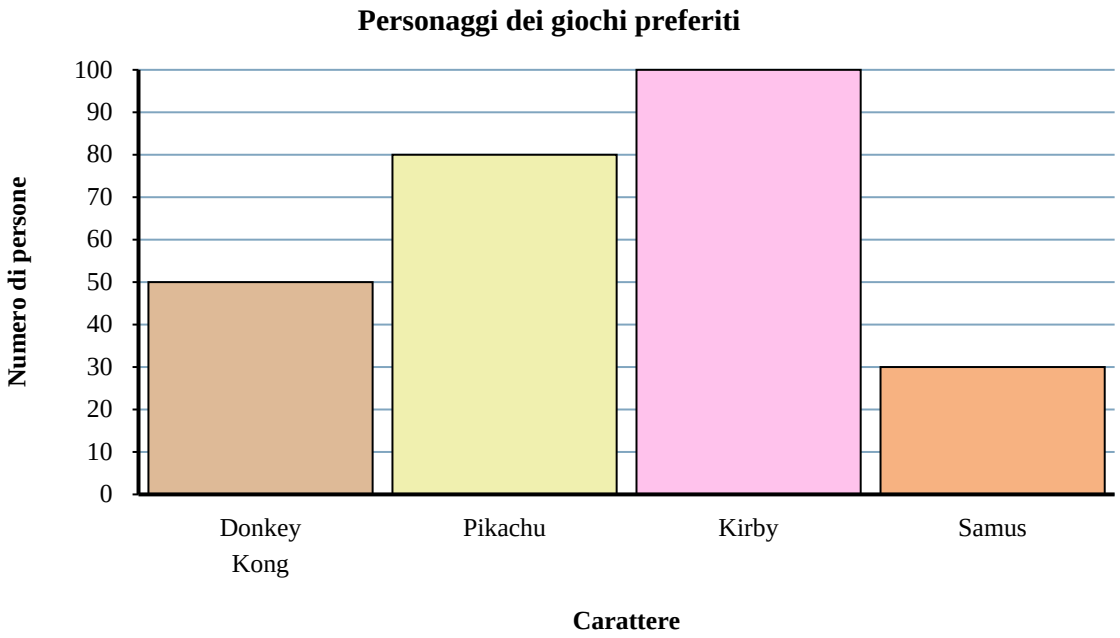

1) Quale personaggio ha detto che il minor numero di persone è il loro preferito?

2) A più persone è piaciuto Kirby o Samus?

3) A quante persone è piaciuto di più Pikachu?

4) Quante persone in totale hanno risposto al sondaggio?

5) A meno persone è piaciuto Samus o Pikachu?

6) Quante persone in meno hanno apprezzato Samus rispetto a Donkey Kong?

7) Quale personaggio ha detto che il maggior numero di persone è il loro preferito?

8) A quante più persone è piaciuto Pikachu rispetto a Donkey Kong?

9) Qual è la differenza tra il numero di persone a cui è piaciuto Donkey Kong e il numero a cui è piaciuto Kirby?

10) Quale personaggio, secondo le persone di 100 esattamente, era il loro preferito?

Risposte

1. _____
2. _____
3. _____
4. _____
5. _____
6. _____
7. _____
8. _____
9. _____
10. _____

1-10	90	80	70	60	50	40	30	20	10	0

Leggere un grafico a barre

Nome: **Soluzioni**

Risolvi ogni problema.

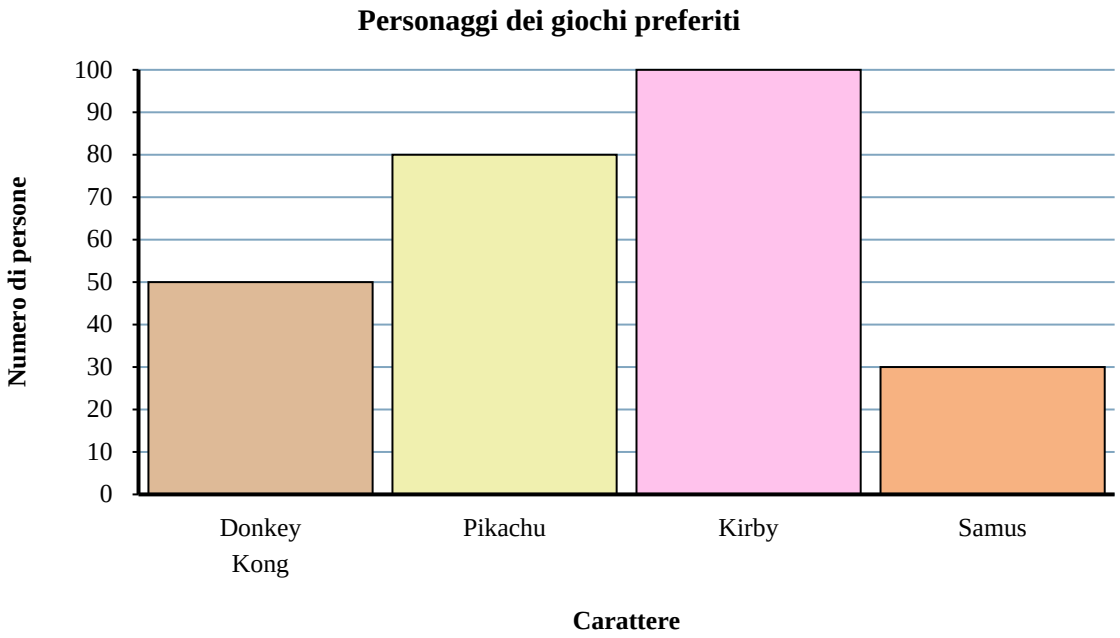

1) Quale personaggio ha detto che il minor numero di persone è il loro preferito?

2) A più persone è piaciuto Kirby o Samus?

3) A quante persone è piaciuto di più Pikachu?

4) Quante persone in totale hanno risposto al sondaggio?

5) A meno persone è piaciuto Samus o Pikachu?

6) Quante persone in meno hanno apprezzato Samus rispetto a Donkey Kong?

7) Quale personaggio ha detto che il maggior numero di persone è il loro preferito?

8) A quante più persone è piaciuto Pikachu rispetto a Donkey Kong?

9) Qual è la differenza tra il numero di persone a cui è piaciuto Donkey Kong e il numero a cui è piaciuto Kirby?

10) Quale personaggio, secondo le persone di 100 esattamente, era il loro preferito?

Risposte

1. **Samus**
2. **Kirby**
3. **80**
4. **260**
5. **Samus**
6. **20**
7. **Kirby**
8. **30**
9. **50**
10. **Kirby**

1-10	90	80	70	60	50	40	30	20	10	0

Leggere un grafico a barre

Nome:

Risolvi ogni problema.

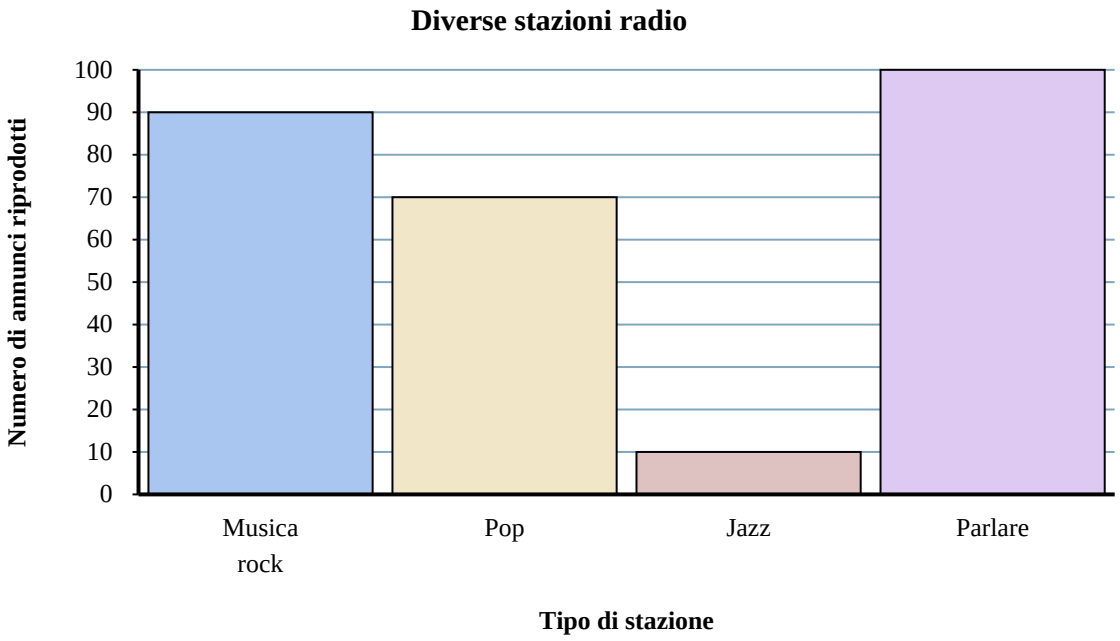

1) C'erano più annunci sulla stazione jazz o sulla stazione parlare?

2) Qual è il numero combinato di annunci riprodotti sulla stazione pop e sulla stazione jazz?

3) Quanti annunci in meno aveva la stazione pop rispetto alla stazione parlare?

4) Quale stazione ha avuto più annunci?

5) Quanti annunci in più aveva la stazione musica rock rispetto alla stazione pop?

6) Qual è la differenza tra il numero di annunci riprodotti sulla stazione musica rock e il numero riprodotto sulla stazione parlare?

7) C'erano meno annunci sulla stazione musica rock o sulla stazione jazz?

8) Quanti annunci c'erano sulla stazione jazz?

9) Quale stazione aveva il minor numero di annunci?

10) Qual è il numero totale di annunci su tutte le stazioni?

Risposte

1. _____
2. _____
3. _____
4. _____
5. _____
6. _____
7. _____
8. _____
9. _____
10. _____

1-10	90	80	70	60	50	40	30	20	10	0

Leggere un grafico a barre

Nome: **Soluzioni**

Risolvi ogni problema.

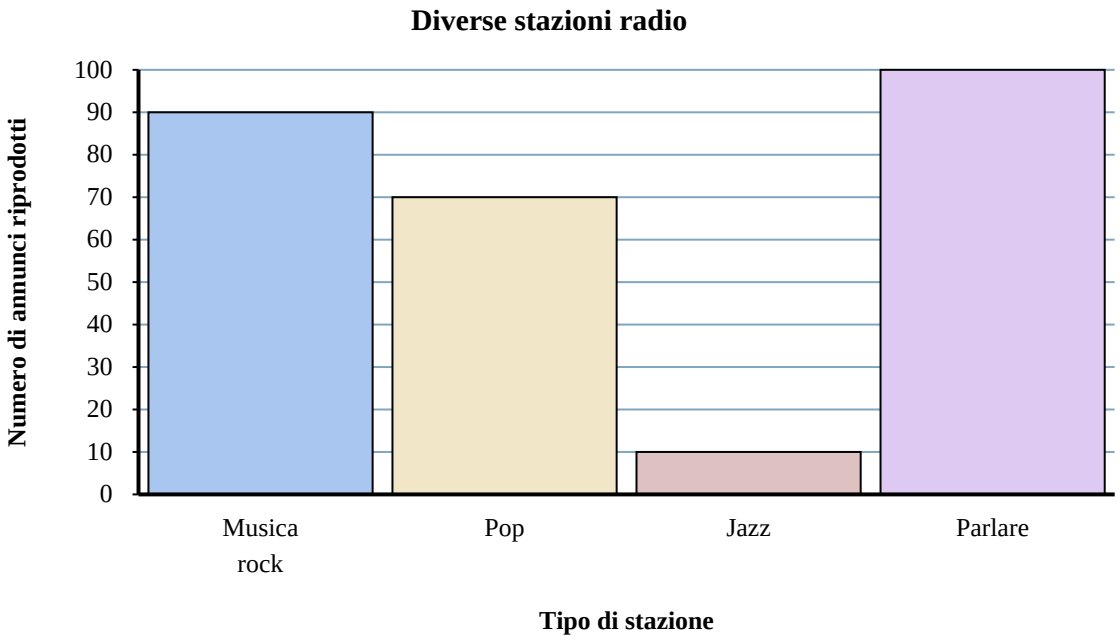

1) C'erano più annunci sulla stazione jazz o sulla stazione parlare?

2) Qual è il numero combinato di annunci riprodotti sulla stazione pop e sulla stazione jazz?

3) Quanti annunci in meno aveva la stazione pop rispetto alla stazione parlare?

4) Quale stazione ha avuto più annunci?

5) Quanti annunci in più aveva la stazione musica rock rispetto alla stazione pop?

6) Qual è la differenza tra il numero di annunci riprodotti sulla stazione musica rock e il numero riprodotto sulla stazione parlare?

7) C'erano meno annunci sulla stazione musica rock o sulla stazione jazz?

8) Quanti annunci c'erano sulla stazione jazz?

9) Quale stazione aveva il minor numero di annunci?

10) Qual è il numero totale di annunci su tutte le stazioni?

Risposte

1. **parlare**
2. **80**
3. **30**
4. **parlare**
5. **20**
6. **10**
7. **jazz**
8. **10**
9. **jazz**
10. **270**

1-10	90	80	70	60	50	40	30	20	10	0