Divisioni visive

Nome:

Usa le forme per risopndere alle domande.

Es) Quanti gruppi di 6 puoi fare con le 18 forme qui sotto?

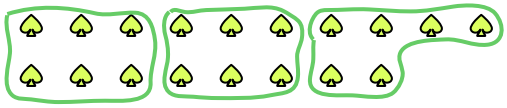

1) Quanti gruppi di 5 puoi fare con le 35 forme qui sotto?



2) Quanti gruppi di 5 puoi fare con le 40 forme qui sotto?



3) Quanti gruppi di 5 puoi fare con le 25 forme qui sotto?



4) Quanti gruppi di 9 puoi fare con le 27 forme qui sotto?

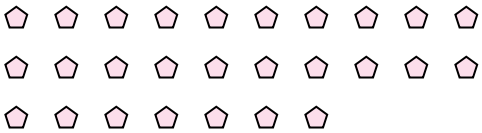

5) Quanti gruppi di 6 puoi fare con le 30 forme qui sotto?

6) Quanti gruppi di 4 puoi fare con le 16 forme qui sotto?

7) Quanti gruppi di 4 puoi fare con le 20 forme qui sotto?

8) Quanti gruppi di 9 puoi fare con le 18 forme qui sotto?

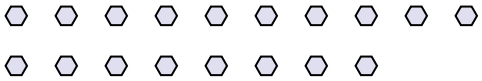

9) Quanti gruppi di 6 puoi fare con le 18 forme qui sotto?

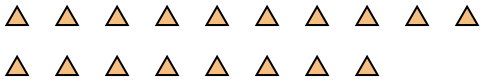

10) Quanti gruppi di 4 puoi fare con le 24 forme qui sotto?

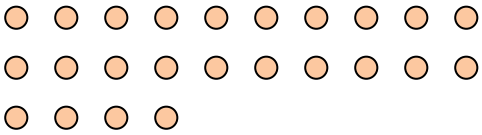

11) Quanti gruppi di 8 puoi fare con le 16 forme qui sotto?

Risposte

Es. 3

1. _____
2. _____
3. _____
4. _____
5. _____
6. _____
7. _____
8. _____
9. _____
10. _____
11. _____

1-10	91	82	73	64	55	45	36	27	18	9
11	0									

Divisioni visive

Nome: **Soluzioni**

Usa le forme per risopndere alle domande.

Es) Quanti gruppi di 6 puoi fare con le 18 forme qui sotto?

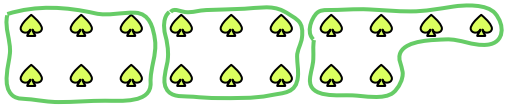

1) Quanti gruppi di 5 puoi fare con le 35 forme qui sotto?



2) Quanti gruppi di 5 puoi fare con le 40 forme qui sotto?



3) Quanti gruppi di 5 puoi fare con le 25 forme qui sotto?



4) Quanti gruppi di 9 puoi fare con le 27 forme qui sotto?

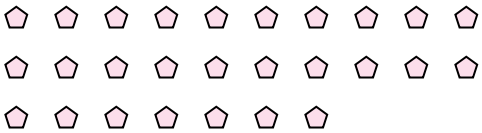

5) Quanti gruppi di 6 puoi fare con le 30 forme qui sotto?

6) Quanti gruppi di 4 puoi fare con le 16 forme qui sotto?

7) Quanti gruppi di 4 puoi fare con le 20 forme qui sotto?

8) Quanti gruppi di 9 puoi fare con le 18 forme qui sotto?

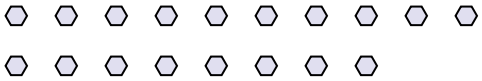

9) Quanti gruppi di 6 puoi fare con le 18 forme qui sotto?

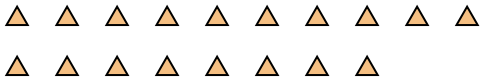

10) Quanti gruppi di 4 puoi fare con le 24 forme qui sotto?

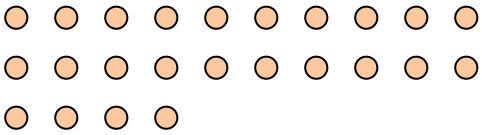

11) Quanti gruppi di 8 puoi fare con le 16 forme qui sotto?

Risposte

Es.	3
1.	7
2.	8
3.	5
4.	3
5.	5
6.	4
7.	5
8.	2
9.	3
10.	6
11.	2

1-10	91	82	73	64	55	45	36	27	18	9
11	0									