Divisioni visive

Nome:

Usa le forme per risopndere alle domande.

Es) Quanti gruppi di 6 puoi fare con le 18 forme qui sotto?

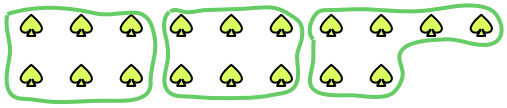

1) Quanti gruppi di 9 puoi fare con le 27 forme qui sotto?



2) Quanti gruppi di 6 puoi fare con le 24 forme qui sotto?



3) Quanti gruppi di 2 puoi fare con le 12 forme qui sotto?

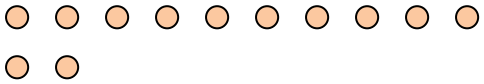

4) Quanti gruppi di 7 puoi fare con le 21 forme qui sotto?

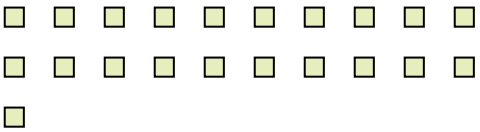

5) Quanti gruppi di 6 puoi fare con le 36 forme qui sotto?



6) Quanti gruppi di 7 puoi fare con le 21 forme qui sotto?

7) Quanti gruppi di 8 puoi fare con le 16 forme qui sotto?

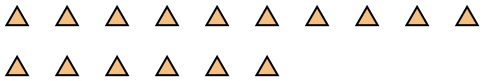

8) Quanti gruppi di 9 puoi fare con le 27 forme qui sotto?

9) Quanti gruppi di 2 puoi fare con le 8 forme qui sotto?

10) Quanti gruppi di 3 puoi fare con le 9 forme qui sotto?

11) Quanti gruppi di 8 puoi fare con le 32 forme qui sotto?



Risposte

Es. 3

1. _____
2. _____
3. _____
4. _____
5. _____
6. _____
7. _____
8. _____
9. _____
10. _____
11. _____

1-10	91	82	73	64	55	45	36	27	18	9
11	0									

Divisioni visive

Nome: **Soluzioni**

Usa le forme per risopndere alle domande.

Es) Quanti gruppi di 6 puoi fare con le 18 forme qui sotto?

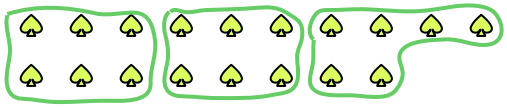

1) Quanti gruppi di 9 puoi fare con le 27 forme qui sotto?



2) Quanti gruppi di 6 puoi fare con le 24 forme qui sotto?



3) Quanti gruppi di 2 puoi fare con le 12 forme qui sotto?

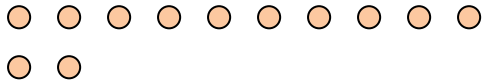

4) Quanti gruppi di 7 puoi fare con le 21 forme qui sotto?

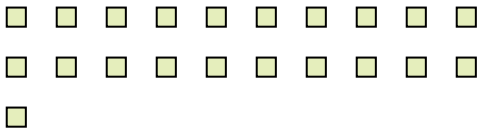

5) Quanti gruppi di 6 puoi fare con le 36 forme qui sotto?



6) Quanti gruppi di 7 puoi fare con le 21 forme qui sotto?

7) Quanti gruppi di 8 puoi fare con le 16 forme qui sotto?

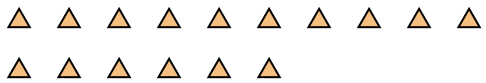

8) Quanti gruppi di 9 puoi fare con le 27 forme qui sotto?

9) Quanti gruppi di 2 puoi fare con le 8 forme qui sotto?

10) Quanti gruppi di 3 puoi fare con le 9 forme qui sotto?

11) Quanti gruppi di 8 puoi fare con le 32 forme qui sotto?



Risposte

Es.	3
1.	3
2.	4
3.	6
4.	3
5.	6
6.	3
7.	2
8.	3
9.	4
10.	3
11.	4

1-10	91	82	73	64	55	45	36	27	18	9
11	0									